МИНИСТЕРСТВО СЕЛЬСКОГО ХОЗЯЙСТВА
РОССИЙСКОЙ ФЕДЕРАЦИИ

УТВЕРЖДАЮ
Статс -секретарь-
заместитель Министра
сельского хозяйства
Российской Федерации

_____А.В.Петриков

«___»_____2014г.

Экзаменационные билеты для приёма органами гостехнадзора теоретического экзамена по правилам дорожного движения на право управления самоходными машинами

(2 издание, переработанное и дополненное)

Москва
ФГБНУ «Росинформагротех»
2014

БИЛЕТ 1

1 **Являются ли тротуары и обочины элементом дороги?**

1. Являются.
2. Являются только обочины.
3. Не являются.

2 **Транспортные средства проедут перекресток в следующем порядке:**

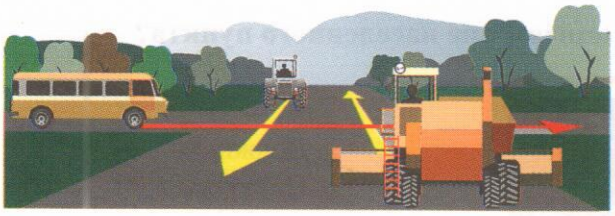

1. Автобус, трактор, комбайн.
2. Комбайн, автобус, трактор.
3. Комбайн, одновременно с ним трактор, автобус.

3 **В каком месте должен остановиться водитель самоходной машины в случаях, когда движение через переезд запрещено?**

1. Не ближе 5 м до ближайшего рельса.
2. Не ближе 10 м до ближайшего рельса.
3. Непосредственно перед железнодорожным переездом.

4 **Что обозначает данная вертикальная разметка?**

1. Край проезжей части.
2. Радиус поворота.
3. Боковые поверхности ограждений дорог на закруглениях малого радиуса, крутых спусках, других опасных участках.

5 **По какой траектории водитель правильно выполнит разворот?**

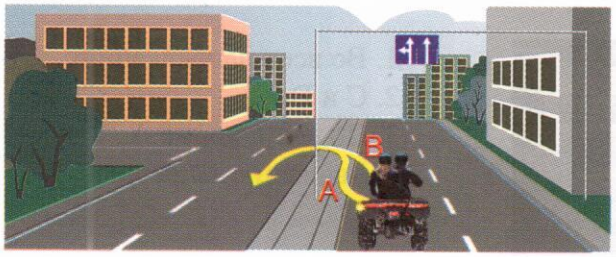

1. А.
2. В.
3. По любой.

6 **Что означают данные знаки?**

1. Парковочное место для мотоколясок и автомобилей, на которых установлен опознавательный знак «Инвалид».
2. Парковочное место, кроме мотоколясок и автомобилей, на которых установлен опознавательный знак «Инвалид».

7 **Должны ли Вы уступить дорогу пешеходам вне населенного пункта?**

1. Должны.
2. Не должны.

8 **Разрешено ли движение по данной полосе?**

1. Разрешено.
2. Запрещено.

9 **Как должен поступить водитель самоходной машины при выезде на дорогу в данной ситуации?**



1. Выехав на дорогу, пропустить движущихся по ней животных и погонщика.
2. Выехать на дорогу, не уступая животным и погонщику.

10 **В каких направлениях разрешено продолжить движение?**



1. Во всех направлениях.
2. C и D.
3. По всем, кроме A.
4. Движение запрещено.

11 **Разрешена ли водителю самоходной машины остановка в данном месте?**



1. Разрешена.
2. Запрещена.

12 **На каком расстоянии до пересечения дорог устанавливается этот знак вне населенного пункта?**

1. 20 – 50 м.
2. 50 – 100 м.
3. 100 – 150 м.
4. 150 – 300 м.

13 **Обязан ли водитель включать указатели поворота, выезжая с бензоколонки?**

1. Обязан.
2. Не обязан.
3. По своему усмотрению.

14 **Как Вы должны поступить в данной ситуации?**

1. Снизить скорость перед пешеходным переходом.
2. Обязаны пропустить слепых пешеходов, подающих сигнал белой тростью.
3. Продолжить движение, так как горит зеленый, разрешающий, сигнал светофора.

15 **Чем необходимо руководствоваться, если значения временных дорожных знаков и линий разметки противоречат друг другу?**

1. Требованиями линий разметки.
2. Требованиями временных дорожных знаков.
3. Правила эту ситуацию не регламентируют.

16 **Должен ли водитель трактора уступить дорогу трамваю, приближающемуся слева?**



1. Должен.
2. Не должен.

17 **Что означает желтый мигающий сигнал светофора?**



1. Перекресток считается нерегулируемым.
2. Скоро включится красный сигнал светофора.
3. Скоро включится зеленый сигнал светофора.

18 **Водитель какого транспортного средства должен проехать первым?**



1. Водитель трактора.
2. Водитель грузового автомобиля.

19 **Какое транспортное средство первым проедет перекресток?**

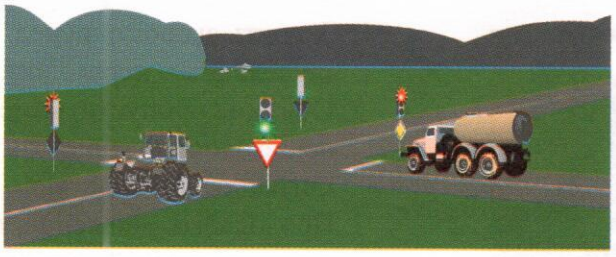

1. Автомобиль.
2. Самоходная машина.

20 **Где указана дистанция между транспортными средствами?**

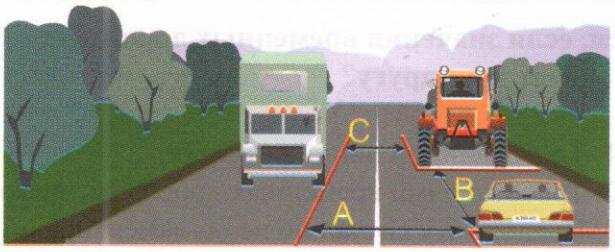

1. А и С.
2. В.
3. А, В и С.

БИЛЕТ 2

1 **На каком рисунке изображен регулируемый перекресток?**



1. A.
2. B.
3. C.
4. A и B.

2 **Дает ли преимущество перед другими участниками движения включенный проблесковый маячок оранжевого или желтого цвета?**

1. Дает.
2. Не дает.

3 **Вы намерены проехать перекресток в прямом направлении.**

1. Проедете перекресток первым.
2. Уступите дорогу трамваю.

4 **Должен ли водитель самоходной машины уступить дорогу пешеходам при повороте налево?**



1. Должен.
2. Не должен.

5 **Какой знак означает дорогу с односторонним движением?**



1. A.
2. B.
3. C.
4. D.

БИЛЕТ 2

6 **Разрешено ли продолжение движения через железнодорожный переезд при открытом шлагбауме и запрещающем сигнале светофора?**

1. Разрешено, если Вы убедились в отсутствии приближающегося поезда.
2. Запрещено.

7 **Должен ли водитель трактора уступить дорогу грузовому автомобилю?**

1. Должен.
2. Не должен.

8 **Последним перекресток проедет:**

1. Гужевая повозка.
2. Комбайн.
3. Внедорожное мотосредство.

9 **По какой траектории водитель самоходной машины может объехать препятствие?**

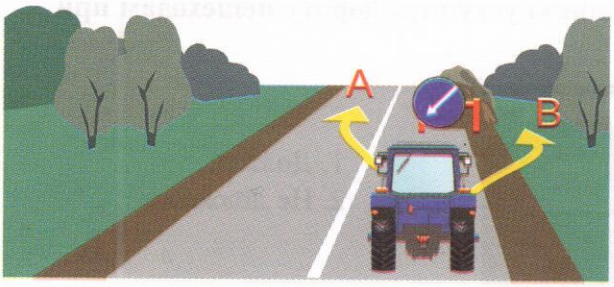

1. По траектории А.
2. По траектории В.
3. По любой.

10 **Разрешается ли превышение установленной полной массы внедорожного мототранспортного средства?**

1. Разрешается.
2. Запрещается.
3. Разрешается при движении со скоростью не более 10 км/ч.

БИЛЕТ 2

11 **Какие знаки запрещают движение тракторов и самоходных машин?**



1. A и B.
2. B и C.
3. C и D.
4. Все, кроме D.
5. Только C.

12 **Разрешен ли разворот на участках дорог, обозначенных этим знаком?**

1. Разрешен только в населенных пунктах.
2. Разрешен только при видимости дороги более 100 м.
3. Не разрешен.

13 **Разрешено ли движение задним ходом на мосту?**

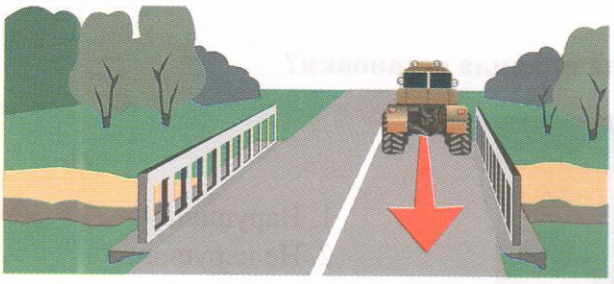

1. Разрешено.
2. Запрещено.
3. По усмотрению водителя.

14 **Разрешен ли Вам обгон в данной ситуации?**

1. Да.
2. Да, если обгон будет завершен до перекрестка.
3. Нет.

15 **Должны ли Вы уступить дорогу пешеходам, идущим к остановившемуся на остановке трамваю?**



1. Должны.
2. Не должны.

БИЛЕТ 2

16 **Правильно ли остановился водитель самоходной машины?**

1. Правильно.
2. Неправильно.

17 **Когда могут применяться звуковые сигналы при движении вне населенных пунктах?**



1. Только для предупреждения других водителей об обгоне.
2. Для предотвращения дорожно-транспортного происшествия.
3. Верно п.1, 2.

18 **Нарушил ли водитель мотовездехода правила остановки?**



1. Нарушил.
2. Не нарушил.

19 **Должны ли Вы уступить дорогу легковому автомобилю?**



1. Должны.
2. Не должны.

20 **По какой траектории Вы можете совершить разворот?**



1. А.
2. В.
3. А и В.

БИЛЕТ 3

1 **На каких рисунках изображён перекрёсток?**

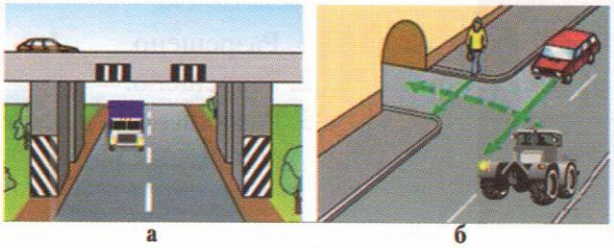

а б

1. На левом (а).
2. На правом (б).
3. На обоих.
4. Ни на одном.

2 **Разрешено ли водителю мотовездехода остановиться в данном месте?**

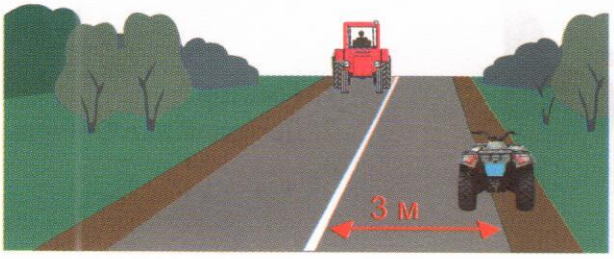

1. Разрешено.
2. Запрещено.

3 **Разрешено ли водителю самоходной машины продолжить движение прямо?**



1. Разрешено.
2. Запрещено.
3. Разрешено, если он обслуживает предприятия, находящиеся в обозначенной зоне, или граждан, проживающих в обозначенной зоне.

4 **На каком расстоянии от неисправного транспортного средства водитель должен выставить знак аварийной остановки вне населенного пункта?**



1. Не менее 15 м.
2. Не менее 30 м.
3. Не менее 40 м.
4. Не менее 50 м.

5 **Бело-лунный сигнал светофора на железнодорожном переезде:**

1. Разрешает движение.
2. Разрешает движение при отсутствии приближающегося к переезду поезда.
3. Запрещает движение.

БИЛЕТ 3

6 **Разрешено ли поставить на стоянку самоходную машину в данном месте?**



1. Разрешено.
2. Запрещено.
3. Разрешено для проведения ремонтных работ.

7 **Кто проедет перекресток первым?**

1. Трактор.
2. Легковой автомобиль.

8 **Что означает данный знак?**



1. Остановка запрещена.
2. Стоянка запрещена.
3. Стоянка запрещена по четным числам месяца.
4. Стоянка запрещена по нечетным числам месяца.

9 **Разрешено ли водителю самовольно открывать шлагбаум?**

1. Разрешено.
2. Запрещено.
3. По усмотрению водителя, если он убедился в отсутствии приближающего поезда.

10 **Разрешено ли водителю самоходной машины остановиться в данном месте?**

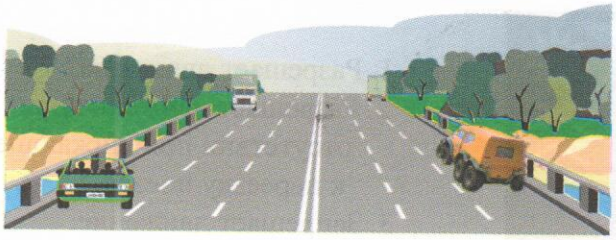

1. Разрешено.
2. Запрещено.

БИЛЕТ 3

11 **Что означает данная разметка?**

1. На дороге три полосы для движения.
2. Дорога с полосой для реверсивного движения.

12 **На каком расстоянии должен устанавливаться повторный знак, если переезд хорошо просматривается при видимости более 300 м?**



1. Не менее 10 м.
2. Не менее 20 м.
3. Не менее 50 м.

13 **Какие знаки означают выезд на дорогу с односторонним движением?**

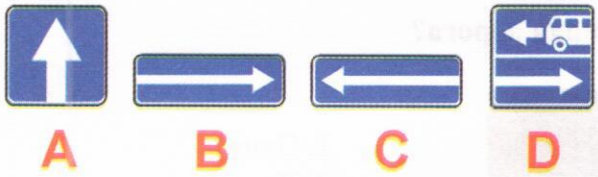

1. A.
2. B.
3. B и C.
4. C и D.

14 **Должен ли водитель самоходной машины уступить дорогу трамваю?**



1. Должен.
2. Не должен.

15 **Какие внешние осветительные приборы должны быть включены на буксируемом транспортном средстве?**

1. Ближний свет фар.
2. Габаритные огни.
3. Аварийная сигнализация.

БИЛЕТ 3

16 **В каких направлениях разрешено продолжить движение?**

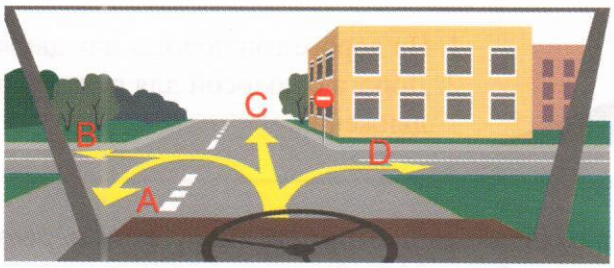

1. B и D.
2. B, C, D.
3. В любых, кроме C.

17 **Разрешено ли водителю самоходной машины продолжить движение по дороге, обозначенной данным знаком?**



1. Разрешено.
2. Запрещено.
3. Разрешено в крайнем правом ряду.

18 **Сколько проезжих частей имеет данная дорога?**

1. Одну.
2. Две.
3. Четыре.

19 **Обязаны ли Вы уступить дорогу автомобилю с включенным проблесковым маячком синего цвета и специальным звуковым сигналом?**



1. Обязаны.
2. Не обязаны.

20 **Чем должны руководствоваться водители и пешеходы, если сигналы регулировщика противоречат сигналам светофора, дорожным знакам и разметке?**

1. Сигналами регулировщика.
2. Знаками и разметкой.
3. Сигналами светофора.

БИЛЕТ 4

1 Что означает этот знак?

1. Место для разворота.
2. Зона для разворота - 15 м.
3. Зона, в которой разворот запрещен.

2 В каком месте Вы должны остановиться?



1. У знака «Движение без остановки запрещено».
2. За 5 м до ближайшего рельса.
3. За 10 м до ближайшего рельса.

3 Что обозначает данная вертикальная разметка?



1. Ограничение габаритной высоты транспортных средств.
2. Нижний край моста.

4 Должен ли водитель самоходной машины уступить дорогу мотоциклу?

1. Должен.
2. Не должен.

5 Разрешено ли водителю трактора с включенным маячком оранжевого цвета совершить маневр в техническом разрыве разделительной полосы?



1. Разрешено.
2. Запрещено, так как любое движение по автомагистрали тракторам запрещено.
3. Разрешено при условии обеспечения безопасности дорожного движения.

БИЛЕТ 4

6 **В каком месте запрещена остановка транспортных средств?**

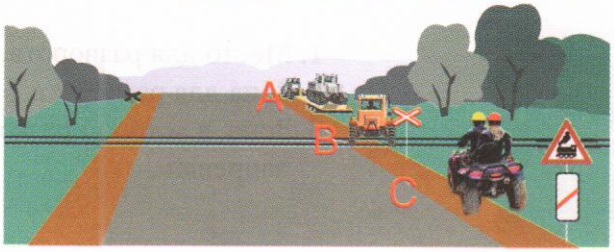

1. А.
2. В.
3. В и С.
4. Во всех местах.

7 **На каком расстоянии до опасного участка дороги в населенном пункте устанавливаются эти знаки?**

1. 15 – 20 м.
2. 50 – 100 м.
3. 100 – 150 м.
4. 150 – 300 м.

8 **Должна ли самоходная машина уступить дорогу грузовому автомобилю?**

1. Должна.
2. Не должна.

9 **Разрешено ли Вам начать обгон идущего впереди транспортного средства в данной ситуации?**

1. Разрешено.
2. Запрещено.

10 **При каком сигнале светофора водителю разрешено закончить разворот?**



1. При зеленом.
2. При красном.
3. При любом.

БИЛЕТ 4

11 **Разрешена ли водителю самоходной машины остановка в данном месте?**



1. Да.
2. Нет.

12 **По какой траектории Вы можете продолжить движение?**



1. Только А.
2. А и С.
3. А и В.
4. По любой.

13 **Выезд со двора или с другой прилегающей территории считается:**

1. Равнозначным перекрестком.
2. Неравнозначным перекрестком.
3. Не считается перекрестком.

14 **Преимущество при движении имеет:**

1. Легковой автомобиль.
2. Мотовездеход.

15 **Что обязан контролировать водитель перед началом и во время перевозки грузов?**

1. Размещение, крепление и состояние груза во избежание его падения.
2. Что груз не создаст помех для движения.
3. Оба перечисленных требования.

БИЛЕТ 4

16 **Разрешено ли совершить разворот в этом месте?**

1. Разрешено.
2. Запрещено, так как пересекается сплошная линия.

17 **Разрешена ли водителю самоходной машины стоянка в данном месте?**



1. Разрешена.
2. Запрещена.

18 **Кто имеет преимущество при движении?**



1. Трамвай.
2. Трактор.

19 **Должен ли водитель при движении по данному участку дороги включить левый указатель поворота?**



1. Должен.
2. Не должен, так как сигнал введет в заблуждение других участников движения.

20 **Разрешено ли движение задним ходом на перекрестке?**

1. Разрешено.
2. Разрешено лишь при отсутствии попутных и встречных транспортных средств.
3. Запрещено.

БИЛЕТ 5

1 Количество полос для движения на проезжей части определяется:

1. Только разметкой.
2. Только соответствующими знаками.
3. Разметкой или знаками, а если их нет, то самими водителями.

2 Кто должен уступить дорогу при взаимном перестроении?



1. Водитель комбайна.
2. Водитель трактора.

3 Какие знаки устанавливают непосредственно перед железнодорожным переездом?

1.Только А.
2. Только Б.
3. Только В.
4. А и В.

4 Должны ли Вы уступить дорогу встречному грузовому автомобилю?



1. Да.
2. Нет.

5 Эта разметка обозначает:



1. Номер дороги или маршрута.
2. Рекомендуемую скорость движения.
3. Дублирование соответствующего дорожного знака.

БИЛЕТ 5

6 **Разрешено ли водителю самоходной машины развернуться на перекрестке?**

1. Разрешено.
2. Запрещено.

7 **Какими действиями должно быть обозначено транспортное средство при дорожно-транспортном происшествии?**



1. Включить аварийную сигнализацию.
2. Выставить знак аварийной остановки.
3. Включить аварийную сигнализацию, а также выставить знак аварийной остановки.

8 **Что должен предпринять водитель, покидая свое место и оставляя транспортное средство в этой ситуации?**

1. Принять меры, исключающие самопроизвольное движение транспортного средства.
2. Принять меры, исключающие использование транспортного средства посторонними лицами в отсутствие водителя.
3. Верно п. 1, 2.

9 **На каком расстоянии от транспортного средства должен быть выставлен знак аварийной остановки в населенном пункте?**

1. Не менее 10 м.
2. Не менее 15 м.
3. Не менее 30 м.
4. Не менее 50 м.

10 **Каким должно быть расстояние между транспортными средствами при буксировке на жесткой сцепке?**



1. Не более 4 м.
2. Не менее 4 м.
3. 4-6 м.

БИЛЕТ 5

11 **Последним перекресток проедет:**

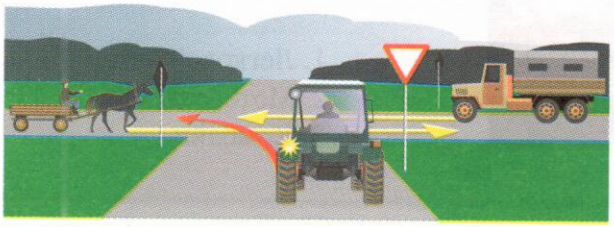

1. Грузовой автомобиль.
2. Трактор.
3. Гужевая повозка.

12 **Разрешен ли обгон в данной ситуации?**

1. Разрешен.
2. Запрещен.

13 **Что означает поднятая вверх рука водителя?**

1. Самоходная машина повернет направо.
2. Сигнал водителя о торможении.
3. Самоходная машина будет разворачиваться.

14 **Какой знак означает дорогу с полосой для маршрутных транспортных средств?**

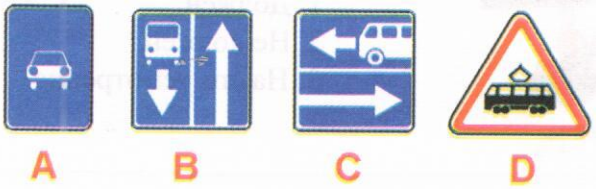

1. A.
2. B.
3. B и C.
4. A и D.

15 **В каком месте водителю транспортного средства разрешена остановка?**



1. A (за перекрестком).
2. B (напротив перекрестка).
3. C (перед перекрестком).
4. B любом.
5. A и B.

БИЛЕТ 5

16 **Какое транспортное средство проедет перекресток вторым?**



1. Легковой автомобиль.
2. Мотовездеход.
3. Комбайн.

17 **В каком месте разрешен разворот?**

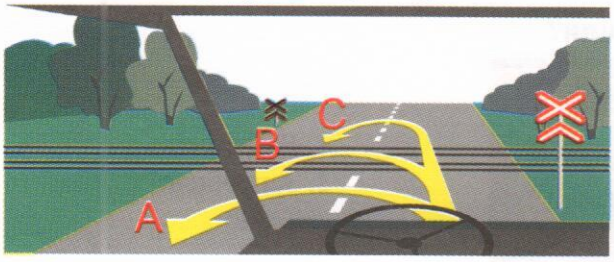

1. А.
2. В.
3. С.
4. А и С.

18 **В каких направлениях разрешено продолжить движение?**

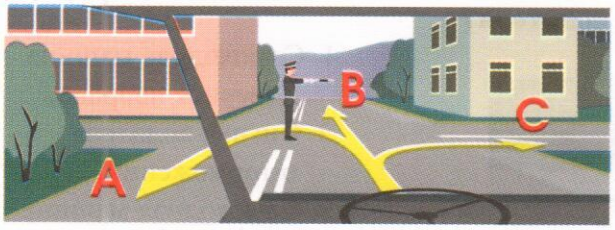

1. Во всех направлениях.
2. В и С.
3. Движение запрещено.

19 **Должен ли водитель транспортного средства подать сигнал поворота при выезде с поля на укатанную дорогу?**

1. Должен.
2. Не должен.
3. На его усмотрение.

20 **В каком направлении разрешено продолжить движение на перекрестке?**



1. В любом.
2. В и С.
3. С.

БИЛЕТ 6

1 **Разрешается ли водителю пользоваться мобильным телефоном во время движения?**

1. Разрешается.
2. Разрешается только при использовании технического устройства, позволяющего вести переговоры без использования рук.
3. Разрешается только при движении со скоростью менее 40 км/ч.
4. Запрещается.

2 **Разрешено ли водителю транспортного средства продолжить движение в прямом направлении?**



1. Разрешено.
2. Запрещено.
3. Разрешено при обслуживания предприятий в этой зоне.

3 **В каких направлениях можно продолжить движение?**

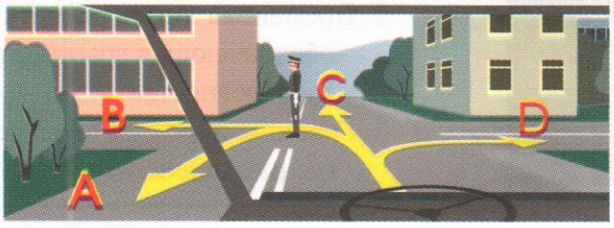

1. В любом.
2. C и D.
3. Во всех, кроме A.

4 **Последним перекресток проедет:**



1. Грузовой автомобиль.
2. Легковой автомобиль.
3. Мотовездеход.
4. Гужевая повозка.

5 **Что означает данная комбинация знаков?**

1. Указывает, что в зоне железнодорожного переезда осуществляется фиксация нарушений ПДД в автоматическом режиме.
2. Указывает, что в зоне железнодорожного переезда запрещаются фото- и видеосъемка.

БИЛЕТ 6

6 **Что означает данный знак, установленный вне населенного пункта?**



1. Впереди опасный поворот.
2. Через 50-100 м опасный поворот.
3. Через 150-300 м опасный поворот.

7 **Разрешено ли продолжить движение через железнодорожный переезд?**



1. Разрешено при отсутствии приближающегося поезда.
2. Запрещено.

8 **Что обозначает оранжевая линия разметки?**



1. Границы полос в пределах перекрестка.
2. Временная линия разметки, обозначающая границы полос на перекрестке.
3. Границы полос на перекрестке, где разрешено перестроение.

9 **Какое транспортное средство первым проедет перекресток?**

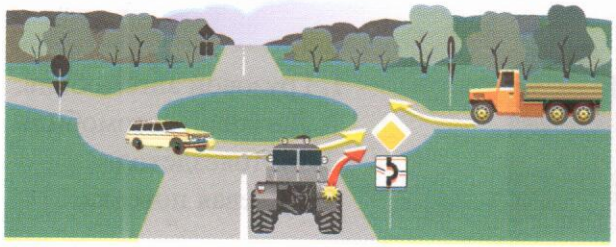

1. Легковой автомобиль.
2. Трактор.
3. Грузовой автомобиль.

10 **Имеет ли право водитель самоходной машины, включив указатели поворота, сразу начать движение?**



1. Имеет, так как гужевая повозка движется медленнее трактора, а он включил указатель поворота.
2. Должен пропустить гужевую повозку, так как включение указателя поворота не дает преимущества перед другими участниками движения.

БИЛЕТ 6

11 **В каком месте Вы должны остановиться перед перекрестком?**



1. Перед знаком.
2. Перед краем пересекаемой проезжей части.

12 **В каких случаях водителю разрешено выезжать на среднюю полосу движения?**



1. При обгоне.
2. При объезде.
3. Для поворота налево или разворота.
4. Во всех перечисленных случаях.

13 **Разрешено ли транспортному средству в данном месте выехать на поле?**



1. Разрешено при отсутствии приближающего поезда.
2. Запрещено.

14 **Разрешено ли водителю самоходной машины остановиться на краю тротуара, граничащего с проезжей частью?**

1. Разрешено.
2. Запрещено.
3. Разрешено, если не будет создано помех движению пешеходов.

15 **Разрешено ли буксировать трактор с недействующей тормозной системой, если его масса превышает половину массы Вашего транспортного средства?**

1. Разрешено.
2. Разрешено на жесткой сцепке при скорости не более 30 км/ч.
3. Запрещено.

БИЛЕТ 6

16 **В какой последовательности проедут перекресток транспортные средства?**



1. Трактор, затем грузовой автомобиль.
2. Трактор первым выезжает на перекресток, а после проезда грузового автомобиля заканчивает разворот.

17 **Разрешено ли въехать на пешеходный переход, если за ним образовался затор?**

1. Разрешено.
2. Запрещено.
3. По усмотрению водителя.

18 **Разрешено ли проехать через железнодорожный переезд, если скорость движения транспортного средства менее 8 км/ч?**



1. Разрешено.
2. Запрещено.
3. Разрешено только с разрешения начальника дистанции пути железной дороги.

19 **Каким способом разрешена буксировка механических транспортных средств в гололед?**

1. На гибкой сцепке.
2. На жесткой сцепке.
3. Буксировка запрещена.

20 **Нарушают ли пешеходы ПДД, двигаясь по проезжей части?**

1. Нарушают.
2. Не нарушают.

БИЛЕТ 7

1 **Как Вы должны поступить в данной ситуации?**



1. Остановиться у стоп-линии, затем продолжить движение.
2. Продолжить движение без остановки.

2 **Как должен поступить водитель трактора в данной ситуации?**



1. Продолжить движение.
2. Снизить скорость, при необходимости остановиться и пропустить группу детей.

3 **Разрешено ли водителю мотовездехода остановиться в данном месте?**



1. Да.
2. Нет.

4 **Разрешено ли Вам сквозное движение в обозначенной знаком зоне?**

1. Разрешено.
2. Запрещено.

5 **Разрешается ли Вам продолжить движение, если регулировщик поднял руку вверх после того, как Вы въехали на перекресток?**



1. Не разрешается.
2. Разрешается, только если Вы поворачиваете направо.
3. Разрешается.

БИЛЕТ 7

6 **Требования каких знаков вступают в силу с места, где они установлены?**



1. Только А.
2. Только Б.
3. Только В.
4. А и Б.

7 **Что должен соблюдать водитель состава транспортных средств длиной более 7 м?**

1. Ограничение скоростного режима.
2. Дистанцию до движущегося впереди транспортного средства, достаточную для обгона другими транспортными средствами.
3. Расположение транспортного средства на проезжей части.

8 **Что обозначает разметка «А-100», нанесенная на проезжую часть дороги?**



1. Расстояние до ближайшего перекрестка.
2. Расстояние до ближайшего населенного пункта.
3. Номер дороги или маршрута.

9 **Какое действие является необязательным при остановке на неосвещенных участках дорог в темное время суток?**

1. Включить габаритные огни.
2. Включить фары ближнего света.
3. Выставить знак аварийной остановки.

10 **Кто из водителей нарушил правила стоянки?**



1. Водитель автомобиля.
2. Водитель трактора.
3. Никто не нарушил.

БИЛЕТ 7

11 **Обязан ли водитель, начиная движение с обочины дороги, влючить указатели поворота?**



1. Обязан.
2. Не обязан.
3. Обязан при наличии рядом других транспортных средств.

12 **Какая часть дороги является проезжей частью?**

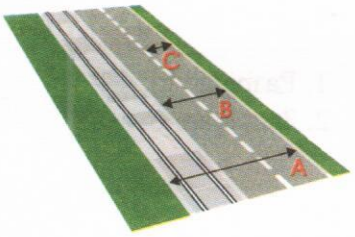

1. Только А.
2. Только В.
3. Только С.

13 **Разрешено ли движение задним ходом через железнодорожный переезд?**



1. Разрешено.
2. Запрещено.

14 **При повороте налево водитель трактора:**

1. Имеет право проехать первым.
2. Должен пропустить трамвай.

15 **На каком рисунке изображен знак железнодорожного переезда со шлагбаумом?**

1. А.
2. А и С.
3. В.
4. С.

БИЛЕТ 7

16 **Каким способом должно быть обозначено буксируемое транспортное средство при неисправной аварийной световой сигнализации?**



1. Должны быть включены внешние световые приборы.
2. На задней части должен быть закреплен знак аварийной остановки.
3. На задней части должен быть закреплен знак «Прочие опасности».

17 **Разрешено ли водителю мотовездехода остановиться в данном месте в населенном пункте?**



1. Разрешено.
2. Запрещено.

18 **На каком расстоянии необходимо переключить дальний свет фар на ближний?**

1. Не менее чем за 150 м.
2. Не менее чем за 300 м.
3. По усмотрению водителя.

19 **Какое транспортное средство имеет преимущество движения?**



1. Трактор.
2. Автобус, начинающий движение от обозначенной остановки.

20 **Что нарушает водитель самоходного комбайна при движении по дороге?**



1. Правил не нарушает.
2. Движется с малой скоростью.
3. Не занял соответствующую полосу для движения.

БИЛЕТ 8

1 **Обязан ли водитель трактора уступить дорогу грузовому автомобилю при его перестроении?**



1. Обязан.
2. Не обязан.

2 **Разрешено ли совершить обгон в данной ситуации?**

1. Разрешено.
2. Запрещено.

3 **Разрешено ли водителю трактора объехать стоящий перед железнодорожным переездом легковой автомобиль?**



1. Разрешено.
2. Запрещено.

4 **С какой полосы Вы должны совершить поворот налево?**

1. С крайней правой.
2. Со средней.
3. С любой.

5 **В каких направлениях разрешено продолжить движение?**



1. Только А.
2. Только Б.
3. Только В.
4. Во всех направлениях.

БИЛЕТ 8

6 **Сколько перекрестков изображено на рисунке?**

1. Один.
2. Два.
3. Четыре.

7 **Действие каких знаков распространяется только до ближайшего перекрестка?**

А Б В Г

1. А и В.
2. Б и Г.
3. В и Г.
4. Всех указанных знаков.

8 **На каком рисунке изображена дорога с разделительной полосой?**

А Б

1. На рисунке А
2. На рисунке Б.
3. На обоих рисунках.
4. Ни на одном.

9 **Разрешено ли водителю транспортного средства выехать на железнодорожный переезд, если за ним образовался затор?**



1. Разрешено.
2. Запрещено.
3. Разрешено при отсутствии поезда в пределах видимости.

10 **Разрешен ли разворот на указанном участке дороги?**

1. Разрешен.
2. Не разрешен.
3. Разрешен только при видимости дороги более 100 м.

БИЛЕТ 8

11 **Должен ли водитель самоходной машины уступить дорогу трамваю?**



1. Должен.
2. Не должен.

12 **Транспортые средства проедут перекресток в следующем порядке:**



1. Трактор, трамвай, грузовой автомобиль.
2. Трамвай, трактор, грузовой автомобиль.
3. Грузовой автомобиль, трактор, трамвай.

13 **Водитель какого транспортного средства имеет преимущество при движении?**

1. Трактора.
2. Грузового автомобиля.

14 **Данная вертикальная разметка:**

1. Запрещает стоянку транспортных средств.
2. Запрещает остановку транспортных средств.
3. Обозначает бордюры на опасных участках дорог.

15 **Кто из водителей имеет преимущество в движении?**

1. Водитель трактора с включенным проблесковым оранжевым маячком.
2. Водитель легкового автомобиля с включенным проблесковым маячком синего цвета и специальным звуковым сигналом.

БИЛЕТ 8

16 **Каким должно быть расстояние между транспортными средствами при буксировке на гибкой сцепке?**

1. 2-4 м.
2. 4-6 м.
3. 6-8 м.
4. Не менее 6 м.

17 **Какие внешние световые приборы должны быть включены при въезде в тоннель?**

1. Габаритные огни.
2. Аварийная световая сигнализация.
3. Ближний или дальний свет фар.

18 **В каком месте должен остановиться водитель при запрещающем сигнале светофора?**



1. Перед перекрестком.
2. Перед пересекаемой проезжей частью.
3. Перед стоп-линией.

19 **Разрешено ли Вам в данной ситуации обогнать водителя неисправного мотоцикла на перекрестке?**

1. Разрешено.
2. Запрещено.

20 **Нарушил ли водитель правила перевозки грузов?**



1. Нарушил, так как выступающий сзади груз не обозначен знаком «Крупногабаритный груз».
2. Не нарушил.

БИЛЕТ 9

1 Первым проедет перекресток:

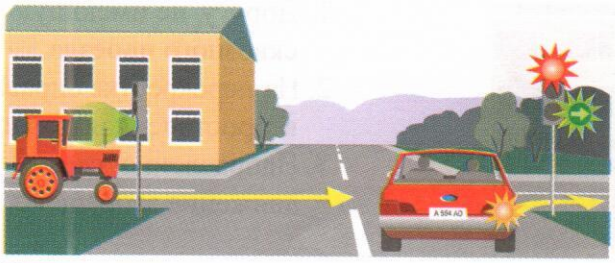

1. Легковой автомобиль.
2. Трактор.

2 Разрешена ли остановка в данном месте?

1. Разрешена.
2. Запрещена.

3 Разрешено ли продолжение движения через железнодорожный переезд?



1.Разрешено.
2. Разрешено при отсутствии приближающегося поезда.
3. Запрещено.

4 Как Вы должны поступить, если идущее впереди транспортное средство замедлило свой ход перед пешеходным переходом?

1. Продолжить движение с прежней скоростью.
2. Убедиться, что перед указанным транспортным средством нет пешеходов, затем продолжить движение.

5 Разрешен ли обгон на перекрестках ?

1. Разрешен только на нерегулируемых перекрестках.
2. Разрешен только на нерегулируемых перекрестках при движении по главной дороге.
3. Запрещен во всех случаях.

БИЛЕТ 9

6 **Что означает данный знак?**



1. Дорогу, не имеющую сквозного проезда.
2. На перекрестке справа второстепенная дорога.
3. Направление, где движение запрещено.

7 **Разрешено ли водителю мотовездехода выехать на реверсивную полосу?**



1. Разрешено.
2. Запрещено.

8 **Как должен поступить водитель трактора в данной ситуации?**

1. Совершить обгон грузового автомобиля с правой стороны.
2. Подождать пока грузовой автомобиль совершит маневр, затем продолжить движение.
3. Совершить обгон грузового автомобиля с левой стороны.

9 **Какой знак разрешает объезд препятствия только справа?**



A B C D

1. A.
2. A и B.
3. C.
4. D.

10 **В каких местах запрещена остановка транспортных средств?**

1. На обочине дороги вблизи подъема.
2. На обочине дороги при крутом спуске или подъеме.
3. На проезжей части вблизи выпуклых переломов дороги при видимости менее 100 м хотя бы в одном направлении.
4. Правильно пункт 2 и 3
5. Правильно пункт 1 и 3

БИЛЕТ 9

11 **Как должен поступить водитель трактора, если при движении вне населенного пункта за трактором скопились транспортные средства?**



1. Продолжить движение.
2. Принять как можно правее, а при необходимости остановиться и пропустить скопившиеся транспортные средства.

12 **Разрешено ли продолжить движение?**



1. Разрешено прямо и направо.
2. Разрешено в любом направлении.
3. Запрещено.

13 **В каких направлениях разрешено продолжить движение?**

1. А.
2. В.
3. С.
4. А и В.
5. В любых.

14 **Разрешено ли водителю трактора продолжить движение по данной полосе при выполнении уборочных работ?**



1. Разрешено.
2. Запрещено.

15 **Значения каких дорожных знаков отменяются сигналами светофора?**

1. Знаков приоритета.
2. Запрещающих знаков.
3. Предписывающих знаков.
4. Всех перечисленных.

БИЛЕТ 9

16 **Разрешено ли продолжить движение через перекресток прямо, если Вы не живете и не работаете в зоне действия данного знака?**



1. Разрешено.
2. Запрещено.
3. Разрешено в субботние, воскресные и праздничные дни.

17 **Должен ли водитель транспортного средства уступить дорогу автомобилю с включенным проблесковым маячком синего цвета и невключенной специальной звуковой сигнализацией?**

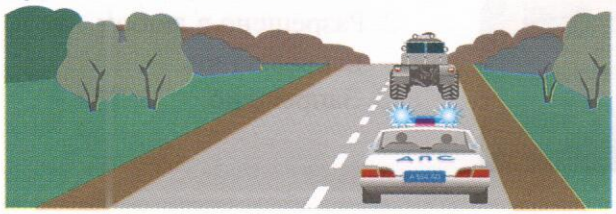

1. Должен.
2. Не должен.

18 **Что обозначают знаки?**



1. Через 500 м – опасные повороты.
2. Через 150-300 м – участок дороги с опасными поворотами протяженностью 500 м.

19 **Разрешена ли Вам подача звукового сигнала в населенном пункте?**



1. Разрешена.
2. Запрещена.
3. Разрешена для предотвращения ДТП.

20 **Должны ли водители движущихся транспортных средств в светлое время суток включать фары ближнего света?**

1. Не должны.
2. Должны.
3. Должны в населенных пунктах.

БИЛЕТ 10

1 **Разрешается ли останавливаться на полосе, обозначенной этим знаком?**



1. Разрешается.
2. Запрещается.
3. Разрешается для посадки и высадки пассажиров, если это не создаст помех маршрутным транспортным средствам.

2 **Разрешено ли Вам продолжить движение по второй полосе?**

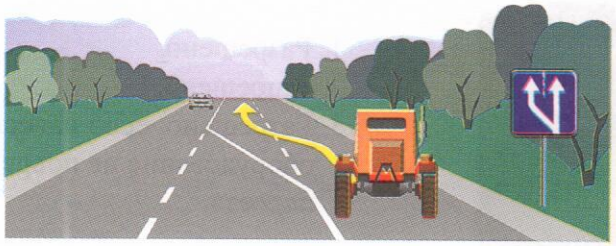

1. Разрешено.
2. Запрещено.
3. Разрешено при скорости движения более 40 км/ч.

3 **Какие маневры запрещено выполнять в местах остановок маршрутных транспортных средств?**



1. Разворот.
2. Движение задним ходом.
3. Останавливаться, если при этом будут созданы помехи маршрутным транспортным средствам.
4. Все перечисленные маневры.

4 **Что обозначает данная линия разметки?**



1. Стоп-линия.
2. Указывает место, где водитель должен при необходимости остановиться, уступая дорогу транспортным средствам, движущимся по пересекаемой дороге.

5 **В каких направлениях разрешено продолжить движение?**

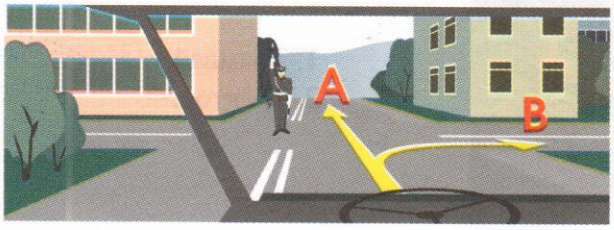

1. А и В.
2. А.
3. Запрещено во всех направлениях.

БИЛЕТ 10

6 **Разрешена ли стоянка в данном месте по нечетным числам?**



1. Разрешена.
2. Запрещена.
3. Разрешена с 19 до 21 ч.

7 **Разрешено ли водителю транспортного средства проехать через железнодорожный переезд, если навесное оборудование не фиксируется в транспортном положении?**



1. Разрешено.
2. Запрещено.
3. Разрешено, если навесное оборудование не повредит переезд.

8 **Что обозначает данная линия разметки?**



1. Искусственную неровность на проезжей части.
2. Подземный пешеходный переход.
3. Велосипедную дорожку.

9 **Какой из знаков предоставляет водителю преимущество перед встречным движением?**

1. D.
2. B и C.
3. A, C и D.
4. A.
5. Все знаки.

10 **Какое транспортное средство проедет первым?**



1. Трамвай.
2. Трактор.

БИЛЕТ 10

11 **При движении прямо Вы обязаны уступить дорогу:**



1. Легковому автомобию.
2. Гужевой повозке.
3. Всем транспортным средствам.

12 **По какой траектории водитель может совершить поворот направо?**



1. А.
2. В.
3. По любой.

13 **Как Вы должны поступить в данном случае?**



1. Продолжить движение, посигналив пешеходам.
2. Уступить дорогу пешеходам.

14 **Разрешено ли Вам обогнать трактор?**

1. Разрешено.
2. Запрещено.

15 **Разрешено ли водителю транспортного средства останавливаться перед знаком?**

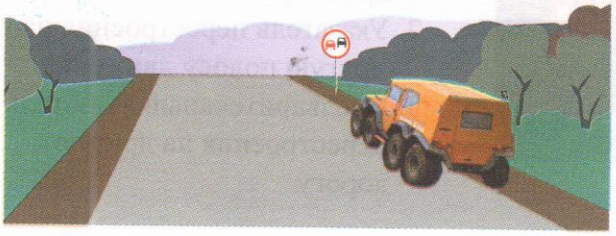

1. Разрешено.
2. Запрещено.
3. Разрешено при условии, что он не закроет знак от других водителей.

БИЛЕТ 10

16 **Должен ли водитель трактора уступить дорогу маршрутному такси, начинающему движение от тротуара вне обозначенного места остановки?**

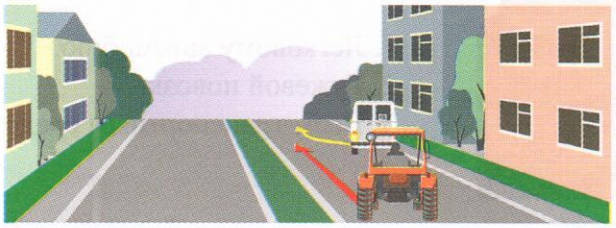

1. Должен.
2. Не должен.

17 **Разрешено ли Вам продолжить движение?**



1. Разрешено.
2. Запрещено.

18 **Как должен поступить в данной ситуации водитель самоходной машины?**

1. Проехать первым.
2. Пропустить грузовой автомобиль.

19 **Последним перекресток проедет:**

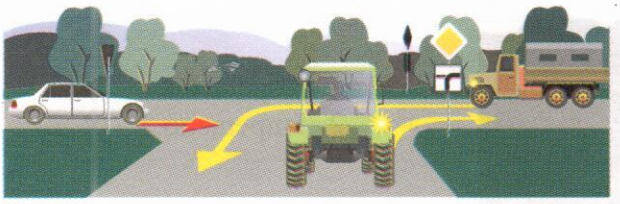

1. Легковой автомобиль.
2. Грузовой автомобиль.
3. Трактор.

20 **Что обозначает данный знак?**



1. Предварительный указатель перестроения на другую проезжую часть.
2. Указатель перестроения на другую полосу движения.
3. Предварительный указатель перестроения на другую дорогу.

БИЛЕТ 11

1 **Разрешена ли стоянка транспортного средства в данном месте?**

1. Разрешена.
2. Запрещена.

2 **Водитель какого транспортного средства правильно въезжает на перекресток с круговым движением?**



1. Мотовездехода А.
2. Трактора В.
3. Оба водителя - правильно.
4. Оба водителя - неправильно.

3 **Должны ли Вы уступить дорогу самоходной машине?**



1. Должны.
2. Не должны.

4 **В каком направлении водители транспортных средств могут продолжить движение?**



1. В любом из указанных.
2. B, C.
3. D.

5 **Какое нарушение допустил водитель комбайна при движении через мост?**



1. Соблюдение дистанции.
2. Боковой интервал.

БИЛЕТ 11

6 **Что обозначает данная вертикальная разметка?**



1. Элементы дорожных сооружений, когда эти элементы представляют опасность для движущихся транспортных средств.
2. Габаритные размеры элементов дорожных сооружений.

7 **Какой из знаков предоставляет водителю преимущество по отношению к водителям, движущимся по пересекаемой дороге?**

1. A.
2. B.
3. C.
4. D.
5. A и B.

8 **При затрудненном движении разрешено ли водителю трактора выезжать на полосу встречного движения?**

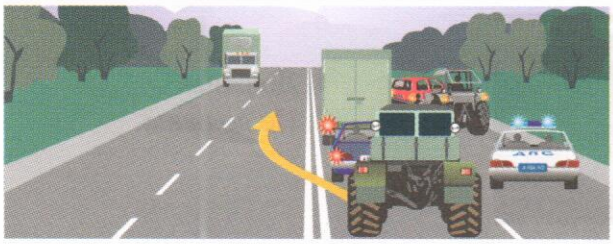

1. Разрешено.
2. Запрещено.

9 **Разрешено ли водителю трактора останавливаться в данном месте?**



1. Разрешено.
2. Запрещено.

10 **Разрешено ли водителю самоходной машины продолжить движение, если в пределах видимости приближается поезд?**



1. Разрешено.
2. Запрещено.

БИЛЕТ 11

11 **Как должно быть обозначено транспортное средство при выполнении строительных, ремонтных или уборочных работ на дороге?**



1. Включен проблесковый маячок оранжевого или желтого цвета.
2. Включен проблесковый маячок синего цвета.
3. Включен дальний свет фар.

12 **Разрешено ли водителю самоходной машины совершить обгон гужевой повозки в конце подъема?**



1. Разрешено, если нет встречного транспорта.
2. Запрещено.

13 **С какой максимальной скоростью может продолжить движение транспортное средство с разрешенной максимальной массой не более 3,5 т?**

1. 60 км/ч.
2. 70 км/ч.
3. 90 км/ч.
4. 110 км/ч.

14 **Транспортное средство с включенным проблесковым маячком оранжевого цвета проедет перекресток:**



1. Первым.
2. Вторым.
3. Третьим.

15 **Имеет ли право автомобиль с включенным проблесковым маячком продолжить движение прямо?**



1. Имеет.
2. Не имеет.

БИЛЕТ 11

16 **В каком из указанных мест можно пересечь сплошную линию разметки и остановиться?**

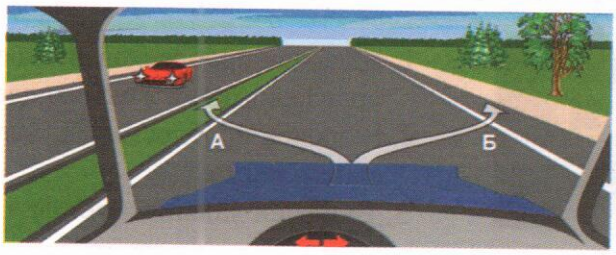

1.Только А.
2. Только Б.
3. В любом.
4. Ни в одном.

17 **Укажите очередность проезда перекрестка транспортными средствами.**

1. Легковой автомобиль одновременно с гужевой повозкой, трактор.
2. Легковой автомобиль, трактор, гужевая повозка.
3. Трактор, гужевая повозка, легковой автомобиль.

18 **Должен ли водитель мотовездехода уступить дорогу легковому автомобилю?**

1. Должен.
2. Не должен.

19 **Какой знак должен быть закреплен на задней части буксируемого механического транспортного средства при отсутствии или неисправности аварийной сигнализации?**



1. А.
2. Б.
3. В.

20 **Что означает термин «Недостаточная видимость»?**

1. Видимость дороги менее 100 м вблизи опасных поворотов и переломов продольного профиля дороги.
2. Видимость дороги менее 300 м в условиях тумана, дождя, снегопада и т. п., а также в сумерки.
3. Видимость дороги менее 150 м в ночное время суток.

БИЛЕТ 12

1 **Где Вы должны остановиться в данной ситуации при отсутствии других транспортных средств?**



1. У знака.
2. У стоп-линии.
3. Проехать перекресток без остановки.

2 **По какой траектории водителю трактора следует повернуть направо в данной ситуации?**



1. А.
2. В.
3. По любой.

3 **Что обозначают прерывистые линии на перекрестке?**

1. Обязательное направление движения на перекрестке.
2. Границы полос движения в пределах перекрестка.

4 **Два попеременно мигающих красных сигнала светофора:**



1. Разрешают движение.
2. Запрещают движение.
3. Разрешают движение с особой осторожностью.

5 **Что означает термин «Ограниченная видимость»?**

1. Видимость дороги, ограниченная рельефом местности, геометрическими параметрами дороги или другими объектами.
2. Видимость дороги менее 300 м в условиях тумана, дождя, снегопада, а также в сумерки.
3. Видимость дороги менее 150 м в ночное время.

БИЛЕТ 12

6 **Что обозначает разметка в виде треугольника на полосе движения?**



1. Вы въезжаете на опасный участок дороги.
2. Предупреждает о приближении к месту, где нужно уступить дорогу.
3. Показывает место, где необходимо остановиться.

7 **Что обозначает желтая линия разметки?**



1. Место, где запрещена стоянка.
2. Место, где запрещена остановка.
3. Место остановки маршрутных транспортных средств.

8 **Выполнение какого маневра запрещает Вам данная линия разметки?**



1. Только обгона.
2. Только объезда.
3. Только разворота.
4. Ничего не запрещает.

9 **Какие знаки информируют Вас, что на данной дороге действуют требования ПДД, устанавливающие порядок движения в населенных пунктах?**

1. Только А.
2. Только А и Б.
3. Все.

10 **Разрешен ли Вам разворот в указанном месте?**

1. Разрешен.
2. Не разрешен.

БИЛЕТ 12

11 **О чем предупреждает установленный знак?**



1. При въезде в тоннель будет затруднен разъезд со встречными транспортными средствами.
2. Отсутствует искусственное освещение.
3. Очередность движения регулируется светофором.

12 **О чем предупреждает данная линия разметки с изображением стрелки?**



1. О приближении к сужению проезжей части.
2. О возможности перестроения на другую полосу движения.
3. О приближении к перекрестку с поворотом направо.

13 **Разрешено ли водителю самоходной машины совершить обгон гужевой повозки?**

1. Разрешено.
2. Запрещено.

14 **Разрешена ли остановка транспортного средства в указанном месте?**

1. Разрешена.
2. Запрещена.

15 **При движении прямо нужно ли уступать дорогу встречному автомобилю, поворачивающему налево?**

1. Нужно.
2. Не нужно.

БИЛЕТ 12

16 **Должны ли Вы уступить дорогу грузовому автомобилю?**



1. Да.
2. Нет.

17 **Разрешено ли водителю развернуться в тоннеле?**



1. Разрешено.
2. Запрещено.

18 **Какими знаками обозначают участки, на которых необходимо уступать дорогу пешеходам?**

А

Б

В

1. Только А и Б.
2. Только Б и В.
3. Всеми знаками.

19 **Разрешено ли водителю трактора обогнать гужевую повозку?**



1. Разрешено.
2. Запрещено.

20 **На каком расстоянии устанавливается последняя комбинация знаков при недостаточной обзорности переезда вне населенного пункта ?**

1. 150–300 м.
2. 100–150 м.
3. 50–100 м.

БИЛЕТ 13

1 **На каком рисунке изображено механическое транспортное средство?**



1. A, B, C.
2. B, C, D.
3. B.
4. На всех.

2 **Какие знаки предоставляют Вам преимущество при проезде нерегулируемых перекрестков?**

1. Только А.
2. А, В.
3. Все.

3 **Какой маневр намеревается выполнить водитель транспортного средства?**

1. Обгон.
2. Перестроение с дальнейшим опережением.
3. Объезд.

4 **Какими должны быть действия водителя трактора при перестроении?**



1. Имеет право проехать первым, чтобы объехать препятствие.
2. Должен пропустить автомобиль, движущийся по соседней полосе.

5 **Что означает данный сигнал светофора?**

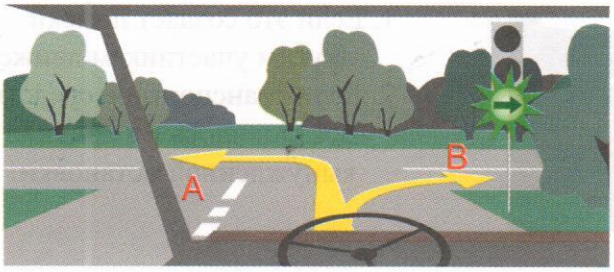

1. Разрешает движение в любом направлении.
2. Разрешает движение только в направлении B.
3. Запрещает движение в направлении A.

БИЛЕТ 13

6 **Как должен поступить водитель трактора?**



1. Уступить дорогу легковому автомобилю.
2. Первым проехать перекресток.

7 **Разрешена ли остановка транспортного средства в указанном месте?**

1. Разрешена.
2. Запрещена.

8 **Должен ли водитель мотовездехода уступить дорогу грузовому автомобилю?**

1. Должен.
2. Не должен.

9 **Что означают данные знаки?**

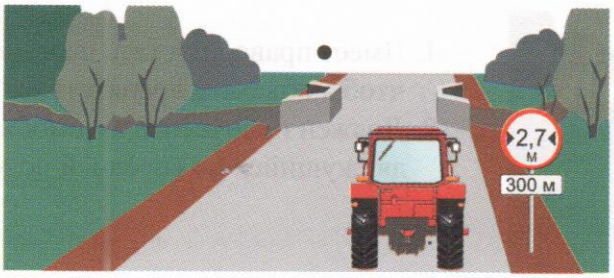

1. Протяженность узкого участка дороги 300 м.
2. На дороге протяженностью 300 м возможны узкие участки.
3. Расстояние 300 м до начала участка дороги с ограниченной шириной 2,7 м.

10 **В каком случае запрещается открывать двери транспортного средства?**



1. Если это создаст помехи другим участникам движения.
2. Если транспортное средство остановилось по причине вынужденной остановки.

БИЛЕТ 13

11 **Разрешено ли Вам проехать железнодорожный переезд?**



1. Да, так как дежурный по переезду запрещает движение только встречному автомобилю.
2. Да, если отсутствует приближающийся поезд.
3. Нет.

12 **Следует ли уступить дорогу грузовому автомобилю на перекрестке с круговым движением?**



1. Да.
2. Нет.

13 **Как Вы намерены продолжить движение прямо при желтом мигающем сигнале светофора:**

1. Проехать перекресток первым.
2. Уступить дорогу только грузовому автомобилю.
3. Уступить дорогу только трамваю.
4. Уступить дорогу обоим транспортным средствам.

14 **Какой знак запрещает дальнейшее движение всех без исключения транспортных средств?**

1. А.
2. Б.
3. В.

15 **Какую скорость должен соблюдать водитель при возникновении опасности для движения?**

1. Предельно малую.
2. Должен принять необходимые меры к снижению скорости вплоть до остановки транспортного средства.
3. Продолжить движение, не снижая скорости,чтобы покинуть опасное место.

БИЛЕТ 13

16 **Разрешена ли Вам стоянка в указанном месте?**



1. Разрешена.
2. Разрешена, но только в светлое время суток.
3. Запрещена.

17 **Данный светофор применяется для регулирования движения:**



1. По всем полосам проезжей части.
2. По полосам проезжей части, направление движения по которым может быть изменено на противоположное.
3. По полосам, предназначенным для маршрутных транспортных средств.

18 **В каком случае Вы имеете право выехать на перекресток, если за ним образовался затор?**

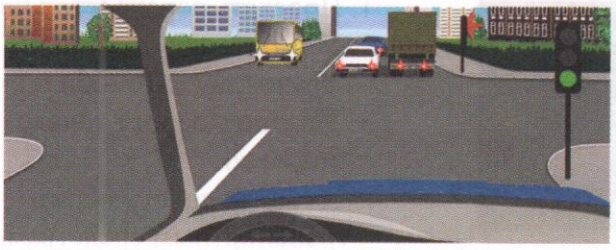

1. Только если Вы намерены совершить поворот или разворот.
2. В любом случае.

19 **По какой траектории Вам разрешено выполнить разворот?**

1. Только по траектории А.
2. Только по траектории Б.
3. По любой.

20 **Что называется разрешенной максимальной массой транспортного средства?**

1. Максимально допустимая для перевозки масса груза, установленная предприятием-изготовителем.
2. Масса снаряженного транспортного средства без учета массы водителя, пассажиров и груза, установленная предприятием-изготовителем.
3. Масса снаряженного транспортного средства с грузом, водителем и пассажирами, установленная предприятием-изготовителем в качестве максимально допустимой.

БИЛЕТ 14

1 **По какой траектории водитель имеет право продолжить движение?**

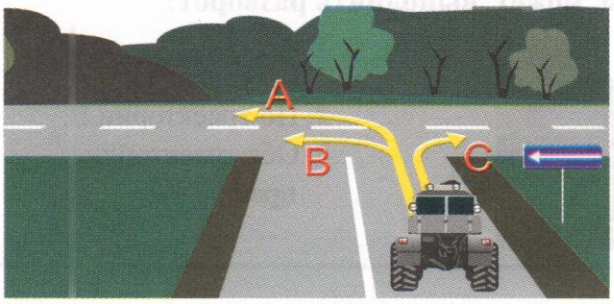

1. А.
2. А и В.
3. С.
4. По любой траектории.

2 **Сколько пересечений проезжих частей имеет этот перекресток?**

1. Одно.
2. Два.
3. Четыре.

3 **Разрешается ли перевозить людей на грузовом прицепе?**



1. Разрешается, если они сопровождают груз.
2. Разрешается только при наличии оборудованных мест для сидения.
3. Запрещается.

4 **Что обозначает на дороге эта разметка?**



1. Место, где велосипедная дорожка пересекает проезжую часть.
2. Место, где велосипедист имеет преимущество движения.
3. Место пешеходного перехода.

5 **Разрешено ли людям находиться в кабине буксируемого транспортного средства при буксировке методом частичной погрузки?**

1. Разрешено.
2. Запрещено.
3. На усмотрение водителя.

БИЛЕТ 14

6 **По какой траектории водитель транспортного средства, габариты которого превышают установленные нормы, может выполнить разворот?**

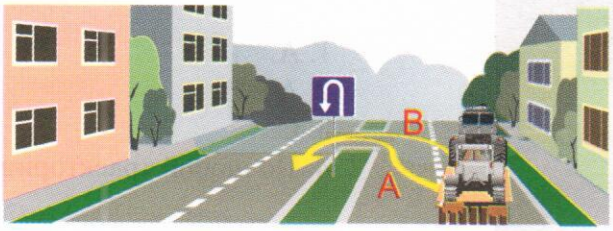

1. По траектории А.
2. По траектории В.
3. Обе траектории правильные.

7 **Что обозначает данный знак?**

1. Начало населенного пункта, где не действуют требования ПДД, устанавливающие порядок движения в населенных пунктах.
2. Начало населенного пункта, где действуют требования ПДД, устанавливающие порядок движения в населенных пунктах.

8 **Разрешено ли Вам в конце подъема перестроиться на среднюю полосу для опережения грузового автомобиля?**

1. Разрешено.
2. Запрещено.

9 **Что означает сочетание красного и желтого сигналов светофора?**

1. Неисправна светофорная сигнализация.
2. Информирует о предстоящем включении зеленого сигнала.
3. Информирует о предстоящем включении красного сигнала.

10 **На каком расстоянии до спуска или подъема могут устанавливаться эти знаки вне населенного пункта?**

1. За 150-300 м до спуска или подъема.
2. В зависимости от знака дополнительной информации, указывающего расстояние.
3. Непосредственно перед спуском или подъемом, если они следуют друг за другом.
4. Возможен любой вариант.

БИЛЕТ 14

11 **Какими знаками Вы должны руководствоваться, если значения временных дорожных знаков (на переносной стойке) и стационарных дорожных знаков противоречат друг другу?**

1. Значениями временных знаков.
2. Значениями стационарных знаков.

12 **Кто из водителей должен уступить дорогу пешеходам?**



1. Только водитель мотовездехода.
2. Только водитель грузового автомобиля.
3. Оба водителя.

13 **По какой полосе разрешено продолжить движение водителю самоходной машины вне населенного пункта?**

1. По любой.
2. По крайней правой.

14 **Что обозначает широкая прерывистая линия разметки?**



1. Границу между полосой торможения и основной полосой проезжей части.
2. Разделяет полосы на проезжей части.
3. Обозначает полосы движения в пределах перекрестка.

15 **Разрешен ли в данной ситуации обгон?**

1. Запрещен.
2. Разрешен, если скорость грузового автомобиля менее 30 км/ч.
3. Разрешен.

БИЛЕТ 14

16 **Дневные ходовые огни предназначены для:**

1. Улучшения видимости движущегося транспортного средства в светлое время суток как спереди, так и сзади.
2. Улучшения видимости движущегося транспортного средства в светлое время суток только спереди.
3. Улучшения видимости движущегося транспортного средства в светлое время суток только сзади.

17 **Водитель какого транспортного средства не нарушает ПДД?**

1. Автомобиля (А).
2. Мотовездехода (Б).
3. Никто не нарушает.

18 **При повороте направо Вы должны уступить дорогу:**

1. Велосипедисту.
2. Пешеходам.
3. Пешеходам и велосипедисту.
4. Никому.

19 **На каком рисунке изображен автомобиль, водитель которого не нарушает правил перевозки грузов?**

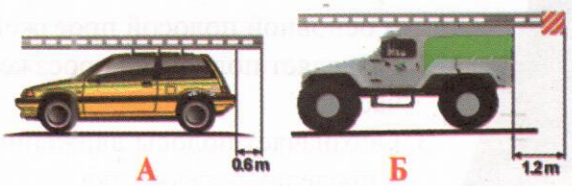

1. Только на А.
2. Только на Б.
3. На обоих.

20 **В каком случае Вам необходимо двигаться со скоростью до 40 км/ч?**

1. Во всех случаях.
2. Только в том случае, когда покрытие на дороге влажное.

БИЛЕТ 15

1 Что должен знать и соблюдать участник дорожного движения?

1. Требования Правил, относящихся к нему.
2. Значения разметки, знаков, светофора.
3. Выполнять распоряжения регулировщиков, действующих в пределах предоставленных им прав и регулирующих дорожное движение установленными сигналами.
4. Соблюдать все перечисленные требования.

2 Этот дорожный знак указывает:

1. Расстояние до конца тоннеля.
2. Расстояние до места аварийной остановки.
3. Направление движения к аварийному выходу и расстояние до него.

3 В каком направлении Вам разрешено движение на перекрестке?

1. Разрешено только направо.
2. Разрешено только налево.
3. Запрещено.

4 Кто из водителей нарушил правила остановки?

1. Водитель трактора.
2. Водитель грузового автомобиля.
3. Оба нарушили.

5 Разрешено ли водителю транспортного средства перевозить людей в салоне буксируемого автобуса?

1. Разрешено.
2. Запрещено.

БИЛЕТ 15

6 **Какой знак обозначает транспортное средство при вынужденной остановке в местах, где оно не может быть своевременно замечено другими водителями?**

1. Знак А.
2. Знак Б.
3. Знак В.

7 **Должен ли водитель мотовездехода уступить дорогу автобусу, начинающему движение от остановки вне населенного пункта?**



1. Должен.
2. Не должен.

8 **Как Вы должны действовать в данной ситуации?**



1. Проехать железнодорожный переезд без остановки перед знаком.
2. Остановиться перед знаком и продолжить движение сразу после проезда поезда.
3. Остановиться перед знаком и продолжить движение, только убедившись в отсутствии приближающегося поезда.

9 **Позволяет ли Вам данная разметка выполнить обгон трактора?**

1. Да.
2. Да, при скорости трактора менее 30 км/ч.
3. Нет.

10 **О чем информирует Вас сигнал светофора в виде стрелки красного цвета?**

1. На этом перекрестке всегда запрещен поворот направо.
2. Поворот направо разрешен, но необходимо уступить дорогу пешеходам.
3. При включении зеленого сигнала светофора движение будет разрешено только направо.

БИЛЕТ 15

11 **Какие знаки действуют на той стороне дороги, на которой они установлены?**

1. A и B.
2. C и D.
3. E.
4. Все, кроме E.

12 **Кто из водителей, совершающих поворот, нарушает ПДД?**

1. Водитель легкового автомобиля.
2. Водитель мотовездехода.
3. Оба нарушают.
4. Оба не нарушают.

13 **При желтом мигающем сигнале светофора, двигаясь прямо, Вы должны:**

1. Продолжить движение после включения зеленого сигнала светофора.
2. Уступить дорогу гужевой повозке.
3. Проехать перекресток одновременно со встречным автомобилем.

14 **Что означает данная желтая линия разметки?**

1. Остановка маршрутных транспортных средств.
2. Стоянка такси.
3. Остановка маршрутных транспортных средств и стоянка такси.
4. Место, где запрещена стоянка.

15 **Что обязаны сделать в первую очередь водители, причастные к ДТП?**

1. Немедленно остановить транспортное средство, включить аварийную световую сигнализацию, выставить знак аварийной остановки, не перемещать предметы, имеющие отношение к происшествию.
2. Принять возможные меры для оказания доврачебной медицинской помощи пострадавшим.
3. Сообщить о случившемся в полицию.
4. Все перечисленное в п. 1-3.

БИЛЕТ 15

16 **Разрешено ли Вам на перекрестке повернуть налево?**

1. Разрешено.
2. Запрещено.

17 **Разрешено ли водителю поставить трактор на стоянку в этом месте указанным способом?**

1. Да.
2. Да, если разрешенная максимальная масса трактора менее 3,5 т.
3. Нет.

18 **Кому следует уступить дорогу при повороте налево?**

1. Только пешеходам.
2. Только автобусу.
3. Автобусу и пешеходам.
4. Никому.

19 **Какие знаки требуют обязательной остановки?**

1. Только А и Б.
2. Только Б.
3. Только Б и В.
4. Только Г.

20 **Как вы должны поступить при приближении к стоящему у обочины автомобилю с включенным проблесковым маячком синего цвета?**



1. Продолжить движение с прежней скоростью.
2. Снизить скорость, чтобы немедленно остановиться в случае необходимости.
3. Остановиться у обочины и дождаться разрешения двигаться дальше.

БИЛЕТ 16

1 **Вы намерены проехать перекресток в прямом направлении. Ваши действия?**



1. Уступите дорогу легковому автомобилю.
2. Проедете перекресток первым.

2 **В каких направлениях разрешено продолжить движение на перекрестке?**



1. В любых.
2. А и В.
3. С.
4. В и С.

3 **Должны ли Вы остановиться по требованию регулировщика в указанном им месте?**

1. Да.
2. Да, но только с заездом на тротуар.
3. Нет.

4 **Разрешена ли остановка в указанном месте?**



1. Разрешена.
2. Запрещена.

5 **Разрешено ли водителю самоходного шасси обогнать гужевую повозку на перекрестке?**

1. Разрешено.
2. Запрещено.

БИЛЕТ 16

6 **Первым проедет перекресток:**



1. Трамвай.
2. Трактор.

7 **В каких случаях на транспортном средстве должен быть включен проблесковый маячок оранжевого цвета?**



1. При выполнении строительных, ремонтных или уборочных работ на дороге.
2. При перевозке тяжеловесных, крупногабаритных или опасных грузов в случаях, предусмотренных правилами перевозки этих грузов.
3. В обоих случаях.

8 **С какой скоростью Вы можете продолжить движение в населенном пункте по правой полосе?**

1. Не более 50 км/ч.
2. Не более 60 км/ч.
3. Не менее 50 км/ч и не более 60 км/ч.

9 **Водитель какого транспортного средства правильно выполняет поворот?**



1. Трактора А.
2. Трактора В.
3. Оба водителя – правильно.
4. Оба водителя – неправильно.

10 **Что означают данные знаки?**

1. Запрещается въезд всех транспортных средств в данном направлении.
2. Запрещается въезд всех транспортных средств в данном направлении, кроме автобусов.
3. Запрещается въезд автобусов в данном направлении.

БИЛЕТ 16

11 **Разрешена ли Вам остановка в указанном месте?**



1. Разрешена.
2. Разрешена только с заездом на тротуар.
3. Разрешена, если не создается помех маршрутным транспортным средствам.
4. Не разрешена.

12 **В каких направлениях Вам разрешено продолжить движение?**



1.Только Б.
2.Только А или Б.
3.В любых.

13 **Следует ли Вам уступить дорогу грузовому автомобилю?**



1. Да.
2. Нет.

14 **В каком месте Вам разрешено обогнать тихоходное транспортное средство?**



1. Перед железнодорожным переездом.
2. На железнодорожном переезде.
3. За железнодорожным переездом.

15 **На какие транспортные средства распространяются сигналы такого светофора?**



1. Только на трамваи.
2. На трамваи, а также другие маршрутные транспортные средства, движущиеся по выделенной для них полосе.
3. На все маршрутные транспортные средства.

БИЛЕТ 16

16 **Разрешено ли Вам поставить мотовездеход на стоянку за путепроводом?**



1. Разрешено.
2. Запрещено.

17 **Этот знак указывает, что:**

1. Вы должны повернуть только направо или налево.
2. На пересекаемой дороге реверсивное движение.
3. На пересекаемой дороге одностороннее движение.

18 **Эта разметка, нанесенная на полосе движения:**

1. Разрешает Вам только поворот налево.
2. Разрешает Вам только разворот.
3. Разрешает Вам поворот налево и разворот.

19 **Следует ли Вам уступить дорогу автомобилю, выполняющему разворот?**



1. Да.
2. Нет.

20 **О чем информируют Вас эти дорожные знаки?**



1. О приближении к перекрестку, где установлен знак «Уступите дорогу».
2. О приближении к перекрестку, где установлен знак «Движение без остановки запрещено».
3. О приближении к таможне.

БИЛЕТ 17

1 **С какой максимальной скоростью Вы можете продолжить движение после знака, если Вы буксируете неисправное механическое транспортное средство?**

1. 50 км/ч.
2. 70 км/ч.
3. 90 км/ч.

2 **В каком случае Вы можете прибегнуть к резкому торможению?**

1.Только для остановки перед перекрестком или пешеходным переходом, когда после зеленого сигнала неожиданно для Вас включился желтый сигнал светофора.
2.Только для предотвращения дорожно-транспортного происшествия.
3.В обоих перечисленных случаях.

3 **Какой знак используется для обозначения границ искусственной неровности?**

А

Б

В

1. Только А.
2. Только Б.
3. Б и В.

4 **Вы намерены развернуться на перекрестке. Ваши действия?**

1.Уступите дорогу только легковому автомобилю и развернетесь.
2.Уступите дорогу обоим транспортным средствам и развернетесь.

5 **Кто из водителей нарушает правила дорожного движения?**

1. Все водители.
2. Никто из водителей.
3. Только водитель трактора.
4. Только водитель легкового автомобиля.
5. Водители грузового автомобиля и трактора.

БИЛЕТ 17

6 В каком месте разрешен разворот?

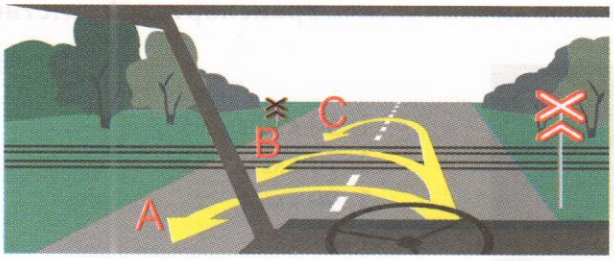

1. А.
2. В.
3. С.
4. А и С.

7 В каком месте Вы должны остановиться?



1.Перед знаком «Движение без остановки запрещено (А).
2.Перед перекрестком (Б).
3.Перед краем пересекаемой проезжей части (В).

8 На каких рисунках показана главная дорога?



1. Только на А и В.
2. Только на В и С.
3. Только на С и D.
4. Только на А и D.
5. На всех.

9 На каком рисунке изображено транспортное средство, водитель которого не нарушает правил перевозки грузов?

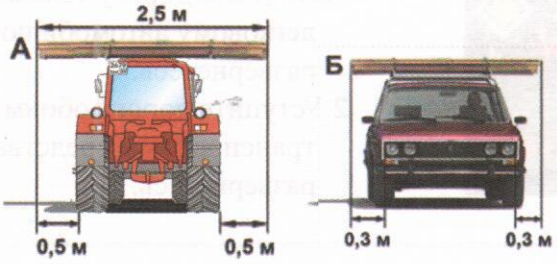

1. А.
2. Б.
3. На обоих.

10 Что означает требование уступить дорогу?

1. Вы должны остановиться , чтобы пропустить других участников движения.
2. Вы должны обеспечить тому, кто пользуется преимуществом, беспрепятственное движение.
3. Вы должны остановиться только при наличии дорожного знака «Уступите дорогу».

БИЛЕТ 17

11 **При включении зеленого сигнала светофора Вы должны:**

1. Убедиться в отсутствии пешеходов, завершающих переход проезжей части, после чего начать движение.
2. Руководствуясь сигналом светофора, сразу начать движение.

12 **Какой знак разрешает левый поворот?**

1. A.
2. A, B.
3. C.
4. D.
5. C, D.

13 **В каком месте Вы должны остановиться в данной ситуации?**



1. У знака «Движение без остановки запрещено».
2. У знака «Однопутная железная дорога».
3. За 5 м до первого рельса.
4. В любом месте.

14 **Каким транспортным средствам разрешено движение прямо?**

1. Только мотовездеходу и грузовому автомобилю.
2. Только грузовому автомобилю.
3. Только грузовому автомобилю и автобусу.
4. Всем транспортным средствам.

15 **Нарушили ли водители грузового автомобиля и трактора правила стоянки?**

1. Нарушили.
2. Нарушили, если разрешенная максимальная масса автомобиля или трактора более 3,5 т.
3. Не нарушили.

БИЛЕТ 17

16 **Вы намерены повернуть налево. Кому следует уступить дорогу?**

1. Только автобусу.
2. Только велосипедисту.
3. Никому.

17 **Что необходимо предпринять при вынужденной остановке на переезде?**

1. Оставаться около трактора и подавать сигналы общей тревоги.
2. При появлении поезда бежать ему навстречу, подавая сигнал остановки.
3. Верно п. 1, 2.

18 **Что запрещено в зоне действия этого знака?**

1. Движение со скоростью более 20 км/ч.
2. Движение только механических транспортных средств.
3. Движение любых транспортных средств.

19 **Нарушил ли водитель ПДД при вынужденной остановке на автомагистрали?**

1. Да.
2. Да, если не выставил знак аварийной остановки.
3. Нет.

20 **При затрудненном встречном разъезде на таком участке дороги преимущество в движении имеет:**

1. Водитель мотовездехода.
2. Водитель грузового автомобиля.

БИЛЕТ 18

1 Являются ли тротуары и обочины элементом дороги?

1. Являются.
2. Являются только обочины.
3. Не являются.

2 Транспортные средства проедут перекресток в следующем порядке:

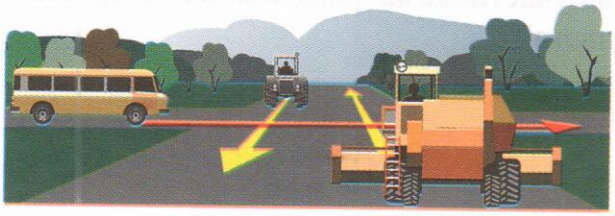

1. Автобус, трактор, комбайн.
2. Комбайн, автобус, трактор.
3. Комбайн, одновременно с ним трактор, автобус.

3 В каком месте должен остановиться водитель самоходной машины в случаях, когда движение через переезд запрещено?

1. Не ближе 5 м до ближайшего рельса.
2. Не ближе 10 м до ближайшего рельса.
3. Непосредственно перед железнодорожным переездом.

4 Что обозначает данная вертикальная разметка?

1. Край проезжей части.
2. Радиус поворота.
3. Боковые поверхности ограждений дорог на закруглениях малого радиуса, крутых спусках, других опасных участках.

5 По какой траектории водитель правильно выполнит разворот?



1. А.
2. В.
3. По любой.

БИЛЕТ 18

6 **На каком рисунке изображен регулируемый перекресток?**



A B C

1. A.
2. B.
3. C.
4. A и B.

7 **Дает ли преимущество перед другими участниками движения включенный проблесковый маячок оранжевого цвета?**

1. Дает.
2. Не дает.

8 **Вы намерены проехать перекресток в прямом направлении.**

1. Проедете перекресток первым.
2. Уступите дорогу трамваю.

9 **Должен ли водитель самоходной машины уступить дорогу пешеходам при повороте налево?**



1. Должен.
2. Не должен.

10 **Какой знак означает дорогу с односторонним движением?**

A B C D

1. A.
2. B.
3. C.
4. D.

БИЛЕТ 18

11 **На каких рисунках изображён перекрёсток?**

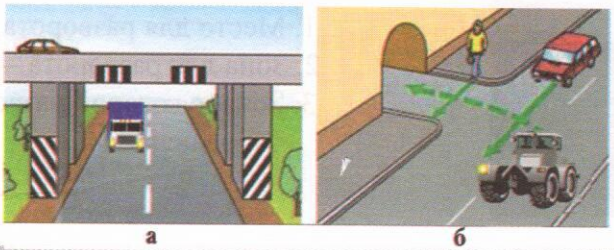

а б

1. Только на левом (а).
2. Только на правом (б).
3. На обоих.
4. Ни на одном.

12 **Разрешено ли водителю мотовездехода остановиться в данном месте?**

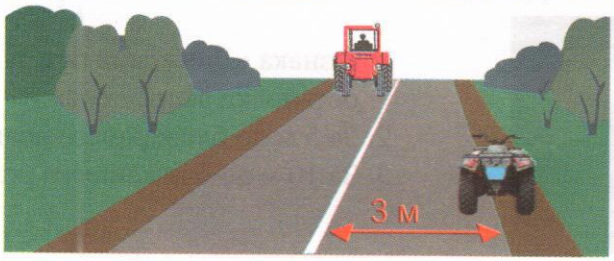

1. Разрешено.
2. Запрещено.

13 **Разрешено ли водителю самоходной машины продолжить движение прямо?**



1. Разрешено.
2. Запрещено.
3. Разрешено, если он обслуживает предприятия, находящиеся в обозначенной зоне, или граждан, проживающих в обозначенной зоне.

14 **На каком расстоянии от неисправного транспортного средства водитель должен выставить знак аварийной остановки вне населенного пункта?**



1. Не менее 15 м.
2. Не менее 30 м.
3. Не менее 40 м.

15 **Бело-лунный сигнал светофора на железнодорожном переезде:**

1. Разрешает движение.
2. Разрешает движение при отсутствии приближающегося к переезду поезда.
3. Запрещает движение.

БИЛЕТ 18

16 **Что означает этот знак?**

1. Место для разворота.
2. Зона для разворота – 15 м.
3. Зона, в которой разворот запрещен.

17 **В каком месте Вы должны остановиться?**

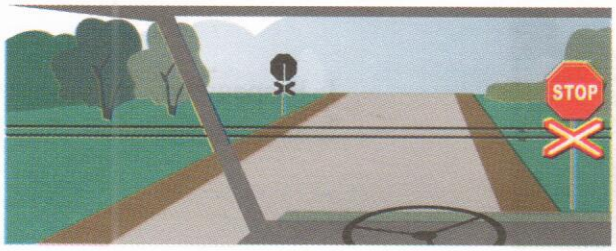

1. У знака «Движение без остановки запрещено».
2. За 5 м до ближайшего рельса.
3. За 10 м до ближайшего рельса.

18 **Что обозначает данная вертикальная разметка?**



1. Ограничение габаритной высоты транспортных средств.
2. Нижний край моста.

19 **Должен ли водитель самоходной машины уступить дорогу мотоциклу?**

1. Должен.
2. Не должен.

20 **Разрешено ли водителю трактора с включенным маячком оранжевого цвета совершить маневр в техническом разрыве разделительной полосы?**



1. Разрешено.
2. Запрещено, так как любое движение по автомагистрали тракторам запрещено.
3. Разрешено при условии обеспечения безопасности дорожного движения.

БИЛЕТ 19

1 **Количество полос для движения на проезжей части определяется:**

1. Только разметкой.
2. Только соответствующими знаками.
3. Разметкой или знаками, а если их нет, то водителями.

2 **Кто должен уступить дорогу при взаимном перестроении?**



1. Водитель комбайна.
2. Водитель трактора.

3 **Какие знаки устанавливают непосредственно перед железнодорожным переездом?**

1.Только А.
2. Только Б.
3. Только В.
4. А, В.

4 **Должны ли Вы уступить дорогу встречному грузовому автомобилю?**



1. Да.
2. Нет.

5 **Эта разметка обозначает:**



1. Номер дороги или маршрута.
2. Рекомендуемую скорость движения.
3. Дублирование соответствующего дорожного знака.

БИЛЕТ 19

6 **Разрешается ли водителю пользоваться мобильным телефоном во время движения?**

1. Разрешается.
2. Разрешается только при использовании технического устройства, позволяющего вести переговоры без использования рук.
3. Разрешается только при движении со скоростью менее 40 км/ч.
4. Запрещается.

7 **Разрешено ли водителю транспортного средства продолжить движение в прямом направлении?**



1. Разрешено.
2. Запрещено.
3. Разрешено при обслуживании предприятий в этой зоне.

8 **В каких направлениях можно продолжить движение?**



1. В любых.
2. C и D.
3. По всем, кроме A.

9 **Последним перекресток проедет:**

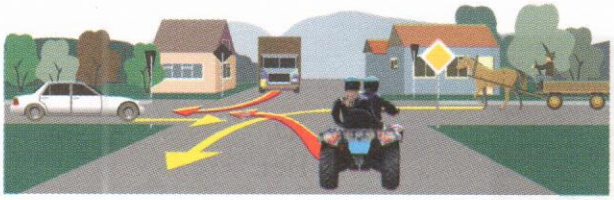

1. Грузовой автомобиль.
2. Легковой автомобиль.
3. Мотовездеход.
4. Гужевая повозка.

10 **Что означает данная комбинация знаков?**

1. Указывает, что в зоне железнодорожного переезда осуществляется фиксация нарушений ПДД в автоматическом режиме.
2. Указывает, что в зоне железнодорожного переезда запрещаются фото- и видеосъемка.

БИЛЕТ 19

11 **Как Вы должны поступить в данной ситуации:**

1. Остановиться у стоп-линии, затем продолжить движение.
2. Продолжить движение без остановки.

12 **Как должен поступить водитель трактора в данной ситуации?**



1. Продолжить движение.
2. Снизить скорость, при необходимости остановиться и пропустить группу детей.

13 **Разрешено ли водителю мотовездехода остановиться в данном месте?**



1. Да.
2. Нет.

14 **Разрешено ли Вам сквозное движение в обозначенной знаком зоне?**



1. Разрешено.
2. Запрещено.

15 **Разрешается ли Вам продолжить движение, если регулировщик поднял руку вверх после того, как Вы въехали на перекресток?**



1. Не разрешается.
2. Разрешается, только если Вы поворачиваете направо.
3. Разрешается.

БИЛЕТ 19

16 **Обязан ли водитель трактора уступить дорогу грузовому автомобилю при его перестроении?**



1. Обязан.
2. Не обязан.

17 **Разрешено ли совершить обгон в данной ситуации?**



1. Разрешено.
2. Запрещено.

18 **Разрешено ли водителю трактора объехать стоящий перед железнодорожным переездом легковой автомобиль?**



1. Разрешено.
2. Запрещено.

19 **С какой полосы Вы должны совершить поворот налево?**



1. С крайней правой.
2. Со средней.
3. С любой.

20 **В каких направлениях разрешено продолжить движение?**

1. Только А.
2. Только Б.
3. Только В.
4. Во всех направлениях.

БИЛЕТ 20

1 **Первым проедет перекресток:**



1. Легковой автомобиль.
2. Трактор.

2 **Разрешена ли остановка в данном месте?**



1. Разрешена.
2. Запрещена.

3 **Разрешено ли продолжение движения через железнодорожный переезд?**



1.Разрешено.
2. Разрешено при отсутствии приближающегося поезда.
3. Запрещено.

4 **Как Вы должны поступить, если идущее впереди транспортное средство замедлило свой ход перед пешеходным переходом?**

1. Продолжить движение с прежней скоростью.
2. Убедиться, что перед указанным транспортным средством нет пешеходов, затем продолжить движение.

5 **Разрешен ли обгон на перекрестках ?**

1. Разрешен только на нерегулируемых перекрестках.
2. Разрешен только на нерегулируемых перекрестках при движении по главной дороге.
3. Запрещен во всех случаях.

БИЛЕТ 20

6 **Разрешается ли останавливаться на полосе, обозначенной этим знаком?**



1. Разрешается.
2. Запрещается.
3. Разрешается для посадки и высадки пассажиров, если это не создаст помех маршрутным транспортным средствам.

7 **Разрешено ли Вам продолжить движение по второй полосе?**



1. Разрешено.
2. Запрещено.
3. Разрешено при скорости движения более 40 км/ч.

8 **Какие маневры запрещено выполнять в местах остановок маршрутных транспортных средств?**



1. Разворот.
2. Движение задним ходом.
3. Останавливаться, если при этом будут созданы помехи маршрутным транспортным средствам.
4. Все перечисленные маневры.

9 **Что обозначает данная линия разметки?**



1. Стоп-линия.
2. Указывает место, где водитель должен при необходимости остановиться, уступив дорогу транспортным средствам, движущимся по пересекаемой дороге.

10 **В каких направлениях разрешено продолжить движение?**

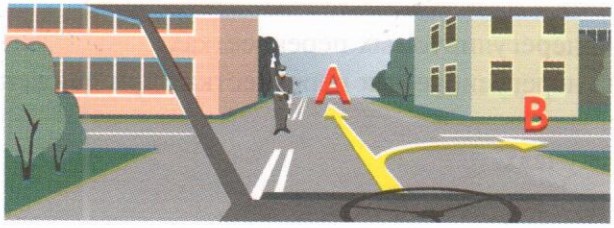

1. А и В.
2. А.
3. Запрещено во всех направлениях.

БИЛЕТ 20

11 **Разрешена ли стоянка транспортного средства в данном месте?**

1. Разрешена.
2. Запрещена.

12 **Водитель какого транспортного средства правильно въезжает на перекресток с круговым движением?**

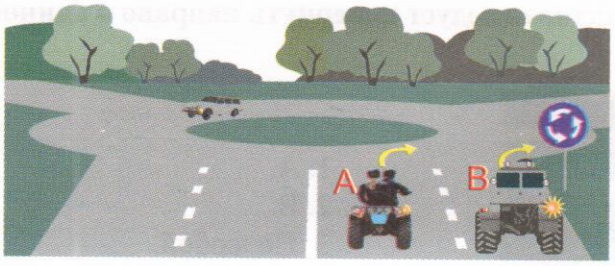

1. Мотовездехода (А).
2. Трактора (В).
3. Оба водителя – правильно.
4. Оба водителя – неправильно.

13 **Должны ли Вы уступить дорогу самоходной машине?**

1. Должны.
2. Не должны.

14 **В каком направлении водители транспортных средств могут продолжить движение?**

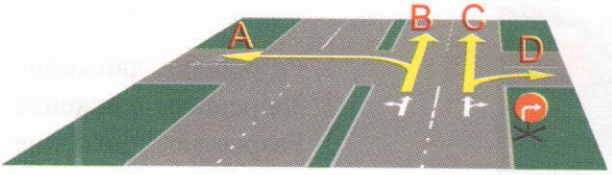

1. В любом.
2. B, C.
3. D.

15 **Какое нарушение допустил водитель комбайна при движении через мост?**



1. Соблюдение дистанции.
2. Боковой интервал.

БИЛЕТ 20

16 **Где Вы должны остановиться в данной ситуации при отсутствии других транспортных средств?**

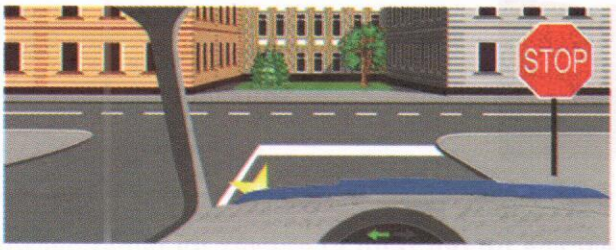

1. У знака.
2. У стоп-линии.
3. Проехать перекресток без остановки.

17 **По какой траектории водителю трактора следует повернуть направо в данной ситуации?**

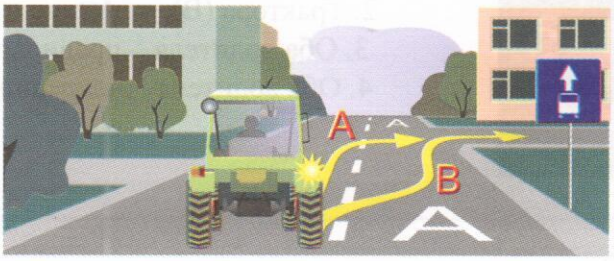

1. А.
2. В.
3. По любой.

18 **Что обозначают прерывистые линии на перекрестке?**



1. Обязательное направление движения на перекрестке.
2. Границы полос движения в пределах перекрестка.

19 **Два попеременно мигающих красных сигнала светофора:**



1. Разрешают движение.
2. Запрещают движение.
3. Разрешают движение с особой осторожностью.

20 **Что означает термин «Ограниченная видимость»?**

1. Видимость дороги, ограниченная рельефом местности, геометрическими параметрами дороги или другими объектами.
2. Видимость дороги менее 300 м в условиях тумана, дождя, снегопада, а также в сумерки.
3. Видимость дороги менее 150 м в ночное время.

БИЛЕТ 21

1 **На каком рисунке изображено механическое транспортное средство?**

1. A, B, C.
2. B, C, D.
3. B.
4. На всех.

2 **Какие знаки предоставляют Вам преимущество при проезде нерегулируемых перекрестков?**



1. Только А.
2. А и В.
3. Все.

3 **Какой маневр намеревается выполнить водитель транспортного средства?**



1. Обгон.
2. Перестроение с дальнейшим опережением.
3. Объезд.

4 **Какими должны быть действия водителя трактора при перестроении?**



1. Имеет право проехать первым, чтобы объехать препятствие.
2. Должен пропустить автомобиль, движущийся по соседней полосе.

5 **Что означает данный сигнал светофора?**

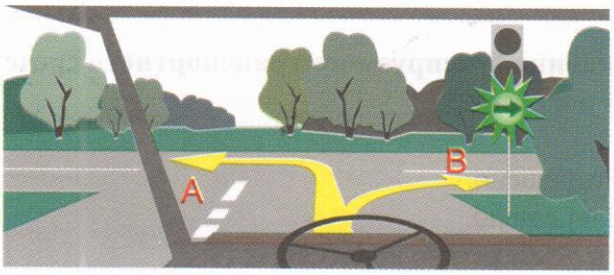

1. Разрешает движение в любом направлении.
2. Разрешает движение только в направлении B.
3. Запрещает движение в направлении A.

БИЛЕТ 21

6 **По какой траектории водитель имеет право продолжить движение?**

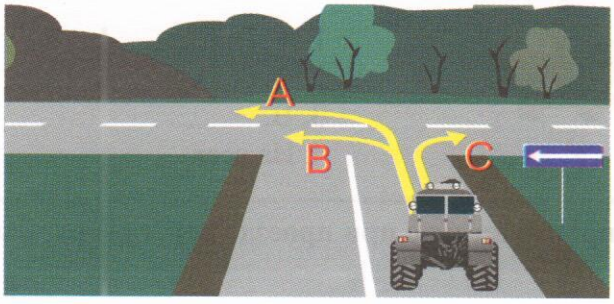

1. А.
2. А и В.
3. С.
4. По любой.

7 **Сколько пересечений проезжих частей имеет этот перекресток?**

1. Одно.
2. Два.
3. Четыре.

8 **Разрешается ли перевозить людей на грузовом прицепе?**



1. Разрешается, если они сопровождают груз.
2. Разрешается только при наличии оборудованных мест для сидения.
3. Запрещается.

9 **Что обозначает на дороге эта разметка?**



1. Место, где велосипедная дорожка пересекает проезжую часть.
2. Место, где велосипедист имеет преимущество движения.
3. Место пешеходного перехода.

10 **Разрешено ли людям находиться в кабине буксируемого транспортного средства при буксировке методом частичной погрузки?**

1. Разрешено.
2. Запрещено.
3. По усмотрению водителя.

БИЛЕТ 21

11 Что должен знать и соблюдать участник дорожного движения?

1. Требования Правил, относящихся к нему.
2. Значения разметки, знаков, светофора.
3. Выполнять распоряжения регулировщиков, действующих в пределах предоставленных им прав и регулирующих дорожное движение установленными сигналами.
4. Соблюдать все перечисленные требования.

12 Этот дорожный знак указывает:

1. Расстояние до конца тоннеля.
2. Расстояние до места аварийной остановки.
3. Направление движения к аварийному выходу и расстояние до него.

13 В каком направлении Вам разрешено движение на перекрестке?

1. Разрешено только направо.
2. Разрешено только налево.
3. Запрещено.

14 Кто из водителей нарушил правила остановки?

1. Только водитель трактора.
2. Только водитель грузового автомобиля.
3. Оба нарушили.

15 Разрешено ли водителю транспортного средства перевозить людей в салоне буксируемого автобуса?

1. Разрешено.
2. Запрещено.

БИЛЕТ 21

16 **Вы намерены проехать перекресток в прямом направлении. Ваши действия?**

1. Уступите дорогу легковому автомобилю.
2. Проедете перекресток первым.

17 **В каких направлениях разрешено продолжить движение на перекрестке?**



1. В любых.
2. А и В.
3. С.
4. В и С.

18 **Должны ли Вы остановиться по требованию регулировщика в указанном им месте?**

1. Да.
2. Да, но только с заездом на тротуар.
3. Нет.

19 **Разрешена ли остановка в указанном месте?**



1. Разрешена.
2. Запрещена.

20 **Разрешено ли водителю самоходного шасси обогнать гужевую повозку на перекрестке?**

1. Разрешено.
2. Запрещено.

БИЛЕТ 22

1 **С какой максимальной скоростью Вы можете продолжить движение после знака, если Вы буксируете неисправное механическое транспортное средство?**

1. 50 км/ч.
2. 70 км/ч.
3. 90 км/ч.

2 **В каком случае Вы можете прибегнуть к резкому торможению?**

1.Только для остановки перед перекрестком или пешеходным переходом, когда после зеленого сигнала неожиданно для Вас включился желтый сигнал светофора.
2.Только для предотвращения дорожно-транспортного происшествия.
3.В обоих перечисленных случаях.

3 **Какой знак используется для обозначения границ искусственной неровности?**

1. Только А.
2. Только Б.
3. Б и В.

4 **Вы намерены развернуться на перекрестке. Ваши действия?**

1.Уступите дорогу только легковому автомобилю и развернетесь.
2.Уступите дорогу обоим транспортным средствам и развернетесь.

5 **Кто из водителей нарушает правила дорожного движения?**

1. Все водители.
2. Никто из водителей.
3. Только водитель трактора.
4. Только водитель легкового автомобиля.
5. Водители грузового автомобиля и трактора.

БИЛЕТ 22

6 **Последним перекресток проедет:**

1. Гужевая повозка.
2. Комбайн.
3. Внедорожное мотосредство.

7 **Должны ли Вы уступить дорогу пешеходам вне населенного пункта?**

1. Должны.
2. Не должны.

8 **Разрешено ли движение по данной полосе?**

1. Разрешено.
2. Запрещено.

9 **Как должен поступить водитель самоходной машины при выезде на дорогу в данной ситуации?**

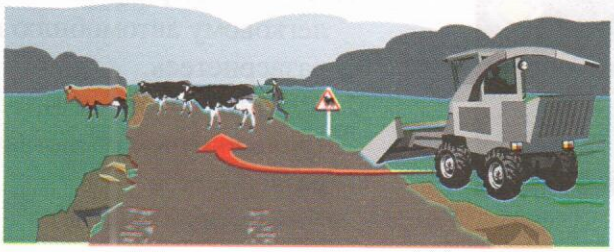

1. Выехав на дорогу, пропустить движущихся по ней животных и погонщика.
2. Выехать на дорогу, не уступая животным и погонщику.

10 **В каких направлениях разрешено продолжить движение?**



1. Во всех направлениях.
2. C и D.
3. Во всех, кроме A.
4. Движение запрещено.

БИЛЕТ 22

11 **Разрешено ли продолжение движения через железнодорожный переезд при открытом шлагбауме и запрещающем сигнале светофора?**

1. Разрешено, если Вы убедились в отсутствии приближающегося поезда.
2. Запрещено.

12 **Должен ли водитель трактора уступить дорогу грузовому автомобилю?**

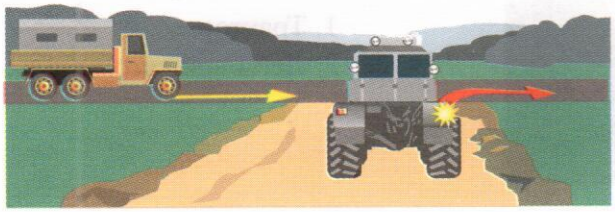

1. Должен.
2. Не должен.

13 **Что означают данные знаки?**

1. Место стоянки для автомобилей водителей-инвалидов.
2. Место для стоянки транспортных средств, кроме автомобией водителей-инвалидов.

14 **По какой траектории можно объехать препятствие на дороге?**

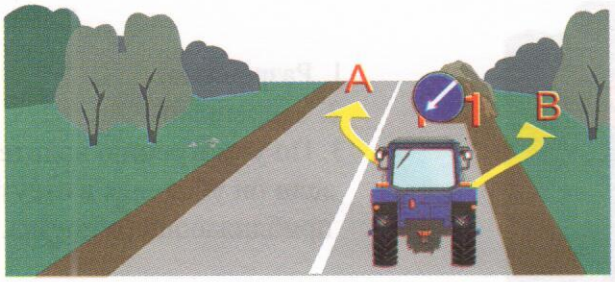

1. По траектории А.
2. По траектории В.
3. По любой.

15 **Разрешается ли превышение установленной полной массы внедорожного мототранспортного средства?**

1. Разрешается.
2. Запрещается.
3. Разрешается при движении со скоростью не более 10 км/ч.

БИЛЕТ 22

16 **Разрешено ли ставить на стоянку самоходную машину в данном месте?**



1. Разрешено.
2. Запрещено.
3. Разрешено для проведения ремонтных работ.

17 **Кто проедет перекресток первым?**

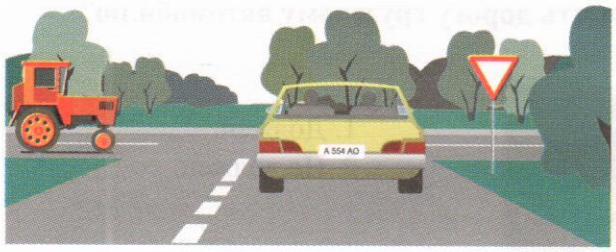

1. Трактор.
2. Легковой автомобиль.

18 **Что означает данный знак?**



1. Остановка запрещена.
2. Стоянка запрещена.
3. Стоянка запрещена по четным числам месяца.
4. Стоянка запрещена по нечетным числам месяца.

19 **Разрешено ли водителю самовольно открывать шлагбаум?**

1. Разрешено.
2. Запрещено.
3. По усмотрению водителя, если он убедился в отсутствии приближающего поезда.

20 **Разрешено ли водителю самоходной машины остановиться в данном месте?**

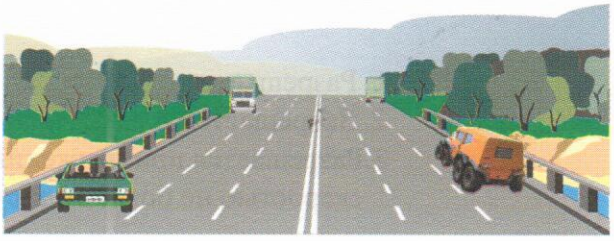

1. Разрешено.
2. Запрещено.

БИЛЕТ 23

1 **В каком месте запрещена остановка транспортных средств?**

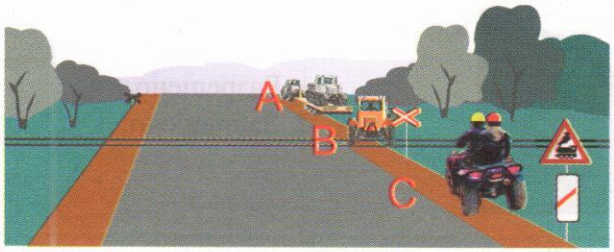

1. А.
2. В.
3. В и С.
4. Во всех местах.

2 **На каком расстоянии до опасного участка дороги в населенном пункте устанавливаются эти знаки?**

1. 15 – 20 м.
2. 50 – 100 м.
3. 100 – 150 м.
4. 150 – 300 м.

3 **Должна ли самоходная машина уступить дорогу грузовому автомобилю?**

1. Должна.
2. Не должна.

4 **Разрешено ли Вам начать обгон идущего впереди транспортного средства в данной ситуации?**



1. Разрешено.
2. Запрещено.

5 **При каком сигнале светофора водителю разрешено закончить разворот?**



1. При зеленом.
2. При красном.
3. При любом.

БИЛЕТ 23

6 **Разрешено ли водителю самоходной машины развернуться на перекрестке?**

1. Разрешено.
2. Запрещено.

7 **Какими действиями должно быть обозначено транспортное средство при дорожно-транспортном происшествии?**



1. Включением аварийной сигнализации.
2. Выставлением знака аварийной остановки.
3. Включением аварийной сигнализации, выставлением знака аварийной остановки.

8 **Что должен предпринять водитель, покидая свое место и оставляя транспортное средство в этой ситуации?**

1. Принять меры, исключающие самопроизвольное движение транспортного средства.
2. Принять меры, исключающие использование транспортного средства посторонними лицами в отсутствие водителя.
3. Верно п. 1, 2.

9 **На каком расстоянии от транспортного средства должен быть выставлен знак аварийной остановки в населенном пункте?**

1. Не менее 10 м.
2. Не менее 15 м.
3. Не менее 30 м.
4. Не менее 50 м.

10 **Каким должно быть расстояние между транспортными средствами при буксировке на жесткой сцепке?**



1. Не более 4 м.
2. Не менее 4 м.
3. 4-6 м.

БИЛЕТ 23

11 Что означает данный знак, установленный вне населенного пункта?



1. Впереди опасный поворот.
2. Через 50-100 м опасный поворот.
3. Через 150-300 м опасный поворот.

12 Разрешено ли продолжить движение через железнодорожный переезд?

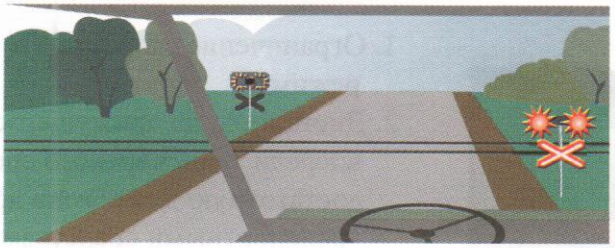

1. Разрешено при отсутствии приближающегося поезда.
2. Запрещено.

13 Что обозначает оранжевая линия разметки?

1. Границы полос в пределах перекрестка.
2. Временная линия разметки, обозначающая границы полос на перекрестке.
3. Границы полос на перекрестке, где разрешено перестроение.

14 Какое транспортное средство первым проедет перекресток?

1. Легковой автомобиль.
2. Трактор.
3. Грузовой автомобиль.

15 Имеет ли право водитель самоходной машины, включив указатели поворота, сразу начать движение?



1. Имеет, так как гужевая повозка движется медленнее трактора, а он включил указатель поворота.
2. Должен пропустить гужевую повозку, так как включение указателя поворота не дает преимущества перед другими участниками движения.

БИЛЕТ 23

16 **Требования каких знаков вступают в силу с места, где они установлены?**



1. Только А.
2. Только Б.
3. Только В.
4. А и Б.

17 **Что должен соблюдать водитель состава транспортных средств длиной более 7 м?**



1. Ограничение скоростного режима.
2. Дистанцию до движущегося впереди транспортного средства, достаточную для обгона другими транспортными средствами.
3. Расположение транспортного средства на проезжей части.

18 **Что обозначает разметка «А-100», нанесенная на проезжую часть дороги?**



1. Расстояние до ближайшего перекрестка.
2. Расстояние до ближайшего населенного пункта.
3. Номер дороги или маршрута.

19 **При остановке на неосвещенных участках дорог в темное время суток необходимо:**

1. Включить габаритные огни.
2. Включить фары ближнего света.
3. Выставить знак аварийной остановки.

20 **Кто из водителей нарушил правила стоянки?**

1. Водитель автомобиля.
2. Водитель трактора.
3. Никто.

БИЛЕТ 24

1 **Сколько перекрестков изображено на рисунке?**

1. Один.
2. Два.
3. Четыре.

2 **Действие каких знаков распространяется только до ближайшего перекрестка?**

А Б В Г

1. А и В.
2. Б и Г.
3. В и Г.
4. Всех указанных знаков.

3 **На каком рисунке изображена дорога с разделительной полосой?**



А Б

1. На рисунке А.
2. На рисунке Б.
3. На обоих.
4. Ни на одном.

4 **Разрешено ли водителю транспортного средства выехать на железнодорожный переезд, если за ним образовался затор?**



1. Разрешено.
2. Запрещено.
3. Разрешено при отсутствии поезда в пределах видимости.

5 **Разрешен ли разворот на указанном участке дороги?**

1. Разрешен.
2. Запрещен.
3. Разрешен только при видимости дороги более 100 м.

БИЛЕТ 24

6 **Что означает данный знак?**



1. Дорогу, не имеющую сквозного проезда.
2. На перекрестке справа второстепенная дорога.
3. Направление, где движение запрещено.

7 **Разрешено ли водителю мотовездехода выехать на реверсивную полосу?**



1. Разрешено.
2. Запрещено.

8 **Как должен поступить водитель трактора в данной ситуации?**



1. Совершить обгон грузового автомобиля с правой стороны.
2. Подождать, пока грузовой автомобиль совершит маневр, затем продолжить движение.
3. Совершить обгон грузового автомобиля с левой стороны.

9 **Какой знак разрешает объезд препятствия только справа?**



A B C D

1. A.
2. A и B.
3. C.
4. D.

10 **В каких местах запрещена остановка транспортных средств?**

1. На обочине дороги вблизи подъема.
2. На обочине дороги при крутом спуске или подъеме.
3. На проезжей части вблизи выпуклых переломов дороги при видимости менее 100 м хотя бы в одном направлении.
4. Правильно П2 и П3
5. Правильно П1 и П3

БИЛЕТ 24

11 **Разрешена ли стоянка в данном месте по нечетным числам?**



1. Разрешена.
2. Запрещена.
3. Разрешена с 19 до 21 ч.

12 **Разрешено ли водителю транспортного средства проехать через железнодорожный переезд, если навесное оборудование не фиксируется в транспортном положении?**



1. Разрешено.
2. Запрещено.
3. Разрешено, если навесное оборудование не повредит переезд.

13 **Что обозначает данная линия разметки?**



1. Искусственную неровность на проезжей части.
2. Подземный пешеходный переход.
3. Велосипедную дорожку.

14 **Вы намерены повернуть налево. Кому следует уступить дорогу?**

1. Только автобусу.
2. Только велосипедисту.
3. Никому.

15 **Какое транспортное средство проедет первым?**



1. Трамвай.
2. Трактор.

БИЛЕТ 24

16 **Что обозначает данная вертикальная разметка?**



1. Элементы дорожных сооружений, когда эти элементы представляют опасность для движущихся транспортных средств.
2. Габаритные размеры элементов дорожных сооружений.

17 **Какой из знаков предоставляет водителю преимущество по отношению к водителям, движущимся по пересекаемой дороге?**

1. A.
2. B.
3. C.
4. D.
5. A и B.

18 **При затрудненном движении разрешено ли водителю трактора выехать на полосу встречного движения?**



1. Разрешено.
2. Запрещено.

19 **Разрешено ли водителю трактора останавливаться в данном месте?**



1. Разрешено.
2. Запрещено.

20 **Разрешено ли водителю самоходной машины продолжить движение, если в пределах видимости приближается поезд?**

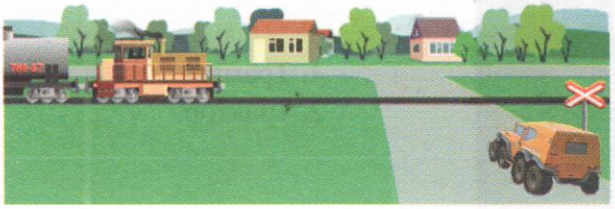

1. Разрешено.
2. Запрещено.

БИЛЕТ 25

1 Что обозначает разметка в виде треугольника на полосе движения?



1. Вы въезжаете на опасный участок дороги.
2. Предупреждает о приближении к месту, где нужно уступить дорогу.
3. Показывает место, где необходимо остановиться.

2 Что обозначает желтая линия разметки?

1. Место, где запрещена стоянка.
2. Место, где запрещена остановка.
3. Место остановки маршрутных транспортных средств.

3 Выполнение какого маневра запрещает Вам данная линия разметки?

1. Только обгона.
2. Только объезда.
3. Только разворота.
4. Ничего не запрещает.

4 Какие знаки информируют Вас, что на данной дороге действуют требования Правил, устанавливающие порядок движения в населенных пунктах?

1. Только А.
2. Только А и Б.
3. Все.

5 Разрешен ли Вам разворот в указанном месте?



1. Разрешен.
2. Не разрешен.

БИЛЕТ 25

6 **Как должен поступить водитель трактора?**



1. Уступить дорогу легковому автомобилю.
2. Первым проехать перекресток.

7 **Разрешена ли остановка транспортного средства в указанном месте?**



1. Разрешена.
2. Запрещена.

8 **Должен ли водитель мотовездехода уступить дорогу грузовому автомобилю?**



1. Должен.
2. Не должен.

9 **Что означают данные знаки?**



1. Протяженность узкого участка дороги 300 м.
2. На дороге протяженностью 300 м возможны узкие участки.
3. Расстояние 300 м до начала участка дороги с ограниченной шириной 2,7 м.

10 **В каком случае запрещается открывать двери транспортного средства?**



1. Если это создаст помехи другим участникам движения.
2. Если транспортное средство остановилось по причине вынужденной остановки.

БИЛЕТ 25

11 **По какой траектории водитель транспортного средства, габариты которого превышают установленные нормы, может выполнить разворот?**



1. По траектории А.
2. По траектории В.
3. Обе траектории правильные.

12 **Что обозначает данный знак?**

1. Начало населенного пункта, где не действуют требования правил, устанавливающие порядок движения в населенных пунктах.
2. Начало населенного пункта, где действуют требования правил, устанавливающие порядок движения в населенных пунктах.

13 **Разрешено ли Вам в конце подъема перестроиться на среднюю полосу для опережения грузового автомобиля?**



1. Разрешено.
2. Запрещено.

14 **Что означает сочетание красного и желтого сигналов светофора?**

1. Неисправна светофорная сигнализация.
2. Информирует о предстоящем включении зеленого сигнала.
3. Информирует о предстоящем включении красного сигнала.

15 **На каком расстоянии до спуска или подъема могут устанавливаться эти знаки вне населенного пункта?**

1. За 150-300 м до спуска или подъема.
2. В зависимости от знака дополнительной информации, указывающего расстояние.
3. Непосредственно перед спуском или подъемом, если они следуют друг за другом.
4. Возможен любой вариант.

БИЛЕТ 25

16 **В каком месте разрешен разворот?**



1. А.
2. В.
3. С.
4. А и С.

17 **Должен ли водитель мотовездехода уступить дорогу автобусу, начинающему движение от остановки вне населенного пункта?**



1. Должен.
2. Не должен.

18 **Как Вы должны действовать в данной ситуации?**



1. Проехать железнодорожный переезд без остановки перед знаком.
2. Остановиться перед знаком и продолжить движение сразу же после проезда поезда.
3. Остановиться перед знаком и продолжить движение, убедившись в отсутствии приближающегося поезда.

19 **Позволяет ли Вам данная разметка выполнить обгон трактора?**

1. Да.
2. Да, но только если скорость трактора менее 30 км/ч.
3. Нет.

20 **О чем информирует Вас сигнал светофора в виде стрелки красного цвета?**

1. На этом перекрестке всегда запрещен поворот направо.
2. Поворот направо разрешен, но необходимо уступить дорогу пешеходам.
3. При включении зеленого сигнала светофора движение будет разрешено только направо.

БИЛЕТ 26

1 **Первым проедет перекресток:**



1. Трамвай.
2. Трактор.

2 **В каких случаях на транспортном средстве должен быть включен проблесковый маячок оранжевого цвета?**

1. При выполнении строительных, ремонтных или уборочных работ на дороге.
2. При перевозке тяжеловесных, крупногабаритных или опасных грузов в случаях, предусмотренных правилами перевозки этих грузов.
3. В обоих перечисленных случаях.

3 **С какой скоростью Вы можете продолжить движение в населенном пункте по правой полосе?**

1. Не более 50 км/ч.
2. Не более 60 км/ч.
3. Не менее 50 км/ч и не более 60 км/ч.

4 **Водитель какого транспортного средства правильно выполняет поворот?**

1. Трактора А.
2. Трактора В.
3. Оба водителя – правильно.
4. Оба водителя – неправильно.

5 **Что означают данные знаки?**

1. Запрещается въезд всех транспортных средств в данном направлении.
2. Запрещается въезд всех транспортных средств в данном направлении кроме автобусов.
3. Запрещается въезд автобусов в данном направлении.

БИЛЕТ 26

6 В каких направлениях разрешено продолжить движение?



1. Во всех.
2. В, С.
3. Движение запрещено.

7 В каком месте Вы должны остановиться?



1. Перед знаком «Движение без остановки запрещено (А).
2. Перед перекрестком (Б).
3. Перед краем пересекаемой проезжей части (В).

8 На каких рисунках показана главная дорога?

1. Только на А, В.
2. Только на В, С.
3. Только на С, D.
4. Только на А, D.
5. На всех.

9 На каком рисунке изображено транспортное средство, водитель которого не нарушает правила перевозки грузов?

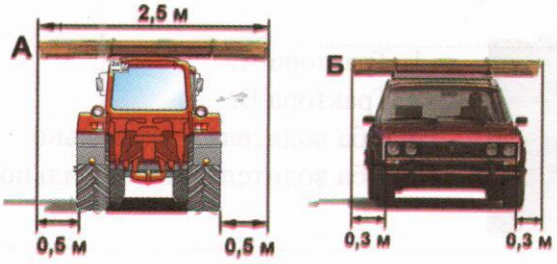

1. Только на А.
2. Только на Б.
3. На обоих.

10 Что означает требование уступить дорогу?

1. Вы должны остановиться, чтобы пропустить других участников движения.
2. Вы должны обеспечить тому, кто пользуется преимуществом, беспрепятственное движение.
3. Вы должны остановиться только при наличии дорожного знака «Уступите дорогу».

БИЛЕТ 26

11 **Разрешена ли водителю самоходной машины остановка в данном месте?**



1. Разрешена.
2. Запрещена.

12 **Разметкой в виде буквы «А» обозначают:**



1. Специальную полосу для любых автобусов.
2. Специальную полосу для маршрутных транспортных средств.
3. Место остановки и стоянки любых автобусов.

13 **Обязан ли водитель включать указатели поворота, выезжая с бензоколонки?**



1. Обязан.
2. Не обязан.
3. По своему усмотрению.

14 **Как Вы должны поступить в данной ситуации?**

1. Снизить скорость перед пешеходным переходом.
2. Обязаны пропустить слепых пешеходов, подающих сигнал белой тростью.
3. Продолжить движение, так как горит зеленый разрешающий сигнал светофора.

15 **Чем необходимо руководствоваться, если значения временных дорожных знаков и линий разметки противоречат друг другу?**

1. Требованиями линий разметки.
2. Требованиями временных дорожных знаков.
3. Правила эту ситуацию не регламентируют.

БИЛЕТ 26

16 **Какие знаки запрещают движение тракторов и самоходных машин?**



1. A и B.
2. B и C.
3. C и D.
4. Все, кроме D.
5. Только C.

17 **Разрешен ли разворот на участках дорог, обозначенных этим знаком?**



1. Разрешен только в населенных пунктах.
2. Разрешен только при видимости дороги более 100 м.
3. Не разрешен.

18 **Разрешено ли движение задним ходом на мосту?**

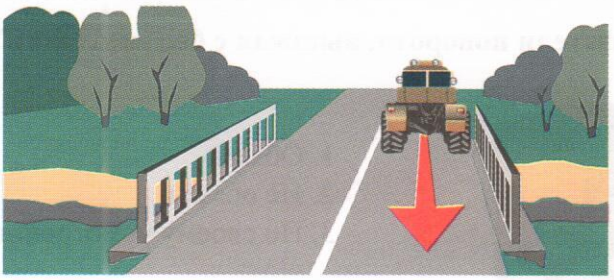

1. Разрешено.
2. Запрещено.
3. По усмотрению водителя.

19 **Разрешен ли Вам обгон в данной ситуации?**

1. Да.
2. Да, если обгон будет завершен до перекрестка.
3. Нет.

20 **Должны ли Вы уступить дорогу пешеходам, идущим к остановившемуся на остановке трамваю?**



1. Должны.
2. Не должны.

БИЛЕТ 27

1 **Что означает данная разметка?**

1. На дороге три полосы для движения.
2. Дорога с полосой для реверсивного движения.

2 **На каком расстоянии должен устанавливаться повторный знак, если переезд хорошо просматривается при видимости более 300 м?**

1. Не менее 10 м.
2. Не менее 20 м.
3. Не менее 50 м.

3 **Какие знаки означают выезд на дорогу с односторонним движением?**



1. A.
2. B.
3. B, C.
4. C, D.

4 **Должен ли водитель самоходной машины уступить дорогу трамваю?**



1. Должен.
2. Не должен.

5 **Какие внешние осветительные приборы должны быть включены на буксируемом транспортном средстве?**

1. Ближний свет фар.
2. Габаритные огни.
3. Аварийная сигнализация.

БИЛЕТ 27

6 **Разрешена ли водителю самоходной машины остановка в данном месте?**



1. Да.
2. Нет.

7 **По какой траектории Вы можете продолжить движение?**

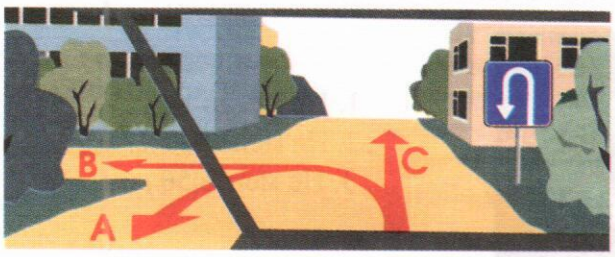

1. Только А.
2. А, С.
3. А, В.
4. По любой.

8 **Выезд со двора или с другой прилегающей территории считается:**

1. Равнозначным перекрестком.
2. Неравнозначным перекрестком.
3. Не считается перекрестком.

9 **Преимущество при движении имеет:**

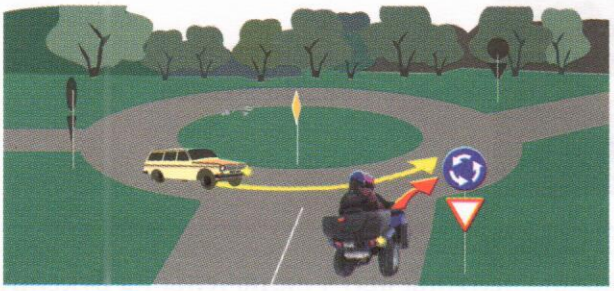

1. Легковой автомобиль.
2. Мотовездеход.

10 **Что обязан контролировать водитель перед началом и во время перевозки грузов?**

1. Размещение, крепление и состояние груза во избежание его падения.
2. Что груз не создаст помех для движения.
3. Оба перечисленных требования.

БИЛЕТ 27

11 **Последним перекресток проедет:**

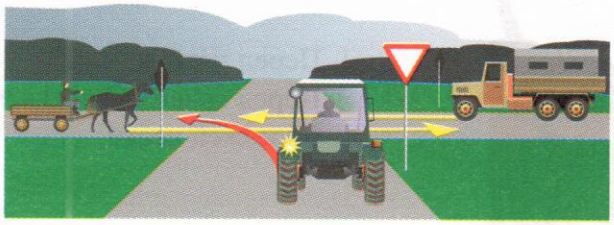

1. Грузовой автомобиль.
2. Трактор.
3. Гужевая повозка.

12 **Разрешен ли обгон в данной ситуации?**



1. Разрешен.
2. Запрещен.

13 **Что означает поднятая вверх рука водителя?**

1. Самоходная машина повернет направо.
2. Сигнал водителя о торможении.
3. Самоходная машина будет разворачиваться.

14 **Какой знак означает дорогу с полосой для маршрутных транспортных средств?**

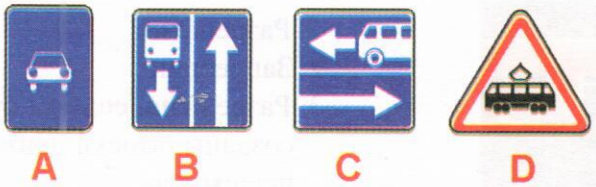

1. A.
2. B.
3. B и C.
4. A и D.

15 **В каком месте водителю транспортного средства разрешена остановка?**



1. A (за перекрестком).
2. B (напротив перекрестка).
3. C (перед перекрестком).
4. В любом.
5. A и B.

БИЛЕТ 27

16 **В каком месте Вы должны остановиться перед перекрестком?**



1. Перед знаком.
2. Перед краем пересекаемой проезжей части.

17 **В каких случаях водителю разрешено выезжать на среднюю полосу движения?**

1. При обгоне.
2. При объезде.
3. Для поворота налево или разворота.
4. Во всех перечисленных случаях.

18 **Разрешено ли транспортному средству в данном месте выехать на поле?**



1. Разрешено при отсутствии приближающего поезда.
2. Запрещено.

19 **Разрешено ли водителю самоходной машины остановиться на краю тротуара, граничащего с проезжей частью?**

1. Разрешено.
2. Запрещено.
3. Разрешено, если не будут созданы помехи движению пешеходов.

20 **Разрешено ли буксировать трактор с недействующей тормозной системой, если его масса превышает половину массы Вашего транспортного средства?**

1. Разрешено.
2. Разрешено на жесткой сцепке при скорости не более 30 км/ч.
3. Запрещено.

БИЛЕТ 28

1 **Обязан ли водитель, начиная движение с обочины дороги, влючить указатели поворота?**

1. Обязан.
2. Не обязан.
3. Обязан при наличии рядом других транспортных средств.

2 **Какая часть дороги является проезжей частью?**

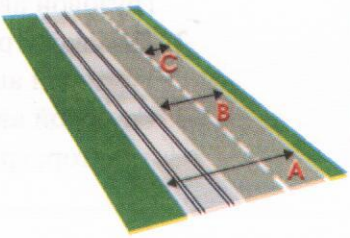

1. Только А.
2. Только В.
3. Только С.

3 **Разрешено ли движение задним ходом через железнодорожный переезд?**



1. Разрешено.
2. Запрещено.

4 **При повороте налево водитель трактора:**

1. Имеет право проехать первым.
2. Должен пропустить трамвай.

5 **На каком рисунке изображен знак железнодорожного переезда со шлагбаумом?**

1. А.
2. А и С.
3. В.
4. С.

БИЛЕТ 28

6 **Должен ли водитель самоходной машины уступить дорогу трамваю?**

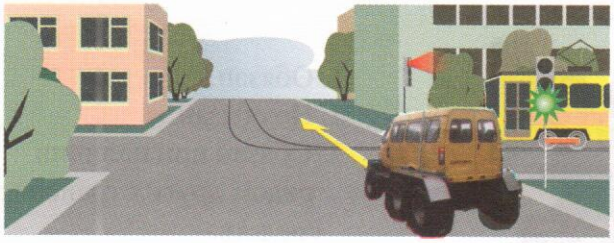

1. Должен.
2. Не должен.

7 **Транспортые средства проедут перекресток в следующем порядке:**



1. Трактор, трамвай, грузовой автомобиль.
2. Трамвай, трактор, грузовой автомобиль.
3. Грузовой автомобиль, трактор, трамвай.

8 **Водитель какого транспортного средства имеет преимущество при движении?**

1. Трактора.
2. Грузового автомобиля.

9 **Данная вертикальная разметка:**

1. Запрещает стоянку транспортных средств.
2. Запрещает остановку транспортных средств.
3. Обозначает бордюры на опасных участках дорог.

10 **Кто из водителей имеет преимущество в движении?**

1. Водитель трактора с включенным проблесковым оранжевым маячком.
2. Водитель легкового автомобиля с включенным проблесковым маячком синего цвета и специальным звуковым сигналом.

БИЛЕТ 28

11 **Как должен поступить водитель трактора, если при движении вне населенного пункта за трактором скопились транспортные средства?**



1. Продолжить движение.
2. Принять как можно правее, а при необходимости остановиться и пропустить скопившиеся транспортные средства.

12 **Разрешено ли продолжить движение?**

1. Разрешено прямо и направо.
2. Разрешено в любом направлении.
3. Запрещено.

13 **В каком направлении разрешено продолжить движение?**

1. A.
2. B.
3. C.
4. A и B.
5. В любом.

14 **Разрешено ли водителю трактора продолжить движение по данной полосе при выполнении уборочных работ?**



1. Разрешено.
2. Запрещено.

15 **Значения каких дорожных знаков отменяются сигналами светофора?**

1. Знаков приоритета.
2. Запрещающих знаков.
3. Предписывающих знаков.
4. Всех перечисленных.

БИЛЕТ 28

16 **При движении прямо Вы обязаны уступить дорогу:**



1. Легковому автомобию.
2. Гужевой повозке.
3. Всем транспортным средствам.

17 **По какой траектории водитель может совершить поворот направо?**



1. А.
2. В.
3. По любой.

18 **Как Вы должны поступить в данном случае?**



1. Продолжить движение, посигналив пешеходам.
2. Уступить дорогу пешеходам.

19 **Разрешено ли Вам обогнать трактор?**

1. Разрешено.
2. Запрещено.

20 **Разрешено ли водителю транспортного средства остановиться перед знаком?**



1. Разрешено.
2. Запрещено.
3. Разрешено при условии, что он не закроет знак от других водителей.

БИЛЕТ 29

1 **Как должно быть обозначено транспортное средство при выполнении строительных, ремонтных или уборочных работ на дороге?**

1. Включен проблесковый маячок оранжевого или желтого цвета.
2. Включен проблесковый маячок синего цвета.
3. Включен дальний свет фар.

2 **Разрешено ли водителю самоходной машины совершить обгон гужевой повозки в конце подъема?**



1. Разрешено, если нет встречного транспорта.
2. Запрещено.

3 **С какой максимальной скоростью может продолжить движение транспортное средство с разрешенной максимальной массой не более 3,5 т?**

1. 60 км/ч.
2. 70 км/ч.
3. 90 км/ч.
4. 110 км/ч.

4 **Транспортное средство с включенным проблесковым маячком оранжевого цвета проедет перекресток:**



1. Первым.
2. Вторым.
3. Третьим.

5 **Имеет ли право автомобиль с включенным проблесковым маячком продолжить движение прямо?**



1. Имеет.
2. Не имеет.

БИЛЕТ 29

6 **О чем предупреждает установленный знак?**



1. Что при въезде в тоннель будет затруднен разъезд со встречными транспортными средствами.
2. Отсутствует искусственное освещение.
3. Очередность движения регулируется светофором.

7 **О чем предупреждает данная линия разметки с изображением стрелки?**



1. О приближении к сужению проезжей части.
2. О возможности перестроения на другую полосу движения.
3. О приближении к перекрестку с поворотом направо.

8 **Разрешено ли водителю самоходной машины совершить обгон гужевой повозки?**

1. Разрешено.
2. Запрещено.

9 **Разрешена ли остановка транспортного средства в указанном месте?**

1. Разрешена.
2. Запрещена.

10 **При движении прямо нужно ли уступать дорогу встречному автомобилю, поворачивающему налево?**

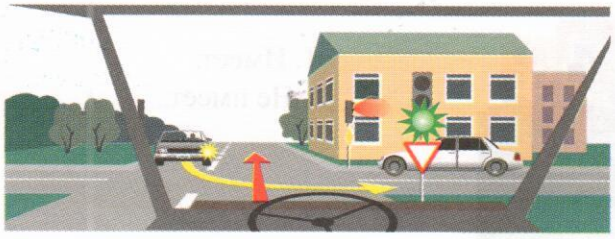

1. Нужно.
2. Не нужно.

БИЛЕТ 29

11 **Разрешено ли Вам проехать железнодорожный переезд?**



1. Да, так как дежурный по переезду запрещает движение только встречному автомобилю.
2. Да, если отсутствует приближающийся поезд.
3. Нет.

12 **Следует ли уступить дорогу грузовому автомобилю на перекрестке с круговым движением?**

1. Да.
2. Нет.

13 **Как Вы намерены продолжить движение прямо при желтом мигающем сигнале светофора:**



1. Проехать перекресток первым.
2. Уступить дорогу только грузовому автомобилю.
3. Уступить дорогу только трамваю.
4. Уступить дорогу обоим транспортным средствам.

14 **Какой знак запрещает дальнейшее движение всех без исключения транспортных средств?**

1. А.
2. Б.
3. В.

15 **Какую скорость должен соблюдать водитель при возникновении опасности для движения?**

1. Предельно малую.
2. Должен принять необходимые меры к снижению скорости вплоть до остановки транспортного средства.
3. Продолжить движение, не снижая скорости,чтобы покинуть опасное место.

БИЛЕТ 29

16 **Какими знаками Вы должны руководствоваться, если значения временных дорожных знаков (на переносной стойке) и стационарных дорожных знаков противоречат друг другу?**

1. Значениями временных знаков.
2. Значениями стационарных знаков.

17 **Кто из водителей должен уступить дорогу пешеходам?**



1. Только водитель мотовездехода.
2. Только водитель грузового автомобиля.
3. Оба водителя.

18 **По какой полосе разрешено продолжить движение водителю самоходной машины вне населенного пункта?**



1. По любой.
2. По крайней правой.

19 **Что обозначает широкая прерывистая линия разметки?**



1. Границу между полосой торможения и основной полосой проезжей части.
2. Разделяет полосы на проезжей части.
3. Обозначает полосы движения в пределах перекрестка.

20 **Разрешен ли в данной ситуации обгон?**



1. Запрещен.
2. Разрешен, если скорость грузового автомобиля менее 30 км/ч.
3. Разрешен.

БИЛЕТ 30

1 **Какие знаки действуют на той стороне дороги, на которой они установлены?**

1. A и B.
2. C и D.
3. E.
4. Все, кроме E.

2 **Кто из водителей, совершающих поворот, нарушает правила?**

1. Только водитель легкового автомобиля.
2. Только мотовездехода.
3. Оба нарушают.
4. Оба не нарушают.

3 **При желтом мигающем сигнале светофора, двигаясь прямо, Вы должны:**

1. Продолжить движение после включения зеленого сигнала светофора.
2. Уступить дорогу гужевой повозке.
3. Проехать перекресток одновременно со встречным автомобилем.

4 **Что означает данная желтая линия разметки?**



1. Остановка маршрутных транспортных средств.
2. Стоянка такси.
3. Остановка маршрутных транспортных средств и стоянка такси.
4. Место, где запрещена стоянка.

5 **Что обязаны сделать в первую очередь водители, причастные к ДТП?**

1. Немедленно остановить транспортное средство, включить аварийную световую сигнализацию, выставить знак аварийной остановки, не перемещать предметы, имеющие отношение к происшествию.
2. Принять возможные меры для оказания доврачебной медицинской помощи пострадавшим.
3. Сообщить о случившемся в полицию.
4. Все перечисленное в п. 1-3.

БИЛЕТ 30

6 **Разрешена ли Вам остановка в указанном месте?**



1. Разрешена.
2. Разрешена только с заездом на тротуар.
3. Разрешена, если не создается помех маршрутным транспортным средствам.
4. Не разрешена.

7 **В каких направлениях Вам разрешено продолжить движение?**



1. Только Б.
2. Только А или Б.
3. В любых.

8 **Следует ли Вам уступить дорогу грузовому автомобилю?**

1. Да.
2. Нет.

9 **В каком месте Вам разрешено обогнать тихоходное транспортное средство?**



1. Перед железнодорожным переездом.
2. На железнодорожном переезде.
3. За железнодорожным переездом.

10 **На какие транспортные средства распространяются сигналы такого светофора?**



1. Только на трамваи.
2. На трамваи, а также другие маршрутные транспортные средства, движущиеся по выделенной для них полосе.
3. На все маршрутные транспортные средства.

БИЛЕТ 30

11 **При включении зеленого сигнала светофора Вы должны:**



1. Убедиться в отсутствии пешеходов, завершающих переход проезжей части, после этого начать движение.
2. Руководствуясь сигналом светофора, сразу начать движение.

12 **Какой знак разрешает левый поворот?**



1. A.
2. A и B.
3. C.
4. D.
5. C и D.

13 **В каком месте Вы должны остановиться в данной ситуации?**



1. У знака «Движение без остановки запрещено».
2. У знака «Однопутная железная дорога».
3. За 5 м до первого рельса.
4. В любом месте.

14 **Каким транспортным средствам разрешено движение прямо?**

1. Только мотовездеходу и грузовому автомобилю.
2. Только грузовому автомобилю.
3. Только грузовому автомобилю и автобусу.
4. Всем транспортным средствам.

15 **Нарушили ли водители грузового автомобиля и трактора правила стоянки?**

1. Нарушили.
2. Нарушили, если разрешенная максимальная масса автомобиля или трактора более 3,5 т.
3. Не нарушили.

БИЛЕТ 30

16 **Должен ли водитель трактора уступить дорогу трамваю, приближающемуся слева?**

1. Должен.
2. Не должен.

17 **Что означает желтый мигающий сигнал светофора?**

1. Перекресток считается нерегулируемым.
2. Скоро включится красный сигнал светофора.
3. Скоро включится зеленый сигнал светофора.

18 **Водитель какого транспортного средства должен проехать первым?**



1. Водитель трактора.
2. Водитель грузового автомобиля.

19 **Какое транспортное средство первым проедет перекресток?**



1. Автомобиль.
2. Самоходная машина.

20 **Где указана дистанция между транспортными средствами?**

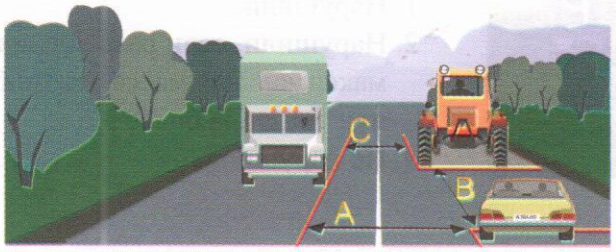

1. А и С.
2. В.
3. А, В и С.

БИЛЕТ 31

1 **Правильно ли остановился водитель самоходной машины?**



1. Правильно.
2. Неправильно.

2 **Когда могут применяться звуковые сигналы при движении вне населенных пунктов?**

1. Только для предупреждения других водителей об обгоне.
2. Для предотвращения дорожно-транспортного происшествия.
3. Верно п.1, 2.

3 **Нарушил ли водитель мотовездехода правила остановки?**



1. Нарушил.
2. Не нарушил.

4 **Должны ли Вы уступить дорогу легковому автомобилю?**



1. Должны.
2. Не должны.

5 **По какой траектории Вы можете совершить разворот?**



1. А.
2. В.
3. А и В.

БИЛЕТ 31

6 **В каких направлениях разрешено продолжить движение?**

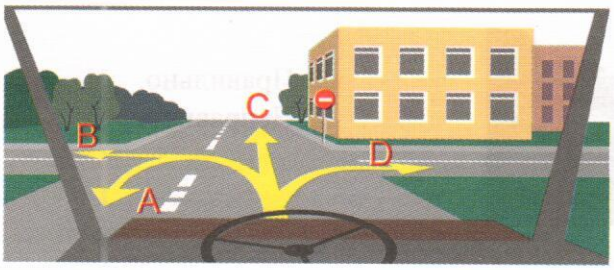

1. B и D.
2. B, C, D.
3. В любых, кроме C.

7 **Разрешено ли водителю самоходной машины продолжить движение по дороге, обозначенной данным знаком?**

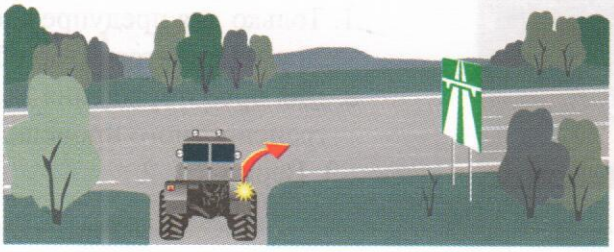

1. Разрешено.
2. Запрещено.
3. Разрешено в крайнем правом ряду.

8 **Сколько проезжих частей имеет данная дорога?**

1. Одну.
2. Две.
3. Четыре.

9 **Обязаны ли Вы уступить дорогу автомобилю с включенным проблесковым маячком синего цвета и специальным звуковым сигналом?**



1. Обязаны.
2. Не обязаны.

10 **Чем должны руководствоваться водители и пешеходы, если сигналы регулировщика противоречат сигналам светофора, дорожным знакам и разметке?**

1. Сигналами регулировщика.
2. Знаками и разметкой.
3. Сигналами светофора.

БИЛЕТ 31

11 **Разрешено ли совершить разворот в этом месте?**

1. Разрешено.
2. Запрещено, так как пересекается сплошная линия.

12 **Разрешена ли водителю самоходной машины стоянка в данном месте?**



1. Разрешена.
2. Запрещена.

13 **Кто имеет преимущество при движении?**



1. Трамвай.
2. Трактор.

14 **Должен ли водитель при движении по данному участку дороги включить левый указатель поворота?**

1. Должен.
2. Не должен, так как сигнал введет в заблуждение других участников движения.

15 **Разрешено ли движение задним ходом на перекрестке?**

1. Разрешено.
2. Разрешено лишь при отсутствии попутных и встречных транспортных средств.
3. Запрещено.

БИЛЕТ 31

16 **Какое транспортное средство проедет перекресток вторым?**

1. Легковой автомобиль.
2. Мотовездеход.
3. Комбайн.

17 **В каком месте разрешен разворот?**

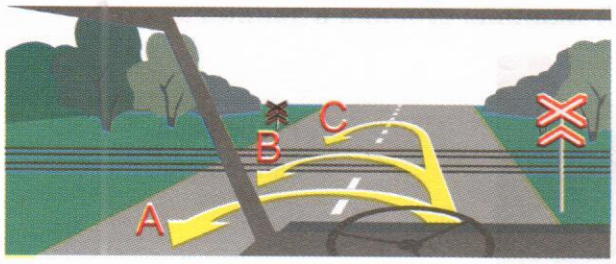

1. А.
2. В.
3. С.
4. А и С.

18 **В каких направлениях разрешено продолжить движение?**



1. Во всех направлениях.
2. В и С.
3. Движение запрещено.

19 **Должен ли водитель транспортного средства подать сигнал поворота при выезде с поля на укатанную дорогу?**

1. Должен.
2. Не должен.
3. По его усмотрению.

20 **В каком направлении разрешено продолжить движение на перекрестке?**



1. В любом.
2. В и С.
3. С.

БИЛЕТ 32

1 **В какой последовательности проедут перекресток транспортные средства?**

1. Трактор, затем грузовой автомобиль.
2. Трактор первым выезжает на перекресток, а после проезда грузового автомобиля заканчивает разворот.

2 **Разрешено ли въехать на пешеходный переход, если за ним образовался затор?**



1. Разрешено.
2. Запрещено.
3. По усмотрению водителя.

3 **Разрешено ли проехать через железнодорожный переезд, если скорость движения транспортного средства менее 8 км/ч?**



1. Разрешено.
2. Запрещено.
3. Разрешено только с разрешения начальника дистанции пути железной дороги.

4 **Каким способом разрешена буксировка механических транспортных средств в гололед?**

1. На гибкой сцепке.
2. На жесткой сцепке.
3. Буксировка запрещена.

5 **Нарушают ли пешеходы ПДД, двигаясь по проезжей части?**



1. Нарушают.
2. Не нарушают.

БИЛЕТ 32

6 **Каким способом должно быть обозначено буксируемое транспортное средство при неисправной аварийной световой сигнализации?**

1. Должны быть включены внешние световые приборы.
2. На задней части должен быть закреплен знак аварийной остановки.
3. На задней части должен быть закреплен знак «Прочие опасности».

7 **Разрешено ли водителю мотовездехода остановиться в данном месте в населенном пункте?**



1. Разрешено.
2. Запрещено.

8 **На каком расстоянии необходимо переключить дальний свет фар на ближний?**

1. Не менее чем за 150 м.
2. Не менее чем за 300 м.
3. По усмотрению водителя.

9 **Какое транспортное средство имеет преимущество движения?**



1. Трактор.
2. Автобус, начинающий движение от обозначенной остановки.

10 **Что нарушает водитель самоходного комбайна при движении по дороге?**



1. Правил не нарушает.
2. Движется с малой скоростью.
3. Не занял соответствующую полосу для движения.

БИЛЕТ 32

11 **Каким должно быть расстояние между транспортными средствами при буксировке на гибкой сцепке?**

1. 2-4 м.
2. 4-6 м.
3. 6-8 м.
4. Не менее 6 м.

12 **Какие внешние световые приборы должны быть включены при въезде в тоннель?**

1. Габаритные огни.
2. Аварийная световая сигнализация.
3. Ближний или дальний свет фар.

13 **Какими знаками обозначают участки, на которых необходимо уступать дорогу пешеходам?**

А Б В

1. Только А и Б.
2. Только Б и В.
3. Всеми знаками.

14 **Разрешено ли Вам в данной ситуации обогнать водителя неисправного мотоцикла на перекрестке?**

1. Разрешено.
2. Запрещено.

15 **Нарушил ли водитель правила перевозки грузов?**



1. Нарушил, так как выступающий сзади груз не обозначен знаком «Крупногабаритный груз».
2. Не нарушил.

БИЛЕТ 32

16 **Разрешено ли продолжить движение через перекресток прямо, если Вы не живете и не работаете в зоне действия данного знака?**



1. Разрешено.
2. Запрещено.
3. Разрешено в субботние, воскресные и праздничные дни.

17 **Должен ли водитель транспортного средства уступить дорогу автомобилю с включенным проблесковым маячком синего цвета и невключенной специальной звуковой сигнализацией?**

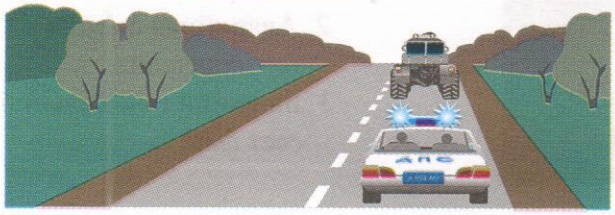

1. Должен.
2. Не должен.

18 **Что обозначают знаки?**



1. Через 500 м - опасные повороты.
2. Через 150-300 м – участок дороги с опасными поворотами протяженностью 500 м.

19 **Разрешена ли Вам подача звукового сигнала в населенном пункте?**



1. Разрешена.
2. Запрещена.
3. Разрешена для предотвращения ДТП.

20 **Должны ли водители движущихся транспортных средств в светлое время суток включать фары ближнего света?**

1. Не должны.
2. Должны.
3. Должны в населенных пунктах.

БИЛЕТ 33

1 **Должен ли водитель трактора уступить дорогу маршрутному такси, начинающему движение от тротуара вне обозначенного места остановки?**

1. Должен.
2. Не должен.

2 **Разрешено ли Вам продолжить движение?**



1. Разрешено.
2. Запрещено.

3 **Как должен поступить в данной ситуации водитель самоходной машины?**

1. Проехать первым.
2. Пропустить грузовой автомобиль.

4 **Последним перекресток проедет:**



1. Легковой автомобиль.
2. Грузовой автомобиль.
3. Трактор.

5 **Что обозначает данный знак?**

1. Предварительный указатель перестроения на другую проезжую часть.
2. Указатель перестроения на другую полосу движения.
3. Предварительный указатель перестроения на другую дорогу.

БИЛЕТ 33

6 **В каком из указанных мест можно пересечь сплошную линию разметки и остановиться?**



1.Только А.
2. Только Б.
3. В любом.
4. Ни в одном.

7 **Укажите очередность проезда перекрестка транспортными средствами.**



1. Легковой автомобиль одновременно с гужевой повозкой, трактор.
2. Легковой автомобиль, трактор, гужевая повозка.
3. Трактор, гужевая повозка, легковой автомобиль.

8 **Должен ли водитель мотовездехода уступить дорогу легковому автомобилю?**

1. Должен.
2. Не должен.

9 **Какой знак должен быть закреплен на задней части буксируемого механического транспортного средства при отсутствии или неисправности аварийной сигнализации?**



1. А.
2. Б.
3. В.

10 **Что означает термин «Недостаточная видимость»?**

1. Видимость дороги менее 100 м вблизи опасных поворотов и переломов продольного профиля дороги.
2. Видимость дороги менее 300 м в условиях тумана, дождя, снегопада и т. п., а также в сумерки.
3. Видимость дороги менее 150 м в ночное время суток.

БИЛЕТ 33

11 **Должны ли Вы уступить дорогу грузовому автомобилю?**



1. Да.
2. Нет.

12 **Разрешено ли водителю развернуться в тоннеле?**



1. Разрешено.
2. Запрещено.

13 **В каком месте должен остановиться водитель при запрещающем сигнале светофора?**



1. Перед перекрестком.
2. Перед пересекаемой проезжей частью.
3. Перед стоп-линией.

14 **Разрешено ли водителю трактора обогнать гужевую повозку?**



1. Разрешено.
2. Запрещено.

15 **На каком расстоянии устанавливается последняя комбинация знаков при недостаточной обзорности переезда вне населенного пункта ?**

1. 150-300 м.
2. 100-150 м.
3. 50-100 м.

БИЛЕТ 33

16 **Разрешена ли Вам стоянка в указанном месте?**



1. Разрешена.
2. Разрешена, но только в светлое время суток.
3. Запрещена.

17 **Данный светофор применяется для регулирования движения:**



1. По всем полосам проезжей части.
2. По полосам проезжей части, направление движения по которым может быть изменено на противоположное.
3. По полосам, предназначенным для маршрутных транспортных средств.

18 **В каком случае Вы имеете право выехать на перекресток, если за ним образовался затор?**

1. Только если Вы намерены совершить поворот или разворот.
2. В любом случае.

19 **По какой траектории Вам разрешено выполнить разворот?**

1. Только по А.
2. Только по Б.
3. По любой.

20 **Что называется разрешенной максимальной массой транспортного средства?**

1. Максимально допустимая для перевозки масса груза, установленная предприятием-изготовителем.
2. Масса снаряженного транспортного средства без учета массы водителя, пассажиров и груза, установленная предприятием-изготовителем.
3. Масса снаряженного транспортного средства с грузом, водителем и пассажирами, установленная предприятием-изготовителем в качестве максимально допустимой.

БИЛЕТ 34

1 **Дневные ходовые огни предназначены для:**

1. Улучшения видимости движущегося транспортного средства в светлое время суток как спереди, так и сзади.
2. Улучшения видимости движущегося транспортного средства в светлое время суток только спереди.
3. Улучшения видимости движущегося транспортного средства в светлое время суток только сзади.

2 **Водитель какого транспортного средства не нарушает ПДД?**

1. Только автомобиля А.
2. Только мотовездехода Б.
3. Никто не нарушает.

3 **При повороте направо Вы должны уступить дорогу:**

1. Только велосипедисту.
2. Только пешеходам.
3. Пешеходам и велосипедисту.
4. Никому.

4 **На каком рисунке изображен автомобиль, водитель которого не нарушает правил перевозки грузов?**

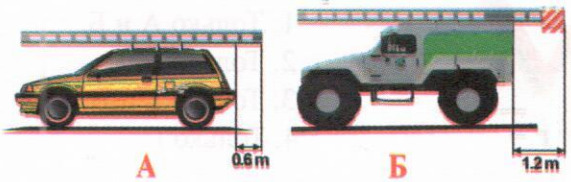

1. Только на А.
2. Только на Б.
3. На обоих.

5 **В каком случае Вам необходимо двигаться со скоростью до 40 км/ч?**

1. Во всех случаях.
2. Только в том случае, когда покрытие на дороге влажное.

БИЛЕТ 34

6 **Разрешено ли Вам на перекрестке повернуть налево?**

1. Разрешено.
2. Запрещено.

7 **Разрешено ли водителю поставить трактор на стоянку в этом месте указанным способом?**

1. Да.
2. Да, если разрешенная максимальная масса трактора менее 3,5 т.
3. Нет.

8 **Кому следует уступить дорогу при повороте налево?**

1. Только пешеходам.
2. Только автобусу.
3. Автобусу и пешеходам.
4. Никому.

9 **Какие знаки требуют обязательной остановки?**

1. Только А и Б.
2. Только Б.
3. Только Б и В.
4. Только Г.

10 **Как вы должны поступить при приближении к стоящему у обочины автомобилю с включенным проблесковым маячком синего цвета?**



1. Продолжить движение с прежней скоростью.
2. Снизить скорость, чтобы немедленно остановиться в случае необходимости.
3. Остановиться у обочины и дождаться разрешения двигаться дальше.

БИЛЕТ 34

11 **Разрешено ли Вам поставить мотовездеход на стоянку за путепроводом?**



1. Разрешено.
2. Запрещено.

12 **Этот знак указывает:**

1. Вы должны повернуть только направо или налево.
2. На пересекаемой дороге реверсивное движение.
3. На пересекаемой дороге одностороннее движение.

13 **Эта разметка, нанесенная на полосе движения:**

1. Разрешает Вам только поворот налево.
2. Разрешает Вам только разворот.
3. Разрешает Вам поворот налево и разворот.

14 **Следует ли Вам уступить дорогу автомобилю, выполняющему разворот?**

1. Да.
2. Нет.

15 **О чем информируют Вас эти дорожные знаки?**



1. О приближении к перекрестку, где установлен знак «Уступите дорогу».
2. О приближении к перекрестку, где установлен знак «Движение без остановки запрещено».
3. О приближении к таможне.

БИЛЕТ 34

16 **Вы намерены повернуть налево. Кому следует уступить дорогу?**

1. Только автобусу.
2. Только велосипедисту.
3. Никому.

17 **Что необходимо предпринять при вынужденной остановке на переезде?**

1. Оставаться возле трактора и подавать сигналы общей тревоги.
2. При появлении поезда бежать ему навстречу, подавая сигнал остановки.
3. Верно п. 1, 2.

18 **Что запрещено в зоне действия этого знака?**

1. Движение со скоростью более 20 км/ч.
2. Движение только механических транспортных средств.
3. Движение любых транспортных средств.

19 **Нарушил ли водитель Правила при вынужденной остановке на автомагистрали?**



1. Да.
2. Да, если не выставил знак аварийной остановки.
3. Нет.

20 **При затрудненном встречном разъезде на таком участке дороги преимущество в движении имеет:**

1. Водитель мотовездехода.
2. Водитель грузового автомобиля.

БИЛЕТ 35

1 **Являются ли тротуары и обочины элементом дороги?**

1. Являются.
2. Являются только обочины.
3. Не являются.

2 **Транспортные средства проедут перекресток в следующем порядке:**

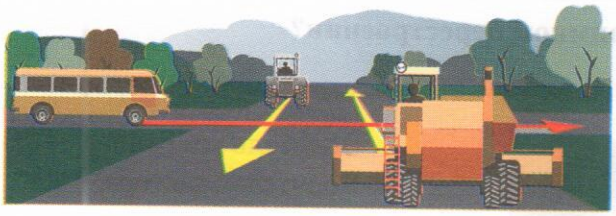

1. Автобус, трактор, комбайн.
2. Комбайн, автобус, трактор.
3. Комбайн, одновременно с ним трактор, автобус.

3 **В каком месте должен остановиться водитель самоходной машины в случаях, когда движение через переезд запрещено?**

1. Не ближе 5 м до ближайшего рельса.
2. Не ближе 10 м до ближайшего рельса.
3. Непосредственно перед железнодорожным переездом.

4 **Что обозначает данная вертикальная разметка?**

1. Край проезжей части.
2. Радиус поворота.
3. Боковые поверхности ограждений дорог на закруглениях малого радиуса, крутых спусках, других опасных участках.

5 **По какой траектории водитель правильно выполнит разворот?**



1. А.
2. В.
3. По любой.

БИЛЕТ 35

6 **Количество полос для движения на проезжей части определяется:**

1. Только разметкой.
2. Только соответствующими знаками.
3. Разметкой или знаками, а если их нет, то самими водителями.

7 **Кто должен уступить дорогу при взаимном перестроении?**



1. Водитель комбайна.
2. Водитель трактора.

8 **Какие знаки устанавливают непосредственно перед железнодорожным переездом?**

1.Только А.
2. Только Б.
3. Только В.
4. А, В.

9 **Должны ли Вы уступить дорогу встречному грузовому автомобилю?**

1. Да.
2. Нет.

10 **Эта разметка обозначает:**



1. Номер дороги или маршрута.
2. Рекомендуемая скорость движения.
3. Дублирование соответствующего дорожного знака.

БИЛЕТ 35

11 **Первым проедет перекресток:**



1. Легковой автомобиль.
2. Трактор.

12 **Разрешена ли остановка в данном месте?**

1. Разрешена.
2. Запрещена.

13 **Разрешено ли продолжение движения через железнодорожный переезд?**



1. Разрешено.
2. Разрешено при отсутствии приближающегося поезда.
3. Запрещено.

14 **Как Вы должны поступить, если идущее впереди транспортное средство замедлило свой ход перед пешеходным переходом?**

1. Продолжить движение с прежней скоростью.
2. Убедиться, что перед указанным транспортным средством нет пешеходов, затем продолжить движение.

15 **Разрешен ли обгон на перекрестках ?**

1. Разрешен только на нерегулируемых перекрестках.
2. Разрешен только на нерегулируемых перекрестках при движении по главной дороге.
3. Запрещен во всех случаях.

БИЛЕТ 35

16 **На каком рисунке изображено механическое транспортное средство?**



1. A, B, C.
2. B, C, D.
3. B.
4. На всех.

17 **Какие знаки предоставляют Вам преимущество при проезде нерегулируемых перекрестков?**



1. Только А.
2. А и В.
3. Все.

18 **Какой маневр намеревается выполнить водитель транспортного средства?**



1. Обгон.
2. Перестроение с дальнейшим опережением.
3. Объезд.

19 **Какими должны быть действия водителя трактора при перестроении?**

1. Имеет право проехать первым, чтобы объехать препятствие.
2. Должен пропустить автомобиль, движущийся по соседней полосе.

20 **Что означает данный сигнал светофора?**

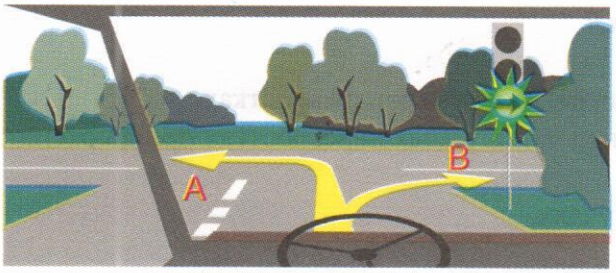

1. Разрешает движение в любом направлении.
2. Разрешает движение только в направлении B.
3. Запрещает движение в направлении A.

БИЛЕТ 36

1 **С какой максимальной скоростью Вы можете продолжить движение после знака, если Вы буксируете неисправное механическое транспортное средство?**

1. 50 км/ч.
2. 70 км/ч.
3. 90 км/ч.

2 **В каком случае Вы можете прибегнуть к резкому торможению?**

1. Только для остановки перед перекрестком или пешеходным переходом, когда после зеленого сигнала неожиданно для Вас включился желтый сигнал светофора.
2. Только для предотвращения дорожно-транспортного происшествия.
3. В обоих перечисленных случаях.

3 **Какой знак используется для обозначения границ искусственной неровности?**

А

Б

В

1. Только А.
2. Только Б.
3. Б и В.

4 **Вы намерены развернуться на перекрестке. Ваши действия?**

1. Уступите дорогу только легковому автомобилю и развернетесь.
2. Уступите дорогу обоим транспортным средствам и развернетесь.

5 **Кто из водителей нарушает правила дорожного движения?**

1. Все водители.
2. Никто из водителей.
3. Только водитель трактора.
4. Только водитель легкового автомобиля.
5. Водители грузового автомобиля и трактора.

БИЛЕТ 36

6 **В каком месте запрещена остановка транспортных средств?**

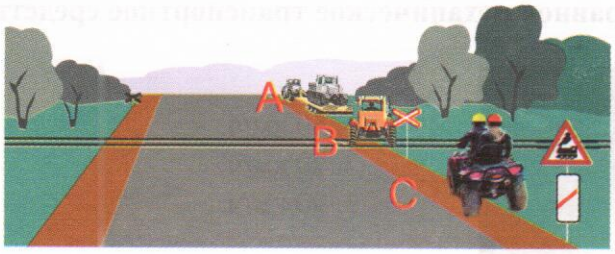

1. А.
2. В.
3. В и С.
4. Во всех местах.

7 **На каком расстоянии до опасного участка дороги в населенном пункте устанавливаются эти знаки?**

1. 15-20 м.
2. 50-100 м.
3. 100-150 м.
4. 150-300 м.

8 **Должна ли самоходная машина уступить дорогу грузовому автомобилю?**

1. Должна.
2. Не должна.

9 **Разрешено ли Вам начать обгон идущего впереди транспортного средства в данной ситуации?**

1. Разрешено.
2. Запрещено.

10 **При каком сигнале светофора водителю разрешено закончить разворот?**



1. При зеленом.
2. При красном.
3. При любом.

БИЛЕТ 36

11 **Сколько перекрестков изображено на рисунке?**



1. Один.
2. Два.
3. Четыре.

12 **Действие каких знаков распространяется только до ближайшего перекрестка?**

А Б В Г

1. А, В.
2. Б, Г.
3. В, Г.
4. Всех указанных знаков.

13 **На каком рисунке изображена дорога с разделительной полосой?**

А Б

1. На рисунке А.
2. На рисунке Б.
3. На обоих рисунках.
4. Ни на одном.

14 **Разрешено ли водителю транспортного средства выехать на железнодорожный переезд, если за ним образовался затор?**



1. Разрешено.
2. Запрещено.
3. Разрешено при отсутствии поезда в пределах видимости.

15 **Разрешен ли разворот на указанном участке дороги?**

1. Разрешен.
2. Не разрешен.
3. Разрешен только при видимости дороги более 100 м.

БИЛЕТ 36

16 **Что обозначает разметка в виде треугольника на полосе движения?**



1. Вы въезжаете на опасный участок дороги.
2. Предупреждает о приближении к месту, где нужно уступить дорогу.
3. Показывает место, где необходимо остановиться.

17 **Что обозначает желтая линия разметки?**



1. Место, где запрещена стоянка.
2. Место, где запрещена остановка.
3. Место остановки маршрутных транспортных средств.

18 **Выполнение какого маневра запрещает Вам данная линия разметки?**

1. Только обгона.
2. Только объезда.
3. Только разворота.
4. Ничего не запрещает.

19 **Какие знаки информируют Вас, что на данной дороге действуют требования ПДД, устанавливающие порядок движения в населенных пунктах?**

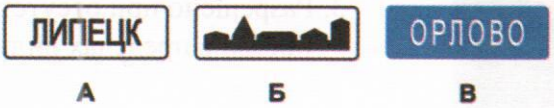

А Б В

1. Только А.
2. Только А и Б.
3. Все.

20 **Разрешен ли Вам разворот в указанном месте?**



1. Разрешен.
2. Не разрешен.

БИЛЕТ 37

1 **Первым проедет перекресток:**



1. Трамвай.
2. Трактор.

2 **В каких случаях на транспортном средстве должен быть включен проблесковый маячок оранжевого цвета?**

1. При выполнении строительных, ремонтных или уборочных работ на дороге.
2. При перевозке тяжеловесных, крупногабаритных или опасных грузов в случаях, предусмотренных правилами перевозки этих грузов.
3. В обоих перечисленных случаях.

3 **С какой скоростью Вы можете продолжить движение в населенном пункте по правой полосе?**

1. Не более 50 км/ч.
2. Не более 60 км/ч.
3. Не менее 50 км/ч и не более 60 км/ч.

4 **Водитель какого транспортного средства правильно выполняет поворот?**



1. Трактора А.
2. Трактора В.
3. Оба водителя – правильно.
4. Оба водителя – неправильно.

5 **Что означают данные знаки?**

1. Запрещается въезд всех транспортных средств в данном направлении.
2. Запрещается въезд всех транспортных средств в данном направлении кроме автобусов.
3. Запрещается въезд автобусов в данном направлении.

БИЛЕТ 37

6 **Что означает данная разметка?**

1. На дороге три полосы для движения.
2. Дорога с полосой для реверсивного движения.

7 **На каком расстоянии должен устанавливаться повторный знак, если переезд хорошо просматривается при видимости более 300 м?**

1. Не менее 10 м.
2. Не менее 20 м.
3. Не менее 50 м.

8 **Нарушил ли водитель мотовездехода правила остановки?**



1. Нарушил.
2. Не нарушил.

9 **Должен ли водитель самоходной машины уступить дорогу трамваю?**



1. Должен.
2. Не должен.

10 **Какие внешние осветительные приборы должны быть включены на буксируемом транспортном средстве?**

1. Ближний свет фар.
2. Габаритные огни.
3. Аварийная сигнализация.

БИЛЕТ 37

11 **Обязан ли водитель, начиная движение с обочины дороги, влючить указатели поворота?**



1. Обязан.
2. Не обязан.
3. Обязан при наличии рядом других транспортных средств.

12 **Какая часть дороги является проезжей частью?**



1. Только А.
2. Только В.
3. Только С.

13 **Разрешено ли движение задним ходом через железнодорожный переезд?**



1. Разрешено.
2. Запрещено.

14 **При повороте налево водитель трактора:**



1. Имеет право проехать первым.
2. Должен пропустить трамвай.

15 **На каком рисунке изображен знак железнодорожного переезда со шлагбаумом?**

1. А.
2. А и С.
3. В.
4. С.

БИЛЕТ 37

16 **Как должно быть обозначено транспортное средство при выполнении строительных, ремонтных или уборочных работ на дороге?**



1. Включен проблесковый маячок оранжевого или желтого цвета.
2. Включен проблесковый маячок синего цвета.
3. Включен дальний свет фар.

17 **Разрешено ли водителю самоходной машины совершить обгон гужевой повозки в конце подъема?**



1. Разрешено, если нет встречного транспорта.
2. Запрещено.

18 **С какой максимальной скоростью может продолжить движение транспортное средство с разрешенной максимальной массой не более 3,5 т?**

1. 60 км/ч.
2. 70 км/ч.
3. 90 км/ч.
4. 110 км/ч.

19 **Транспортное средство с включенным проблесковым маячком оранжевого цвета проедет перекресток:**



1. Первым.
2. Вторым.
3. Третьим.

20 **Имеет ли право автомобиль с включенным проблесковым маячком продолжить движение прямо?**

1. Имеет.
2. Не имеет.

БИЛЕТ 38

1 **Какие знаки действуют на той стороне дороги, на которой они установлены?**

1. A и B.
2. C и D.
3. E.
4. Все, кроме E.

2 **Кто из водителей, совершающих поворот, нарушает Правила?**

1. Только водитель легкового автомобиля.
2. Только мотовездехода.
3. Оба нарушают.
4. Оба не нарушают.

3 **При желтом мигающем сигнале светофора, двигаясь прямо, Вы должны:**

1. Продолжить движение после включения зеленого сигнала светофора.
2. Уступить дорогу гужевой повозке.
3. Проехать перекресток одновременно со встречным автомобилем.

4 **Что означает данная желтая линия разметки?**



1. Остановка маршрутных транспортных средств.
2. Стоянка такси.
3. Остановка маршрутных транспортных средств и стоянка такси.
4. Место, где запрещена стоянка.

5 **Что обязаны сделать в первую очередь водители, причастные к ДТП?**

1. Немедленно остановить транспортное средство, включить аварийную световую сигнализацию, выставить знак аварийной остановки, не перемещать предметы, имеющие отношение к происшествию.
2. Принять возможные меры для оказания доврачебной медицинской помощи пострадавшим.
3. Сообщить о случившемся в полицию.
4. Все перечисленное в п. 1-3.

БИЛЕТ 38

6 **Правильно ли остановился водитель самоходной машины?**



1. Правильно.
2. Неправильно.

7 **Когда могут применяться звуковые сигналы при движении вне населенных пунктов?**

1. Только для предупреждения других водителей об обгоне.
2. Для предотвращения дорожно-транспортного происшествия.
3. Верно п.1, 2.

8 **Какие знаки означают выезд на дорогу с односторонним движением?**

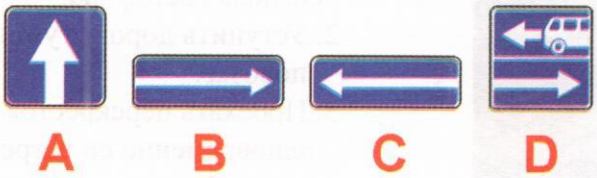

1. A.
2. B.
3. B, C.
4. C, D.

9 **Должны ли Вы уступить дорогу легковому автомобилю?**

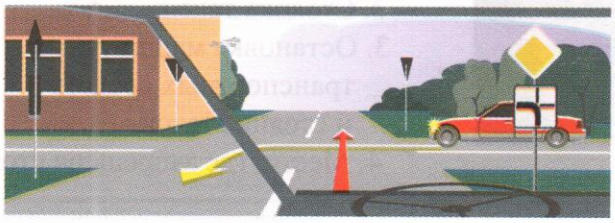

1. Должны.
2. Не должны.

10 **По какой траектории Вы можете совершить разворот?**

1. А.
2. В.
3. А и В.

БИЛЕТ 38

11 В какой последовательности проедут перекресток транспортные средства?

1. Трактор, затем грузовой автомобиль.
2. Трактор первым выезжает на перекресток, а после проезда грузового автомобиля заканчивает разворот.

12 Разрешено ли въехать на пешеходный переход, если за ним образовался затор?



1. Разрешено.
2. Запрещено.
3. По усмотрению водителя.

13 Разрешено ли проехать через железнодорожный переезд, если скорость движения транспортного средства менее 8 км/ч?

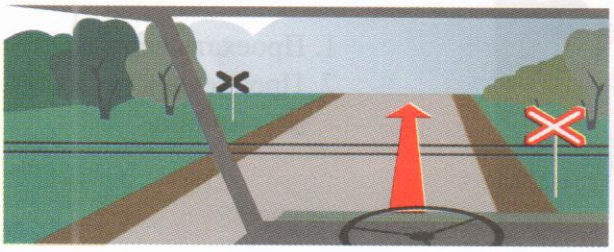

1. Разрешено.
2. Запрещено.
3. Разрешено только с разрешения начальника дистанции пути железной дороги.

14 Каким способом разрешена буксировка механических транспортных средств в гололед?

1. На гибкой сцепке.
2. На жесткой сцепке.
3. Буксировка запрещена.

15 Нарушают ли пешеходы ПДД, двигаясь по проезжей части?



1. Нарушают.
2. Не нарушают.

БИЛЕТ 38

16 **Должен ли водитель трактора уступить дорогу маршрутному такси, начинающему движение от тротуара вне обозначенного места остановки?**



1. Должен.
2. Не должен.

17 **Разрешено ли Вам продолжить движение?**



1. Разрешено.
2. Запрещено.

18 **Как должен поступить в данной ситуации водитель самоходной машины?**

1. Проехать первым.
2. Пропустить грузовой автомобиль.

19 **Последним перекресток проедет:**



1. Легковой автомобиль.
2. Грузовой автомобиль.
3. Трактор.

20 **Что обозначает данный знак?**



1. Предварительный указатель перестроения на другую проезжую часть.
2. Указатель перестроения на другую полосу движения.
3. Предварительный указатель перестроения на другую дорогу.

БИЛЕТ 39

1 **Дневные ходовые огни предназначены для:**

1. Улучшения видимости движущегося транспортного средства в светлое время суток как спереди, так и сзади.
2. Улучшения видимости движущегося транспортного средства в светлое время суток только спереди.
3. Улучшения видимости движущегося транспортного средства в светлое время суток только сзади.

2 **Водитель какого транспортного средства не нарушает ПДД?**

1. Только автомобиля А.
2. Только мотовездехода Б.
3. Никто не нарушает.

3 **При повороте направо Вы должны уступить дорогу:**

1. Только велосипедисту.
2. Только пешеходам.
3. Пешеходам и велосипедисту.
4. Никому.

4 **На каком рисунке изображен автомобиль, водитель которого не нарушает правил перевозки грузов?**

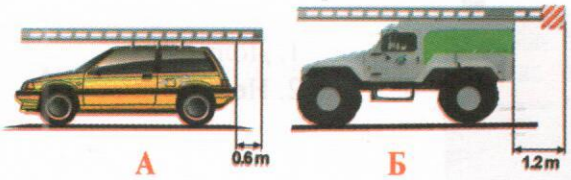

1. Только на А.
2. Только на Б.
3. На обоих.

5 **В каком случае Вам необходимо двигаться со скоростью до 40 км/ч?**

1. Во всех случаях.
2. Только в том случае, когда покрытие на дороге влажное.

БИЛЕТ 39

6 **На каком рисунке изображен регулируемый перекресток?**

A B C

1. A.
2. B.
3. C.
4. A и B.

7 **Дает ли преимущество перед другими участниками движения включенный проблесковый маячок оранжевого цвета?**

1. Дает.
2. Не дает.

8 **Вы намерены проехать перекресток в прямом направлении?**

1. Проедете перекресток первым.
2. Уступите дорогу трамваю.

9 **Должен ли водитель самоходной машины уступить дорогу пешеходам при повороте налево?**

1. Должен.
2. Не должен.

10 **Какой знак означает дорогу с односторонним движением?**

A B C D

1. A.
2. B.
3. C.
4. D.

БИЛЕТ 39

11 Разрешается ли водителю пользоваться мобильным телефоном во время движения?

1. Разрешается.
2. Разрешается только при использовании технического устройства, позволяющего вести переговоры без использования рук.
3. Разрешается только при движении со скоростью менее 40 км/ч.
4. Запрещается.

12 Разрешено ли водителю транспортного средства продолжить движение в прямом направлении?

1. Разрешено.
2. Запрещено.
3. Разрешено при обслуживания предприятий в этой зоне.

13 Разрешено ли Вам обогнать трактор?

1. Разрешено.
2. Разрешено только после проезда перекрестка.
3. Запрещено.

14 Последним перекресток проедет:



1. Грузовой автомобиль.
2. Легковой автомобиль.
3. Мотовездеход.
4. Гужевая повозка.

15 Что означает данная комбинация знаков?

1. Указывает, что в зоне железнодорожного переезда осуществляется фиксация нарушений ПДД в автоматическом режиме.
2. Указывает, что в зоне железнодорожного переезда запрещается фото- и видеосъемка.

БИЛЕТ 39

16 Разрешается ли останавливаться на полосе, обозначенной этим знаком?

1. Разрешается.
2. Запрещается.
3. Разрешается для посадки и высадки пассажиров, если это не создаст помех маршрутным транспортным средствам.

17 Разрешено ли Вам продолжить движение по второй полосе?



1. Разрешено.
2. Запрещено.
3. Разрешено при скорости движения более 40 км/ч.

18 Какие маневры запрещено выполнять в местах остановок маршрутных транспортных средств?



1. Разворот.
2. Движение задним ходом.
3. Останавливаться, если при этом будут созданы помехи маршрутным транспортным средствам.
4. Все перечисленные маневры.

19 Что обозначает данная линия разметки?



1. Стоп-линия.
2. Указывает место, где водитель должен при необходимости остановиться, уступая дорогу транспортным средствам, движущимся по пересекаемой дороге.

20 В каких направлениях разрешено продолжить движение?

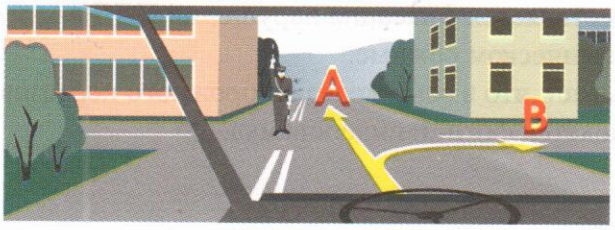

1. А и В.
2. А.
3. Запрещено во всех направлениях.

БИЛЕТ 40

1 **По какой траектории водитель имеет право продолжить движение?**

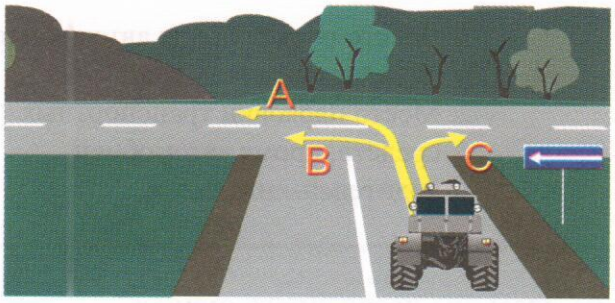

1. А.
2. А и В.
3. С.
4. По любой траектории.

2 **Сколько пересечений проезжих частей имеет этот перекресток?**

1. Одно.
2. Два.
3. Четыре.

3 **Разрешается ли перевозить людей на грузовом прицепе?**



1. Разрешается, если они сопровождают груз.
2. Разрешается только при наличии оборудованных мест для сидения.
3. Запрещается.

4 **Что обозначает на дороге эта разметка?**



1. Место, где велосипедная дорожка пересекает проезжую часть.
2. Место, где велосипедист имеет преимущество движения.
3. Место пешеходного перехода.

5 **Разрешено ли людям находиться в кабине буксируемого транспортного средства при буксировке методом частичной погрузки?**

1. Разрешено.
2. Запрещено.
3. По усмотрению водителя.

БИЛЕТ 40

6 **Что означают данные знаки?**

1. Место парковки для автомобилей водителей-инвалидов.
2. Место парковки транспортных средств, кроме автомобией водителей-инвалидов.

7 **Должны ли Вы уступить дорогу пешеходам вне населенного пункта?**

1. Должны.
2. Не должны.

8 **Разрешено ли движение по данной полосе?**

1. Разрешено.
2. Запрещено.

9 **Как должен поступить водитель самоходной машины при выезде на дорогу в данной ситуации?**



1. Выехав на дорогу, пропустить движущихся по ней животных и погонщика.
2. Выехать на дорогу, не уступая животным и погонщику.

10 **В каком направлении разрешено продолжить движение?**



1. Во всех.
2. C и D.
3. Во всех, кроме A.
4. Движение запрещено.

БИЛЕТ 40

11 **Разрешено ли водителю самоходной машины развернуться на перекрестке?**

1. Разрешено.
2. Запрещено.

12 **Какими действиями должно быть обозначено транспортное средство при дорожно-транспортном происшествии?**



1. Включить аварийную сигнализацию.
2. Выставить знак аварийной остановки.
3. Включить аварийную сигнализацию, а также выставить знак аварийной остановки.

13 **Что должен предпринять водитель, покидая свое место и оставляя транспортное средство в этой ситуации?**

1. Принять меры, исключающие самопроизвольное движение транспортного средства.
2. Принять меры, исключающие использование транспортного средства посторонними лицами в отсутствие водителя.
3. Верно п. 1, 2.

14 **На каком расстоянии от транспортного средства должен быть выставлен знак аварийной остановки в населенном пункте?**



1. Не менее 10 м.
2. Не менее 15 м.
3. Не менее 30 м.
4. Не менее 50 м.

15 **Каким должно быть расстояние между транспортными средствами при буксировке на жесткой сцепке?**



1. Не более 4 м.
2. Не менее 4 м.
3. 4-6 м.

БИЛЕТ 40

16 **Что означает данный знак?**



1. Дорогу, не имеющую сквозного проезда.
2. На перекрестке справа второстепенная дорога.
3. Направление, где движение запрещено.

17 **Разрешено ли водителю мотовездехода выехать на реверсивную полосу?**



1. Разрешено.
2. Запрещено.

18 **Как должен поступить водитель трактора в данной ситуации?**



1. Совершить обгон грузового автомобиля с правой стороны.
2. Подождать, пока грузовой автомобиль совершит маневр, затем продолжить движение.
3. Совершить обгон грузового автомобиля с левой стороны.

19 **Какой знак разрешает объезд препятствия только справа?**



A B C D

1. A.
2. A, B.
3. C.
4. D.

20 **В каких местах запрещена остановка транспортных средств?**

1. На обочине дороги вблизи подъема.
2. На обочине дороги при крутом спуске или подъеме.
3. На проезжей части вблизи выпуклых переломов дороги при видимости менее 100 м хотя бы в одном направлении.
4. Правильный пункт 2 и 3
5. Правильный пункт 1 и 3

БИЛЕТ 41

1 **Как должен поступить водитель трактора?**

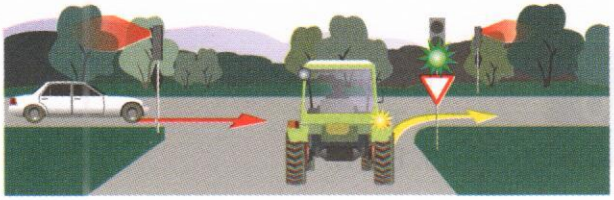

1. Уступить дорогу легковому автомобилю.
2. Первым проехать перекресток.

2 **Разрешена ли остановка транспортного средства в указанном месте?**

1. Разрешена.
2. Запрещена.

3 **Должен ли водитель мотовездехода уступить дорогу грузовому автомобилю?**

1. Должен.
2. Не должен.

4 **Что означают данные знаки?**



1. Протяженность узкого участка дороги 300 м.
2. На дороге протяженностью 300 м возможны узкие участки.
3. Расстояние 300 м до начала участка дороги с ограниченной шириной 2,7 м.

5 **В каком случае запрещается открывать двери транспортного средства?**



1. Если это создаст помехи другим участникам движения.
2. Если транспортное средство остановилось по причине вынужденной остановки.

БИЛЕТ 41

6 **Какой из знаков распространяет свое действие только на ту полосу, над которой он установлен?**

1. Только А.
2. Только Б.
3. Б и В.

7 **В каком месте Вы должны остановиться?**



1. Перед знаком «Движение без остановки запрещено (А).
2. Перед перекрестком (Б).
3. Перед краем пересекаемой проезжей части (В).

8 **На каких рисунках показана главная дорога?**

1. Только на А и В.
2. Только на В и С.
3. Только на С и D.
4. Только на А и D.
5. На всех.

9 **На каком рисунке изображено транспортное средство, водитель которого не нарушает правил перевозки грузов?**

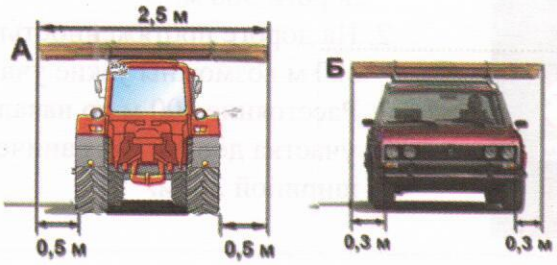

1. Только на А.
2. Только на Б.
3. На обоих.

10 **Что означает требование уступить дорогу?**

1. Вы должны остановиться , чтобы пропустить других участников движения.
2. Вы должны обеспечить тому, кто пользуется преимуществом, беспрепятственное движение.
3. Вы должны остановиться только при наличии дорожного знака «Уступите дорогу».

БИЛЕТ 41

11 **Разрешена ли водителю самоходной машины остановка в данном месте?**



1. Да.
2. Нет.

12 **По какой траектории Вы можете продолжить движение?**

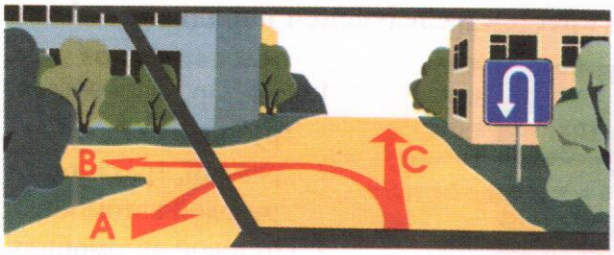

1. Только А.
2. А и С.
3. А и В.
4. По любой.

13 **Выезд со двора или с другой прилегающей территории считается:**

1. Равнозначным перекрестком.
2. Неравнозначным перекрестком.
3. Не считается перекрестком.

14 **Преимущество при движении имеет:**

1. Легковой автомобиль.
2. Мотовездеход.

15 **Что обязан контролировать водитель перед началом и во время перевозки грузов?**

1. Размещение, крепление и состояние груза во избежание его падения.
2. Что груз не создаст помехи для движения.
3. Оба перечисленных требования.

БИЛЕТ 41

16 **Должен ли водитель самоходной машины уступить дорогу трамваю?**



1. Должен.
2. Не должен.

17 **Транспортые средства проедут перекресток в следующем порядке:**



1. Трактор, трамвай, грузовой автомобиль.
2. Трамвай, трактор, грузовой автомобиль.
3. Грузовой автомобиль, трактор, трамвай.

18 **Водитель какого транспортного средства имеет преимущество при движении?**



1. Трактора.
2. Грузового автомобиля.

19 **Данная вертикальная разметка:**

1. Запрещает стоянку транспортных средств.
2. Запрещает остановку транспортных средств.
3. Обозначает бордюры на опасных участках дорог.

20 **Кто из водителей имеет преимущество в движении?**

1. Водитель трактора с включенным проблесковым оранжевым маячком.
2. Водитель легкового автомобиля с включенным проблесковым маячком синего цвета и специальным звуковым сигналом.

БИЛЕТ 42

1 **О чем предупреждает установленный знак?**

1. Что при въезде в тоннель будет затруднен разъезд со встречными транспортными средствами.
2. Отсутствует искусственное освещение.
3. Очередность движения регулируется светофором.

2 **О чем предупреждает данная линия разметки с изображением стрелки?**



1. О приближении к сужению проезжей части.
2. О возможности перестроения на другую полосу движения.
3. О приближении к перекрестку с поворотом направо.

3 **Разрешено ли водителю самоходной машины совершить обгон гужевой повозки?**



1. Разрешено.
2. Запрещено.

4 **Разрешена ли остановка транспортного средства в указанном месте?**



1. Разрешена.
2. Запрещена.

5 **При движении прямо нужно ли уступать дорогу встречному автомобилю, поворачивающему налево?**

1. Нужно.
2. Не нужно.

БИЛЕТ 42

6 **Разрешена ли Вам остановка в указанном месте?**

1. Разрешена.
2. Разрешена только с заездом на тротуар.
3. Разрешена, если не создаются помехи маршрутным транспортным средствам.
4. Не разрешена.

7 **В каких направлениях Вам разрешено продолжить движение?**



1. Только Б.
2. Только А или Б.
3. В любых.

8 **Следует ли Вам уступить дорогу грузовому автомобилю?**

1. Да.
2. Нет.

9 **В каком месте Вам разрешено обогнать тихоходное транспортное средство?**



1. Перед железнодорожным переездом.
2. На железнодорожном переезде.
3. За железнодорожным переездом.

10 **На каком расстоянии до спуска или подъема могут устанавливаться эти знаки вне населенного пункта?**

1. За 150-300 м до спуска или подъема.
2. В зависимости от знака дополнительной информации, указывающего расстояние.
3. Непосредственно перед спуском или подъемом, если они следуют друг за другом.
4. Возможен любой вариант.

БИЛЕТ 42

11 **В каких направлениях разрешено продолжить движение?**

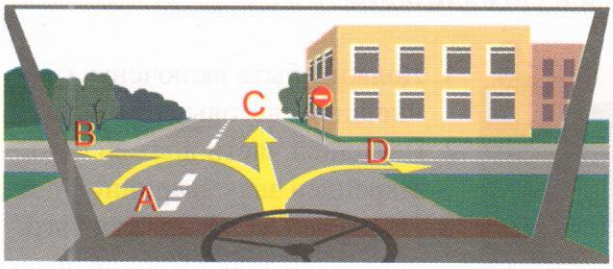

1. B и D.
2. B, C, D.
3. В любых, кроме C.

12 **Разрешено ли водителю самоходной машины продолжить движение по дороге, обозначенной данным знаком?**



1. Разрешено.
2. Запрещено.
3. Разрешено в крайнем правом ряду.

13 **Сколько проезжих частей имеет данная дорога?**

1. Одну.
2. Две.
3. Четыре.

14 **Обязаны ли Вы уступить дорогу автомобилю с включенным проблесковым маячком синего цвета и специальным звуковым сигналом?**



1. Обязаны.
2. Не обязаны.

15 **Чем должны руководствоваться водители и пешеходы, если сигналы регулировщика противоречат сигналам светофора, дорожным знакам и разметке?**

1. Сигналами регулировщика.
2. Знаками и разметкой.
3. Сигналами светофора.

БИЛЕТ 42

16 Каким способом должно быть обозначено буксируемое транспортное средство при неисправной аварийной световой сигнализации?



1. Должны быть включены внешние световые приборы.
2. На задней части должен быть закреплен знак аварийной остановки.
3. На задней части должен быть закреплен знак «Прочие опасности».

17 Разрешено ли водителю мотовездехода остановиться в данном месте в населенном пункте?



1. Разрешено.
2. Запрещено.

18 На каком расстоянии необходимо переключить дальний свет фар на ближний?



1. Не менее чем за 150 м.
2. Не менее чем за 300 м.
3. По усмотрению водителя.

19 Какое транспортное средство имеет преимущество движения?



1. Трактор.
2. Автобус, начинающий движение от обозначенной остановки.

20 Что нарушает водитель самоходного комбайна при движении по дороге?



1. Правил не нарушает.
2. Движется с малой скоростью.
3. Не занял соответствующую полосу для движения.

БИЛЕТ 43

1 **В каком из указанных мест можно пересечь сплошную линию разметки и остановиться?**



1.Только А.
2. Только Б.
3. В любом.
4. Ни в одном.

2 **Укажите очередность проезда перекрестка транспортными средствами:**

1. Легковой автомобиль одновременно с гужевой повозкой, трактор.
2. Легковой автомобиль, трактор, гужевая повозка.
3. Трактор, гужевая повозка, легковой автомобиль.

3 **Должен ли водитель мотовездехода уступить дорогу легковому автомобилю?**

1. Должен.
2. Не должен.

4 **Какой знак должен быть закреплен на задней части буксируемого механического транспортного средства при отсутствии или неисправности аварийной сигнализации?**

1. А.
2. Б.
3. В.

5 **Что означает термин «Недостаточная видимость»?**

1. Видимость дороги менее 100 м вблизи опасных поворотов и переломов продольного профиля дороги.
2. Видимость дороги менее 300 м в условиях тумана, дождя, снегопада и т. п., а также в сумерки.
3. Видимость дороги менее 150 м в ночное время суток.

БИЛЕТ 43

6 **Разрешено ли Вам на перекрестке повернуть налево?**

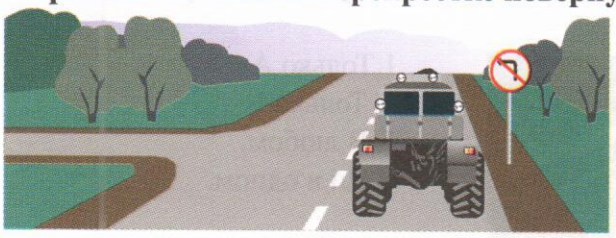

1. Разрешено.
2. Запрещено.

7 **Разрешено ли водителю поставить трактор на стоянку в этом месте указанным способом?**

1. Да.
2. Да, если разрешенная максимальная масса трактора менее 3,5 т.
3. Нет.

8 **Кому следует уступить дорогу при повороте налево?**



1. Только пешеходам.
2. Только автобусу.
3. Автобусу и пешеходам.
4. Никому.

9 **Какие знаки требуют обязательной остановки?**

А Б В Г

1. Только А и Б.
2. Только Б.
3. Только Б и В.
4. Только Г.

10 **Как вы должны поступить при приближении к стоящему у обочины автомобилю с включенным проблесковым маячком синего цвета?**



1. Продолжить движение с прежней скоростью.
2. Снизить скорость, чтобы немедленно остановиться в случае необходимости.
3. Остановиться у обочины и дождаться разрешения двигаться дальше.

БИЛЕТ 43

11 **На каких рисунках изображён перекрёсток?**

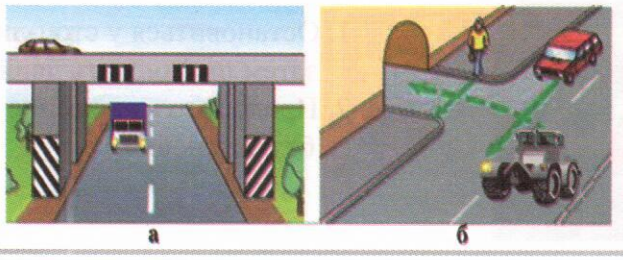

1. Только на левом (а).
2. Только на правом (б).
3. На обоих.
4. Ни на одном.

12 **Разрешено ли водителю мотовездехода остановиться в данном месте?**

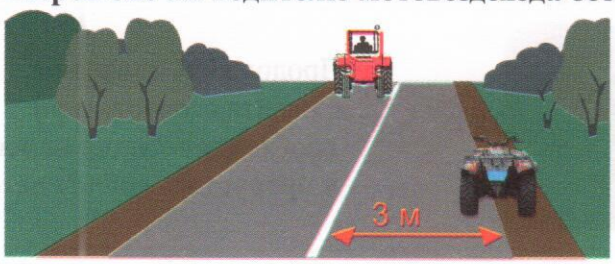

1. Разрешено.
2. Запрещено.

13 **Разрешено ли водителю самоходной машины продолжить движение прямо?**

1. Разрешено.
2. Запрещено.
3. Разрешено, если он обслуживает предприятия, находящиеся в обозначенной зоне, или граждан, проживающих в обозначенной зоне.

14 **На каком расстоянии от неисправного транспортного средства водитель должен выставить знак аварийной остановки вне населенного пункта?**



1. Не менее 15 м.
2. Не менее 30 м.
3. Не менее 40 м.

15 **Бело-лунный сигнал светофора на железнодорожном переезде:**



1. Разрешает движение.
2. Разрешает движение при отсутствии приближающегося к переезду поезда.
3. Запрещает движение.

БИЛЕТ 43

16 **Как Вы должны поступить в данной ситуации?**

1. Остановиться у стоп-линии, затем продолжить движение.
2. Продолжить движение без остановки.

17 **Как должен поступить водитель трактора в данной ситуации?**



1. Продолжить движение.
2. Снизить скорость, при необходимости остановиться и пропустить группу детей.

18 **Разрешено ли водителю мотовездехода остановиться в данном месте?**



1. Да.
2. Нет.

19 **Разрешено ли Вам сквозное движение в обозначенной знаком зоне?**



1. Разрешено.
2. Запрещено.

20 **Разрешается ли Вам продолжить движение, если регулировщик поднял руку вверх после того, как Вы въехали на перекресток?**



1. Не разрешается.
2. Разрешается, только если Вы поворачиваете направо.
3. Разрешается.

БИЛЕТ 44

1 **Разрешена ли стоянка транспортного средства в данном месте?**



1. Разрешена.
2. Запрещена.

2 **Водитель какого транспортного средства правильно въезжает на перекресток с круговым движением?**

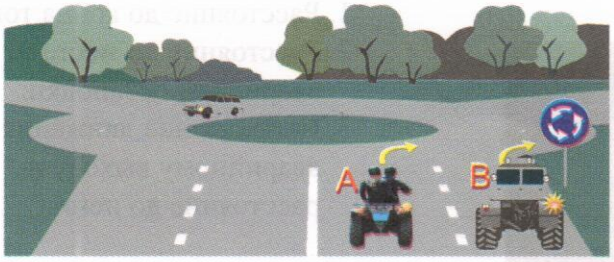

1. Мотовездехода А.
2. Трактора В.
3. Оба водителя – правильно.
4. Оба водителя – неправильно.

3 **Должны ли Вы уступить дорогу самоходной машине?**

1. Должны.
2. Не должны.

4 **В каком направлении водители транспортных средств могут продолжить движение?**

1. В любом.
2. B, C.
3. D.

5 **Какое нарушение допустил водитель комбайна при движении через мост?**



1. Соблюдение дистанции.
2. Боковой интервал.

БИЛЕТ 44

6 **Что должен знать и соблюдать участник дорожного движения?**

1. Требования Правил, относящихся к нему.
2. Значения разметки, знаков, светофора.
3. Выполнять распоряжения регулировщиков, действующих в пределах предоставленных им прав и регулирующих дорожное движение установленными сигналами.
4. Соблюдать все перечисленные требования.

7 **Этот дорожный знак указывает:**



1. Расстояние до конца тоннеля.
2. Расстояние до места аварийной остановки.
3. Направление движения к аварийному выходу и расстояние до него.

8 **В каком направлении Вам разрешено движение на перекрестке?**



1. Разрешено только направо.
2. Разрешено только налево.
3. Запрещено.

9 **Кто из водителей нарушил правила остановки?**

1. Только водитель трактора.
2. Только водитель грузового автомобиля.
3. Оба нарушили.

10 **Разрешено ли водителю транспортного средства перевозить людей в салоне буксируемого автобуса?**

1. Разрешено.
2. Запрещено.

БИЛЕТ 44

11 **Разрешено ли продолжение движения через железнодорожный переезд при открытом шлагбауме и запрещающем сигнале светофора?**

1. Разрешено, если Вы убедились в отсутствии приближающегося поезда.
2. Запрещено.

12 **Должен ли водитель трактора уступить дорогу грузовому автомобилю?**

1. Должен.
2. Не должен.

13 **Последним перекресток проедет:**



1. Гужевая повозка.
2. Комбайн.
3. Внедорожное мотосредство.

14 **По какой траектории водитель самоходной машины может объехать препятствие?**

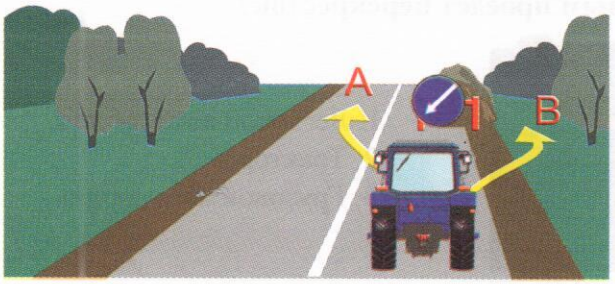

1. По траектории А.
2. По траектории В.
3. По любой.

15 **Разрешается ли превышение установленной полной массы внедорожного мототранспортного средства?**

1. Разрешается.
2. Запрещается.
3. Разрешается при движении со скоростью не более 10 км/ч.

БИЛЕТ 44

16 **Что означает данный знак, установленный вне населенного пункта?**



1. Впереди опасный поворот.
2. Через 50-100 м опасный поворот.
3. Через 150-300 м опасный поворот.

17 **Разрешено ли продолжить движение через железнодорожный переезд?**



1. Разрешено при отсутствии приближающегося поезда.
2. Запрещено.

18 **Что обозначает оранжевая линия разметки?**

1. Границы полос в пределах перекрестка.
2. Временная линия разметки, обозначающая границы полос на перекрестке.
3. Границы полос на перекрестке, где разрешено перестроение.

19 **Какое транспортное средство первым проедет перекресток?**



1. Легковой автомобиль.
2. Трактор.
3. Грузовой автомобиль.

20 **Имеет ли право водитель самоходной машины, включив указатели поворота, сразу начать движение?**



1. Имеет право, так как гужевая повозка движется медленнее трактора, а он включил указатель поворота.
2. Должен пропустить гужевую повозку, так как включение указателя поворота не дает преимущества перед другими участниками движения.

БИЛЕТ 45

1 **Разрешена ли стоянка в данном месте по нечетным числам?**

1. Разрешена.
2. Запрещена.
3. Разрешена с 19 до 21 ч.

2 **Разрешено ли водителю транспортного средства проехать через железнодорожный переезд, если навесное оборудование не фиксируется в транспортном положении?**



1. Разрешено.
2. Запрещено.
3. Разрешено, если навесное оборудование не повредит переезд.

3 **Что обозначает данная линия разметки?**



1. Искусственную неровность на проезжей части.
2. Подземный пешеходный переход.
3. Велосипедную дорожку.

4 **Какой из знаков предоставляет водителю преимущество перед встречным движением?**

1. D.
2. B и C.
3. A, C и D.
4. A.
5. Все знаки.

5 **Какое транспортное средство проедет первым?**



1. Трамвай.
2. Трактор.

БИЛЕТ 45

6 **По какой траектории водитель транспортного средства, габариты которого превышают установленные нормы, может выполнить разворот?**

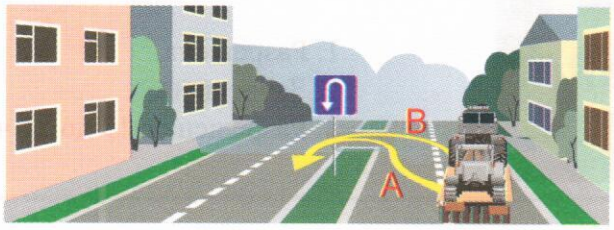

1. По траектории А.
2. По траектории В.
3. Обе траектории правильные.

7 **Что обозначает данный знак?**

1. Начало населенного пункта, где не действуют требования правил, устанавливающие порядок движения в населенных пунктах.
2. Начало населенного пункта, где действуют требования правил, устанавливающие порядок движения в населенных пунктах.

8 **Разрешено ли Вам в конце подъема перестроиться на среднюю полосу для опережения грузового автомобиля?**



1. Разрешено.
2. Запрещено.

9 **Что означает сочетание красного и желтого сигналов светофора?**

1. Неисправна светофорная сигнализация.
2. Информирует о предстоящем включении зеленого сигнала.
3. Информирует о предстоящем включении красного сигнала.

10 **На какие транспортные средства распространяются сигналы такого светофора?**



1. Только на трамваи.
2. На трамваи, а также другие маршрутные транспортные средства, движущиеся по выделенной для них полосе.
3. На все маршрутные транспортные средства.

БИЛЕТ 45

11 **Разрешена ли водителю самоходной машины остановка в данном месте?**



1. Разрешена.
2. Запрещена.

12 **Разметкой в виде буквы «А» обозначают:**

1. Специальную полосу для любых автобусов.
2. Специальную полосу для маршрутных транспортных средств.
3. Место остановки и стоянки любых автобусов.

13 **Обязан ли водитель включать указатели поворота, выезжая с бензоколонки?**



1. Обязан.
2. Не обязан.
3. По своему усмотрению.

14 **Как Вы должны поступить в данной ситуации?**

1. Снизить скорость перед пешеходным переходом.
2. Обязаны пропустить слепых пешеходов, подающих сигнал белой тростью.
3. Продолжить движение, так как горит зеленый разрешающий сигнал светофора.

15 **Чем необходимо руководствоваться, если значения временных дорожных знаков и линий разметки противоречат друг другу?**

1. Требованиями линий разметки.
2. Требованиями временных дорожных знаков.
3. Правила эту ситуацию не регламентируют.

БИЛЕТ 45

16 **Последним перекресток проедет:**



1. Грузовой автомобиль.
2. Трактор.
3. Гужевая повозка.

17 **Разрешен ли обгон в данной ситуации?**

1. Разрешен.
2. Запрещен.

18 **Что означает поднятая вверх рука водителя?**

1. Самоходная машина повернет направо.
2. Сигнал водителя о торможении.
3. Самоходная машина будет разворачиваться.

19 **Какой знак означает дорогу с полосой для маршрутных транспортных средств?**

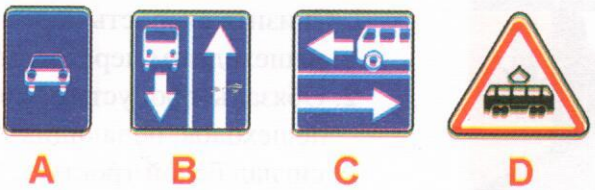

1. A.
2. B.
3. B, C.
4. A, D.

20 **В каком месте водителю транспортного средства разрешена остановка?**



1. A (за перекрестком).
2. B (напротив перекрестка).
3. C (перед перекрестком).
4. В любом.
5. A и B.

БИЛЕТ 46

1 **Как должен поступить водитель трактора, если при движении вне населенного пункта за трактором скопились транспортные средства?**



1. Продолжить движение.
2. Принять как можно правее, а при необходимости остановиться и пропустить скопившиеся транспортные средства.

2 **Разрешено ли продолжить движение?**



1. Разрешено прямо и направо.
2. Разрешено в любом направлении.
3. Запрещено.

3 **В каком направлении разрешено продолжить движение?**



1. A.
2. B.
3. C.
4. A и B.
5. В любом.

4 **Разрешено ли водителю трактора продолжить движение по данной полосе при выполнении уборочных работ?**

1. Разрешено.
2. Запрещено.

5 **Значения каких дорожных знаков отменяются сигналами светофора?**

1. Знаков приоритета.
2. Запрещающих знаков.
3. Предписывающих знаков.
4. Всех перечисленных.

БИЛЕТ 46

6 **Разрешено ли Вам проехать железнодорожный переезд?**



1. Да, так как дежурный по переезду запрещает движение только встречному автомобилю.
2. Да, если отсутствует приближающийся поезд.
3. Нет.

7 **Следует ли уступить дорогу грузовому автомобилю на перекрестке с круговым движением?**

1. Да.
2. Нет.

8 **Как Вы намерены продолжить движение прямо при желтом мигающем сигнале светофора?**

1. Проехать перекресток первым.
2. Уступить дорогу только грузовому автомобилю.
3. Уступить дорогу только трамваю.
4. Уступить дорогу обоим транспортным средствам.

9 **Какой знак запрещает дальнейшее движение всех без исключения транспортных средств?**

1. А.
2. Б.
3. В.

10 **Какую скорость должен соблюдать водитель при возникновении опасности для движения?**

1. Предельно малую.
2. Должен принять необходимые меры к снижению скорости. вплоть до остановки транспортного средства.
3. Продолжить движение, не снижая скорости,чтобы покинуть опасное место.

БИЛЕТ 46

11 **При включении зеленого сигнала светофора Вы должны:**

1. Убедиться в отсутствии пешеходов, завершающих переход проезжей части, после чего начать движение.
2. Руководствуясь сигналом светофора, сразу начать движение.

12 **Должен ли водитель при движении по данному участку дороги включить левый указатель поворота?**

1. Должен.
2. Не должен, так как сигнал введет в заблуждение других участников движения.

13 **В каком месте Вы должны остановиться в данной ситуации?**



1. У знака «Движение без остановки запрещено».
2. У знака «Однопутная железная дорога».
3. За 5 м до первого рельса.
4. В любом месте.

14 **Каким транспортным средствам разрешено движение прямо?**

1. Только мотовездеходу и грузовому автомобилю.
2. Только грузовому автомобилю.
3. Только грузовому автомобилю и автобусу.
4. Всем транспортным средствам.

15 **Нарушили ли водители грузового автомобиля и трактора правила стоянки?**

1. Нарушили.
2. Нарушили, если разрешенная максимальная масса автомобиля или трактора более 3,5 т.
3. Не нарушили.

БИЛЕТ 46

16 **Разрешено ли совершить разворот в этом месте?**

1. Разрешено.
2. Запрещено, так как пересекается сплошная линия.

17 **Разрешена ли водителю самоходной машины стоянка в данном месте?**



1. Разрешена.
2. Запрещена.

18 **Кто имеет преимущество при движении?**



1. Трамвай.
2. Трактор.

19 **Какой знак разрешает левый поворот?**

1. A.
2. A и B.
3. C.
4. D.
5. C и D.

20 **Разрешено ли движение задним ходом на перекрестке?**

1. Разрешено.
2. Разрешено лишь при отсутствии попутных и встречных транспортных средств.
3. Запрещено.

БИЛЕТ 47

1 **Каким должно быть расстояние между транспортными средствами при буксировке на гибкой сцепке?**

1. 2-4 м.
2. 4-6 м.
3. 6-8 м.
4. Не менее 6 м.

2 **Какие внешние световые приборы должны быть включены при въезде в тоннель?**

1. Габаритные огни.
2. Аварийная световая сигнализация.
3. Ближний или дальний свет фар.

3 **В каком месте должен остановиться водитель при запрещающем сигнале светофора?**



1. Перед светофором.
2. Перед пересекаемой проезжей частью.
3. Перед стоп-линией.

4 **Разрешено ли Вам в данной ситуации обогнать водителя неисправного мотоцикла на перекрестке?**

1. Разрешено.
2. Запрещено.

5 **Нарушил ли водитель правила перевозки грузов?**



1. Нарушил, так как выступающий сзади груз не обозначен знаком «Крупногабаритный груз».
2. Не нарушил.

БИЛЕТ 47

6 **Должны ли Вы уступить дорогу грузовому автомобилю?**



1. Да.
2. Нет.

7 **Разрешено ли водителю развернуться в тоннеле?**

1. Разрешено.
2. Запрещено.

8 **Какими знаками обозначают участки, на которых необходимо уступать дорогу пешеходам?**

А

Б

В

1. Только А и Б.
2. Только Б и В.
3. Всеми знаками.

9 **Разрешено ли водителю трактора обогнать гужевую повозку?**



1. Разрешено.
2. Запрещено.

10 **На каком расстоянии устанавливается последняя комбинация знаков при недостаточной обзорности переезда вне населенного пункта ?**

1. 150-300 м.
2. 100-150 м.
3. 50-100 м.

БИЛЕТ 47

11 **Разрешено ли Вам поставить мотовездеход на стоянку за путепроводом?**

1. Разрешено.
2. Запрещено.

12 **Этот знак указывает:**

1. Вы должны повернуть только направо или налево.
2. На пересекаемой дороге реверсивное движение.
3. На пересекаемой дороге одностороннее движение.

13 **Эта разметка, нанесенная на полосе движения:**

1. Разрешает только поворот налево.
2. Разрешает только разворот.
3. Разрешает поворот налево и разворот.

14 **Следует ли Вам уступить дорогу автомобилю, выполняющему разворот?**

1. Да.
2. Нет.

15 **О чем информируют Вас эти дорожные знаки?**



1. О приближении к перекрестку, где установлен знак «Уступите дорогу».
2. О приближении к перекрестку, где установлен знак «Движение без остановки запрещено».
3. О приближении к таможне.

БИЛЕТ 47

16 **Что означает этот знак?**



1. Место для разворота.
2. Зона для разворота – 15 м.
3. Зона, в которой разворот запрещен.

17 **В каком месте Вы должны остановиться?**



1. У знака «Движение без остановки запрещено».
2. За 5 м до ближайшего рельса.
3. За 10 м до ближайшего рельса.

18 **Что обозначает данная вертикальная разметка?**



1. Ограничение габаритной высоты транспортных средств.
2. Нижний край моста.

19 **Должен ли водитель самоходной машины уступить дорогу мотоциклу?**

1. Должен.
2. Не должен.

20 **Разрешено ли водителю трактора с включенным маячком оранжевого цвета совершить маневр в техническом разрыве разделительной полосы?**



1. Разрешено.
2. Запрещено, так как любое движение по автомагистрали тракторам запрещено.
3. Разрешено при условии обеспечения безопасности дорожного движения.

БИЛЕТ 48

1 **Какой из знаков предоставляет водителю преимущество по отношению к водителям, движущимся по пересекаемой дороге?**

1. A.
2. B.
3. C.
4. D.
5. A и B.

2 **Разрешено ли совершить обгон в данной ситуации?**



1. Разрешено.
2. Запрещено.

3 **Разрешено ли водителю трактора объехать стоящий перед железнодорожным переездом легковой автомобиль?**



1. Разрешено.
2. Запрещено.

4 **С какой полосы Вы должны совершить поворот налево?**

1. С крайней правой.
2. Со средней.
3. С любой.

5 **В каких направлениях разрешено продолжить движение?**



1. Только А .
2. Только Б.
3. Только В.
4. Во всех.

БИЛЕТ 48

6 **Где Вы должны остановиться в данной ситуации при отсутствии других транспортных средств?**

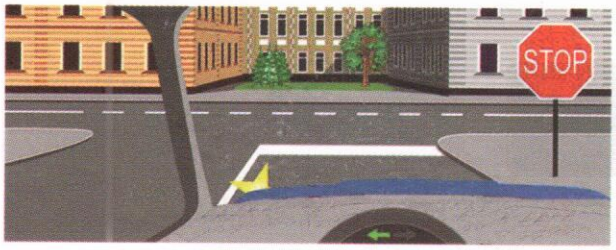

1. Остановиться у знака.
2. Остановиться у стоп-линии.
3. Проехать перекресток без остановки.

7 **По какой траектории водителю трактора следует повернуть направо в данной ситуации?**



1. А.
2. В.
3. По любой.

8 **Что обозначают прерывистые линии на перекрестке?**

1. Обязательное направление движения на перекрестке.
2. Границы полос движения в пределах перекрестка.

9 **Два попеременно мигающих красных сигнала светофора:**

1. Разрешают движение.
2. Запрещают движение.
3. Разрешают движение с особой осторожностью.

10 **Что означает термин «Ограниченная видимость»?**

1. Видимость дороги, ограниченная рельефом местности, геометрическими параметрами дороги или другими объектами.
2. Видимость дороги менее 300 м в условиях тумана, дождя, снегопада, а также в сумерки.
3. Видимость дороги менее 150 м в ночное время.

БИЛЕТ 48

11 **Вы намерены проехать перекресток в прямом направлении. Ваши действия?**

1. Уступите дорогу легковому автомобилю.
2. Проедете перекресток первым.

12 **В каких направлениях разрешено продолжить движение на перекрестке?**



1. В любых.
2. А и В.
3. С.
4. В и С.

13 **Что запрещено в зоне действия этого знака?**

1. Движение со скоростью более 20 км/ч.
2. Движение только механических транспортных средств.
3. Движение любых транспортных средств.

14 **Разрешена ли остановка в указанном месте?**



1. Разрешена.
2. Запрещена.

15 **Разрешено ли водителю самоходного шасси обогнать гужевую повозку на перекрестке?**

1. Разрешено.
2. Запрещено.

БИЛЕТ 48

16 **Разрешено ли поставить на стоянку самоходную машину в данном месте?**



1. Разрешено.
2. Запрещено.
3. Разрешено для проведения ремонтных работ.

17 **Кто проедет перекресток первым?**

1. Трактор.
2. Легковой автомобиль.

18 **Что означает данный знак?**



1. Остановка запрещена.
2. Стоянка запрещена.
3. Стоянка запрещена по четным числам месяца.
4. Стоянка запрещена по нечетным числам месяца.

19 **Разрешено ли водителю самовольно открывать шлагбаум?**

1. Разрешено.
2. Запрещено.
3. По усмотрению водителя, убедившись в отсутствии приближающего поезда.

20 **Разрешено ли водителю самоходной машины остановиться в данном месте?**



1. Разрешено.
2. Запрещено.

БИЛЕТ 49

1 **Требования каких знаков вступают в силу с места, где они установлены?**



1. Только А.
2. Только Б.
3. Только В.
4. А и Б.

2 **Что должен соблюдать водитель состава транспортных средств длиной более 7 м?**

1. Ограничение скоростного режима.
2. Дистанцию до движущегося впереди транспортного средства, достаточную для обгона другими транспортными средствами.
3. Расположение транспортного средства на проезжей части.

3 **Что обозначает разметка «А-100», нанесенная на проезжую часть дороги?**



1. Расстояние до ближайшего перекрестка.
2. Расстояние до ближайшего населенного пункта.
3. Номер дороги или маршрута.

4 **При остановке на неосвещенных участках дорог в темное время суток необходимо:**

1. Включить габаритные огни.
2. Включить фары ближнего света.
3. Выставить знак аварийной остановки.

5 **Кто из водителей нарушил правила стоянки?**

1. Водитель автомобиля.
2. Водитель трактора.
3. Никто не нарушил.

БИЛЕТ 49

6 **Что обозначает данная вертикальная разметка?**



1. Элементы дорожных сооружений, когда эти элементы представляют опасность для движущихся транспортных средств.
2. Габаритные размеры элементов дорожных сооружений.

7 **Обязан ли водитель трактора уступить дорогу грузовому автомобилю при его перестроении?**



1. Обязан.
2. Не обязан.

8 **При затрудненном движении разрешено ли водителю трактора выехать на полосу встречного движения?**



1. Разрешено.
2. Запрещено.

9 **Разрешено ли водителю трактора остановиться в данном месте?**

1. Разрешено.
2. Запрещено.

10 **Разрешено ли водителю самоходной машины продолжить движение, если в пределах видимости приближается поезд?**

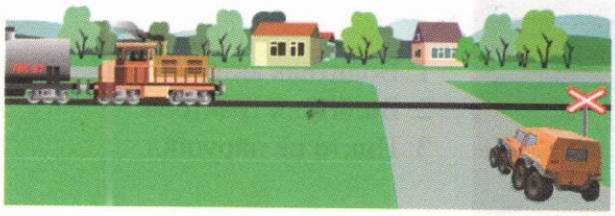

1. Разрешено.
2. Запрещено.

БИЛЕТ 49

11 **Должны ли Вы остановиться по требованию регулировщика в указанном им месте?**

1. Да.
2. Да, но только с заездом на тротуар.
3. Нет.

12 **Должен ли водитель мотовездехода уступить дорогу автобусу, начинающему движение от остановки вне населенного пункта?**



1. Должен.
2. Не должен.

13 **Как Вы должны действовать в данной ситуации?**



1. Проехать железнодорожный переезд без остановки перед знаком.
2. Продолжить движение сразу же после проезда поезда.
3. Продолжить движение, только убедившись в отсутствии приближающегося поезда.

14 **Позволяет ли Вам данная разметка выполнить обгон трактора?**

1. Да.
2. Да, но только, если скорость трактора менее 30 км/ч.
3. Нет.

15 **О чем информирует Вас сигнал светофора в виде стрелки красного цвета?**

1. На этом перекрестке всегда запрещен поворот направо.
2. Поворот направо разрешен, но необходимо уступить дорогу пешеходам.
3. При включении зеленого сигнала светофора движение будет разрешено только направо.

БИЛЕТ 49

16 **Какие знаки запрещают движение тракторов и самоходных машин?**



1. A и B.
2. B и C.
3. C и D.
4. Все, кроме D.
5. Только C.

17 **Разрешен ли разворот на участках дорог, обозначенных этим знаком?**



1. Разрешен только в населенных пунктах.
2. Разрешен только при видимости дороги более 100 м.
3. Не разрешен.

18 **Разрешено ли движение задним ходом на мосту?**

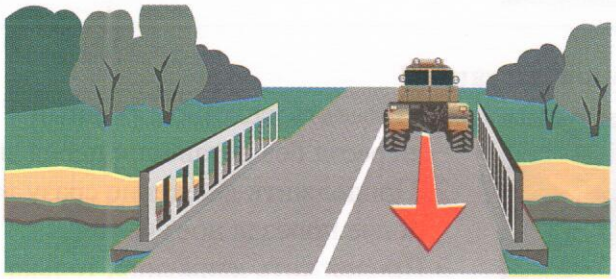

1. Разрешено.
2. Запрещено.
3. По усмотрению водителя.

19 **Разрешен ли Вам обгон в данной ситуации?**

1. Да.
2. Да, если обгон будет завершен до перекрестка.
3. Нет.

20 **Должны ли Вы уступить дорогу пешеходам, идущим к остановившемуся на остановке трамваю?**



1. Должны.
2. Не должны.

БИЛЕТ 50

1 **В каком месте Вы должны остановиться перед перекрестком?**



1. Перед знаком.
2. Перед краем пересекаемой проезжей части.

2 **В каких случаях водителю разрешено выезжать на среднюю полосу движения?**



1. При обгоне.
2. При объезде.
3. Для поворота налево или разворота.
4. Во всех перечисленных случаях.

3 **Разрешено ли транспортному средству в данном месте выехать на поле?**



1. Разрешено при отсутствии приближающего поезда.
2. Запрещено.

4 **Разрешено ли водителю самоходной машины остановиться на краю тротуара, граничащего с проезжей частью?**

1. Разрешено.
2. Запрещено.
3. Разрешено, если не будет создано помех движению пешеходов.

5 **Разрешено ли буксировать трактор с недействующей тормозной системой, если его масса превышает половину массы Вашего транспортного средства?**

1. Разрешено.
2. Разрешено на жесткой сцепке при скорости не более 30 км/ч.
3. Запрещено.

БИЛЕТ 50

6 **При движении прямо Вы обязаны уступить дорогу:**



1. Легковому автомобию.
2. Гужевой повозке.
3. Всем транспортным средствам.

7 **По какой траектории водитель может совершить поворот направо?**



1. А.
2. В.
3. По любой.

8 **Как Вы должны поступить в данном случае?**



1. Продолжить движение, посигналив пешеходам.
2. Уступить дорогу пешеходам.

9 **Разрешено ли Вам обогнать трактор?**

1. Разрешено.
2. Запрещено.

10 **Разрешено ли водителю транспортного средства остановиться перед знаком?**

1. Разрешено.
2. Запрещено.
3. Разрешено при условии, что он не закроет знак от других водителей.

БИЛЕТ 50

11 **Какими знаками Вы должны руководствоваться, если значения временных дорожных знаков (на переносной стойке) и стационарных дорожных знаков противоречат друг другу?**

1. Значениями временных знаков.
2. Значениями стационарных знаков.

12 **Кто из водителей должен уступить дорогу пешеходам?**

1. Только водитель мотовездехода.
2. Только водитель грузового автомобиля.
3. Оба водителя.

13 **По какой полосе разрешено продолжить движение водителю самоходной машины вне населенного пункта?**

1. По любой.
2. По крайней правой.

14 **Что обозначает широкая прерывистая линия разметки?**



1. Границу между полосой торможения и основной полосой проезжей части.
2. Разделяет полосы на проезжей части.
3. Обозначает полосы движения в пределах перекрестка.

15 **Разрешен ли в данной ситуации обгон?**



1. Запрещен.
2. Разрешен, если скорость грузового автомобиля менее 30 км/ч.
3. Разрешен.

БИЛЕТ 50

16 **Должен ли водитель трактора уступить дорогу трамваю, приближающемуся слева?**



1. Должен.
2. Не должен.

17 **Что означает желтый мигающий сигнал светофора?**

1. Перекресток считается нерегулируемым.
2. Скоро включится красный сигнал светофора.
3. Скоро включится зеленый сигнал светофора.

18 **Водитель какого транспортного средства должен проехать первым?**

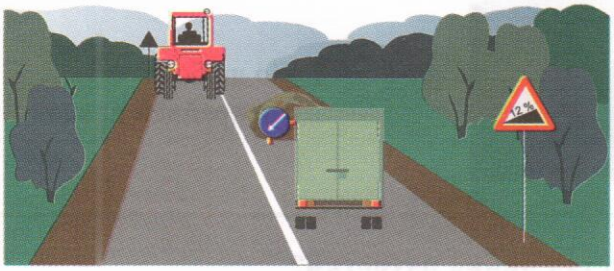

1. Водитель трактора.
2. Водитель грузового автомобиля.

19 **Какое транспортное средство первым проедет перекресток?**



1. Автомобиль.
2. Самоходная машина.

20 **Сигналом остановки для машиниста поезда служат:**

1. Вытянутые в стороны руки.
2. Круговое движение рукой.
3. Поднятая вверх правая рука.
4. Поднятые вверх обе руки.

ТАБЛИЦА ПРАВИЛЬНЫХ ОТВЕТОВ

Билет 1	Билет 4	Билет 7
1. ответ 1 (ПДД п.1.2)	1. ответ 2 (ПДД знак 6.3.2)	1. ответ 2 (ПДД п.6.15)
2. ответ 2 (ПДД п.13.11)	2. ответ 1 (ПДД п.15.4)	2. ответ 2 (ПДД п.14.7)
3. ответ 2 (ПДД п.15.4)	3. ответ 2 (верт. разметка п.2.2)	3. ответ 2 (ПДД п.12.4)
4. ответ 3 (ПДД прил.2 р.2 п.2.5)	4. ответ 1 (ПДД п.13.11)	4. ответ 2 (ПДД п.17.2)
5. ответ 2 (ПДД п.8.5)	5. ответ 3 (ПДД п.3.5)	5. ответ 3 (ПДД п. 6.14)
6. ответ 1 (ПДД знаки 6.4, 8.17)	6. ответ 2 (ПДД п.12.4)	6. ответ 4 (ПДД знаки 3.24, 8.1.1)
7. ответ 1 (ПДД п.14.1)	7. ответ 2 (ПДД знаки 1.5 - 1.33)	7. ответ 2 (ПДД п.9.11)
8. ответ 2 (ПДД п.18.2)	8. ответ 2 (ПДД знаки 2.1, 8.13)	8. ответ 3 (ПДД гор. разм. п.1.22)
9. ответ 1 (ПДД п.8.3; знак 1.26)	9. ответ 2 (ПДД п.11.2)	9. ответ 3 (ПДД п.19.3)
10. ответ 1 (ПДД п.6.10)	10.ответ 1 (ПДД п.13.7)	10.ответ 3 (ПДД п. 12.2)
11. ответ 2 (ПДД п.12.4)	11.ответ 1 (ПДД п.12.1)	11.ответ 1 (ПДД п.8.1)
12. ответ 4 (ПДД знак 1.6)	12.ответ 2 (ПДД знак 6.3.1)	12.ответ 2 (ПДД п.1.2)
13. ответ 1 (ПДД п.8.1)	13.ответ 3 (ПДД п.1.2)	13.ответ 2 (ПДД п.8.12)
14. ответ 2 (ПДД п.14.5)	14.ответ 1 (ПДД знаки 4.3, 2.4)	14.ответ 2 (ПДД п.13.11)
15. ответ 2 (гор. разм., прил.2)	15.ответ 3 (ПДД п.23.2)	15.ответ 1 (ПДД знак 1.1)
16. ответ 1 (ПДД п.13.11)	16.ответ 1 (гор. разм. п.1.11)	16.ответ 2 (ПДД п.7.3)
17. ответ 1 (ПДД п.6.2)	17.ответ 2 (ПДД п.12.4)	17.ответ 1 (ПДД п.12.1)
18. ответ 2 (ПДД п.11.7)	18.ответ 1 (ПДД п.13.6)	18.ответ 1 (ПДД п.19.2)
19. ответ 2 (ПДД п.6.15)	19.ответ 2 (ПДД п.8.2)	19.ответ 2 (ПДД п.18.3)
20. ответ 2 (ПДД п.9.10)	20.ответ 3 (ПДД п.8.12)	20.ответ 3 (ПДД п.9.5)
Билет 2	**Билет 5**	**Билет 8**
1. ответ 4 (ПДД п.13.3)	1. ответ 3 (ПДД п.9.1)	1. ответ 2 (ПДД п.8.4)
2. ответ 2 (ПДД п.3.4)	2. ответ 2 (ПДД п.8.4)	2. ответ 2 (ПДД п.11.4)
3. ответ 1 (ПДДп. 6.10)	3. ответ 3 (ПДД знак 1.3.2)	3. ответ 2 (ПДД п.15.3)
4. ответ 1 (ПДД п.13.1)	4. ответ 2 (ПДД п.8.8)	4. ответ 2 (ПДД п.п.8.5, 9.3)
5. ответ 3 (ПДД знак 5.5)	5. ответ 3 (ПДД гор. разм. п.1.24.2)	5. ответ 2 (ПДД знаки 4.3, 3.18.1)
6. ответ 2 (ПДД п.15.3)	6. ответ 1 (ПДД знак 3.18.2)	6. ответ 1 (ПДД п.1.2)
7. ответ 1 (ПДД п.13.13)	7. ответ 3 (ПДД п.п.2.5, 7.2)	7. ответ 2 (ПДД знаки 3.24, 3.28)
8. ответ 2 (ПДД п.13.11)	8. ответ 3 (ПДД п.12.8)	8. ответ 3 (ПДД п.1.2, гор.разм.1.2.1)
9. ответ 1 (ПДД знак 4.2.2)	9. ответ 2 (ПДД п.7.2)	9. ответ 2 (ПДД п.15.3)
10. ответ 2 (ПДД п.п.1.2, 23.1)	10.ответ 1 (ПДД п.20.3)	10.ответ 3 (ПДД п.8.11)
11. ответ 4 (ПДД знаки 3.3,3.4,3.6)	11.ответ 2 (ПДД знак 2.4)	11.ответ 2 (ПДД п.6.2)
12. ответ 3 (ПДД знак 5.5)	12.ответ 1 (ПДД п.11.4)	12.ответ 1 (ПДД знаки 2.1, 8.13)
13. ответ 2 (ПДД п.8.12)	13.ответ 2 (ПДД п.8.1)	13.ответ 2 (ПДД п.11.7)
14. ответ 2 (п.11.4, знак 1.6)	14.ответ 2 (ПДД знак 5.11)	14.ответ 3 (ПДД верт.разм. п.2.7)
15. ответ 1 (ПДД п.14.6)	15.ответ 1 (ПДД п.12.4, знак 3.27)	15.ответ 2 (ПДД п.п. 3.2, 3.4)
16. ответ 2 (ПДД п.12.2)	16.ответ 2 (ПДД п.13.11)	16.ответ 2 (ПДД п.20.3)
17. ответ 3 (ПДД п.19.10)	17.ответ 4 (ПДД п.8.11)	17.ответ 3 (ПДД п.19.1)
18. ответ 1 (ПДД п.12.4)	18.ответ 3 (ПДД п.6.10)	18.ответ 3 (ПДД п.6.13)
19. ответ 2 (ПДД п.13.9)	19.ответ 1 (ПДД п.8.1)	19.ответ 2 (ПДД п.11.4)
20. ответ 1 (ПДД знак 4.1.1)	20.ответ 3 (ПДД п.6.3)	20.ответ 2 (ПДД п. 23.4)
Билет 3	**Билет 6**	**Билет 9**
1. ответ 4 (ПДД п.1.2)	1. ответ 2 (ПДД п.2.7)	1. ответ 2 (ПДД п.13.5)
2. ответ 2 (ПДД п.12.4)	2. ответ 3 (ПДД знак 3.7)	2. ответ 2 (ПДД п.12.4)
3. ответ 3 (знак 3.6)	3. ответ 2 (ПДД п.6.10)	3. ответ 3 (ПДД п.15.3)
4. ответ 2 (ПДД п.7.2)	4. ответ 4 (ПДД п.п.13.9, 13.11)	4. ответ 2 (ПДД п.14.2)
5. ответ 1 (ПДД п.6.9)	5. ответ 1 (ПДД знаки 1.2, 8.23)	5. ответ 2 (ПДД п.11.4)
6. ответ 2 (ПДД знак 5.27)	6. ответ 3 (ПДД знак 1.11.1)	6. ответ 1 (ПДД знак 6.8.2)
7. ответ 1 (ПДД знак 2.4)	7. ответ 2 (ПДД п.15.3)	7. ответ 2 (ПДД п.6.7, гор.разм.1.9)
8. ответ 4 (ПДД знак 3.29)	8. ответ 2 (ПДД гор.разм. п.1.7)	8. ответ 2 (ПДД п.9.9, гор.разм.1.1)
9. ответ 2 (ПДД п.15.3)	9. ответ 2 (ПДД знаки 2.1, 8.13)	9. ответ 1 (ПДД знак 4.2.1)
10.ответ 1 (ПДД п. 12.4)	10.ответ 2 (ПДД п.8.2)	10.ответ 4 (ПДД п.12.4)
11.ответ 2 (гор.разм. п.1.9)	11.ответ 2 (ПДД знак 2.5)	11.ответ 2 (ПДД п.11.6)
12.ответ 3 (ПДД знак 1.1)	12.ответ 4 (ПДД п.9.3)	12.ответ 3 (ПДД п.6.10)
13.ответ 3 (ПДД знаки 5.7.1, 5.7.2)	13.ответ 2 (ПДД п.15.1)	13.ответ 5 (ПДД знак 1.34.3)
14.ответ 2 (ПДД п.п.6.2, 13.3)	14.ответ 2 (ПДД п.12.2)	14.ответ 1 (ПДД п.3.5)
15.ответ 3 (ПДД п.7.1)	15.ответ 3 (ПДД п.20.4)	15.ответ 1 (ПДД п.6.15)
16.ответ 3 (ПДД знак 3.1)	16.ответ 2 (ПДД п.13.11)	16.ответ 3 (ПДД знаки 3.2, 8.5.2)
17.ответ 2 (ПДД п.1.2, 16.1; знак 5.1)	17.ответ 2 (ПДД п.14.4)	17.ответ 2 (ПДД п.3.1)
18.ответ 1 (гор. разм. п.1.3)	18.ответ 3 (ПДД п.15.3)	18.ответ 2 (ПДД знаки 1.12.2, 8.2.1)
19.ответ 1 (ПДД п.3.2)	19.ответ 2 (ПДД п.20.4)	19.ответ 3 (ПДД п.19.10)
20.ответ 1 (ПДД п.6.15)	20.ответ 2 (ПДД п.17.1)	20.ответ 2 (ПДД п.19.5)

Билет 10	Билет 13	Билет 16
1. ответ 3 (ПДД п.18.2, знак 5.14)	1. ответ 2 (ПДД п.1.2)	1. ответ 2 (ПДД п.13.11, 13.12)
2. ответ 2 (ПДД п.п.9.4, 9.5)	2. ответ 2 (ПДД знаки 2.1, 2.3.5)	2. ответ 3 (ПДД п.6.3)
3. ответ 4 (ПДД п.п.8.11, 8.12,	3. ответ 2 (ПДД п.1.2)	3. ответ 1 (ПДД п.6.11)
4. ответ 2 (гориз. разм. п.1.13)	4. ответ 2 (ПДД п.8.4)	4. ответ 1 (ПДД п.12.1)
5. ответ 3 (ПДД п.6.10)	5. ответ 2 (ПДД п.6.3)	5. ответ 1 (ПДД п.11.4)
6. ответ 3 (ПДД знаки 3.29, 3.30)	6. ответ 2 (ПДД п.6.15)	6. ответ 1 (ПДД п.13.6)
7. ответ 2 (ПДД п.15.3)	7. ответ 2 (ПДД гор. разм.п.1.17)	7. ответ 3 (ПДД п.3.4)
8. ответ 1 (ПДД гор. разм. п.1.25)	8. ответ 2 (ПДД знаки 2.1, 8.13)	8. ответ 2 (ПДД п.10.2)
9. ответ 4 (ПДД знак 2.7)	9. ответ 3 (ПДД знаки 3.14, 8.1.1)	9. ответ 2 (ПДД п.8.5)
10.ответ 2 (ПДД п.18.1)	10.ответ 1 (ПДД п.12.7)	10.ответ 2 (ЛДД знаки 3.1, 8.4.11)
11.ответ 2 (ПДД п.13.11)	11.ответ 3 (ПДД п. 15.3)	11.ответ 1 (ПДД гор. разм.п.1.10)
12.ответ 3 (ПДД п.8.6)	12.ответ 1 (ПДД п. 8.4)	12.ответ 2 (ПДД знак 4.1.4)
13.ответ 2 (ПДД п.14.1)	13.ответ 1 (ПДД знак 2.1)	13.ответ 1 (ПДД п.13.11)
14.ответ 2 (ПДД п.11.4, 13.11)	14.ответ 2 (ПДД знак 3.17.2)	14.ответ 3 (ПДД п.11.4)
15.ответ 3 (ПДД п.12.4)	15.ответ 2 (ПДД п.10.1)	15.ответ 2 (ПДД п.6.8)
16.ответ 2 (ПДД п.8.4, 18.3)	16.ответ 1 (ПДД знаки 3.28, 5.24.2)	16.ответ 2 (ПДД знак 3.28)
17.ответ 2 (ПДД п.15.3)	17.ответ 2 (ПДД п. 6.7)	17.ответ 2 (ПДД знак 5.10)
18.ответ 2 (ПДД знак 2.6)	18.ответ 1 (ПДД п.13.2)	18.ответ 3 (ПДД гор. разм.п.1.18)
19.ответ 1 (ПДД знаки 2.1, 8.13)	19.ответ 1 (ПДД п.1.4)	19.ответ 1 (ПДД п.13.5)
20.ответ 1 (ПДД знак 6.19.1)	20.ответ 3 (ПДД п.1.2)	20.ответ 2 (ПДД знак 8.1.2)
Билет 11	**Билет 14**	**Билет 17**
1. ответ 1 (ПДД п.12.5,знаки 1.2, 1.4.1)	1. ответ 2 (ПДД п.8.6, знак 5.7.2)	1. ответ 1 (ПДД п.10.4)
2. ответ 3 (ПДД п.8.5)	2. ответ 2 (ПДД п.1.2)	2. ответ 2 (ПДД п.10.5)
3. ответ 1 (ПДД знаки 2.1, 8.13)	3. ответ 3 (ПДД п.22.8)	3. ответ 1 (ПДД знак 5.20)
4. ответ 3 (ПДД временный знак 4.1.2)	4. ответ 1 (ПДД гор.разм. п.1.15)	4. ответ 1 (ПДД п.13.9, 13.12)
5. ответ 1 (ПДД знак 3.16)	5. ответ 2 (ПДД п.20.2)	5. ответ 5 (ПДД п.16.1)
6. ответ 1 (ПДД верт.разм.п.2.1.1-2.1.3)	6. ответ 3 (ПДД п.п.8.5, 8.7)	6. ответ 4 (п.8.11)
7. ответ 5 (ПДД знаки 2.1, 2.3.1)	7. ответ 1 (ПДД знак 5.25)	7. ответ 3 (ПДД знак 2.5)
8. ответ 2 (ПДД гор.разм. п.1.3)	8. ответ 1 (ПДД гор.разм. п.1.1. 1.5)	8. ответ 2 (ПДД п.1.2, знаки 2.3,3, 2.1)
9. ответ 1 (ПДД знаки 3.27, 8.2.3)	9. ответ 2 (ПДД п.6.2)	9. ответ 2 (ПДД п.23.4)
10.ответ 2 (ПДД п.15.3)	10.ответ 4 (ПДД знаки 1.13, 1.14)	10.ответ 2 (ПДД п.1.2)
11.ответ 1 (ПДД п.3.4)	11.ответ 1 (ПДД прил. 1)	11.ответ 1 (ПДД п. 13.8)
12.ответ 2 (ПДД п.11.4, знак 1.13)	12.ответ 3 (ПДД п.14.1)	12.ответ 5 (ПДД знаки 3.18.1, 3.19)
13.ответ 3 (ПДД п.10.3, знак 5.25)	13.ответ 2 (ПДД п.9.5)	13.ответ 1 (ПДД п. 15.4)
14.ответ 3 (ПДД п.3.4, 13.11)	14.ответ 1 (ПДД гор. разм. п.1.8)	14.ответ 2 (ПДД п. 6.2)
15.ответ 2 (ПДД п.3.1)	15.ответ 1 (ПДД знак 3.20)	15.ответ 1 (ПДД знаки 6.4, 8.6.4)
16.ответ 2 (ПДД гор. разм. п.1.2.1)	16.ответ 2 (ПДД п.1.2)	16.ответ 3 (ПДД п.13.3. 13.10)
17.ответ 1 (ПДД знак 2.5)	17.ответ 2 (ПДД гор.разм. п.1.11)	17.ответ 3 (ПДД п.15.5)
18.ответ 1 (ПДД п.8.4)	18.ответ 3 (ПДД п.13.1)	18.ответ 3 (ПДД п.1.2. знак 5.33)
19.ответ 1 (ПДД п.7.3)	19.ответ 3 (ПДД п.23.4)	19.ответ 2 (ПДД п.16.2, 7.1, 7.2)
20.ответ 2 (ПДД п.1.2)	20.ответ 2 (ПДД знак 8.16)	20.ответ 1 (ПДД п.11.7. знак 1.14)
Билет 12	**Билет 15**	**Билет 18**
1. ответ 2 (ПДД гор.разм. 1.12)	1. ответ 4 (ПДД п.1.3)	1. ответ 1 (ПДД п.1.2)
2. ответ 2 (ПДД п.18.2)	2. ответ 3 (ПДД знак 6.21.1)	2. ответ 2 (ПДД п.13.11)
3. ответ 2 (ПДД гор.разм.1.7)	3. ответ 3 (ПДД п.6.10)	3. ответ 2 (ПДД п.15.4)
4. ответ 2 (ПДД п.6.2, 15.3)	4. ответ 3 (ПДД п.п.12.1, 16.1)	4. ответ 3 (ПДД прил.2 р.2 п.2.5)
5. ответ 1 (ПДД п.1.2)	5. ответ 2 (ПДД п.20.2)	5. ответ 2 (ПДД п.8.5)
6. ответ 2 (гор. разм. 1.20)	6. ответ 1 (ПДД п.7.2)	6. ответ 4 (ПДД п.13.3)
7. ответ 2 (гор. разм. 1.4)	7. ответ 2 (ПДД п.п.8.2, 18.3)	7. ответ 2 (ПДД п.3.4)
8. ответ 4 (гор. разм.1.5)	8. ответ 3 (ПДД п.15.2, знак 1.3.2, 2.5)	8. ответ 1 (ПДДп. 6.10)
9. ответ 2 (ПДД знаки 5.23.1, 5.23.2)	9. ответ 1 (ПДД гор.разм. п.1.11)	9. ответ 1 (ПДД п.13.1)
10.ответ 2 (ПДД знак 4.3)	10.ответ 3 (ПДД п.6.3)	10. ответ 3 (ПДД знак 5.5)
11.ответ 2(ПДД знак 1.31)	11.ответ 4 (ПДД знаки 3.27 - 3.30)	11. ответ 4 (ПДД п.1.2)
12.ответ 1 (ПДД гор.разм.1.19)	12.ответ 3 (ПДД знак 4.1.1)	12. ответ 2 (ПДД п.12.4)
13.ответ 1 (ПДД знак 3.22)	13.ответ 2 (ПДД п.13.3, 13.11)	13. ответ 3 (знак 3.6)
14.ответ 2 (ПДД гор.разм. 1.17)	14.ответ 3 (гор. разм. п.1.17)	14. ответ 2 (ПДД п.7.2)
15.ответ 2 (ПДД п.13.4)	15.ответ 4 (ПДД п.2.5)	15. ответ 1 (ПДД п.6.9)
16.ответ 1 (ПДД знак 5.22)	16.ответ 2 (ПДД знак 3.18.2)	16. ответ 2 (ПДД знак 6.3.2)
17.ответ 2 (ПДД п. 8.11)	17.ответ 3 (ПДД п.12.2)	17. ответ 1 (ПДД п.15.4)
18.ответ 2 (ПДД знаки 5.19.2, 5.21)	18.ответ 3 (ПДД п.13.1, 13.3, 13.4)	18. ответ 2 (верт. разм. п.2.2)
19.ответ 2 (ПДД п.11.4 гор.разм.1.1,)	19.ответ 2 (ПДД знак 2.5)	19. ответ 1 (ПДД п.13.11)
20.ответ 3 (ПДД знак 1.2)	20.ответ 2 (ПДД п.3.3)	20. ответ 3 (ПДД п.3.5)

Билет 19	Билет 22	Билет 25
1. ответ 3 (ПДД п.9.1)	1. ответ 1 (ПДД ПДД п.10.4)	1. ответ 2 (ПДД гор. разм. 1.20)
2. ответ 2 (ПДД п.8.4)	2. ответ 2 (ПДД п.10.5)	2. ответ 2 (гор. разм. 1.4)
3. ответ 3 (ПДД знак 1.3.2)	3. ответ 1 (ПДД знак 5.20)	3. ответ 4 (гор. разм.1.5)
4. ответ 2 (ПДД п.8.8)	4. ответ 1 (ПДД п.13.9, 13.12)	4. ответ 2 (ПДД знаки 5.23.1, 5.23.2)
5. ответ 3 (ПДД гор. разм. п.1.24.2))	5. ответ 5 (ПДД п.16.1)	5.ответ 2 (ПДД знак 4.3)
6. ответ 2 (ПДД п.2.7)	6. ответ 2 (ПДД п. 13.11)	6. ответ 2 (ПДД п.6.15)
7. ответ 3 (ПДД знак 3.7)	7. ответ 1 (ПДД п.14.1)	7. ответ 2 (ПДД гор. разм.п.1.17)
8. ответ 2 (ПДД п.6.10)	8. ответ 2 (ПДД п.18.2)	8. ответ 2 (ПДД знаки 2.1, 8.13)
9. ответ 4 (ПДД п.п.13.9, 13.11)	9. ответ 1 (ПДД п.8.3; знак 1.26)	9. ответ 3 (ПДД знаки 3.14, 8.1.1)
10. ответ 1 (ПДД знаки 1.2, 8.23)	10. ответ 1 (ПДД п.6.10)	10.ответ 1 (ПДД п.12.7)
11. ответ 2 (ПДД п.6.15)	11. ответ 2 (ПДД п.15.3)	11. ответ 3 (ПДД п.п.8.5, 8.7)
12. ответ 2 (ПДД п.14.7)	12. ответ 1 (ПДД п.13.13)	12. ответ 1 (ПДД знак 5.25)
13. ответ 2 (ПДД п.12.4)	13. ответ 1 (ПДД знаки 6.4, 8.17)	13. ответ 1 (ПДД гор.разм. п.1.1. 1.5)
14. ответ 2 (ПДД п.17.2)	14. ответ 1 (ПДД знак 4.2.2)	14. ответ 2 (ПДД п.6.2)
15. ответ 3 (ПДД п. 6.14)	15. ответ 2 (ПДД п.1.2, 23.1)	15.ответ 4 (ПДД знаки 1.13, 1.14)
16. ответ 2 (ПДД п.8.4)	16. ответ 2 (ПДД знак 5.27)	16.ответ 4 (ПДД п.8.11)
17. ответ 2 (ПДД п.11.4)	17. ответ 1 (ПДД знак 2.4)	17. ответ 2 (ПДД п.п.8.2, 18.3)
18. ответ 2 (ПДД п.15.3)	18. ответ 4 (ПДД знак 3.29)	18. ответ 3 (ПДД п.15.2, знак 2.5, 1.3.2)
19. ответ 2 (ПДД п.п.8.5, 9.3)	19. ответ 2 (ПДД п.15.3)	19. ответ 1 (ПДД гор.разм. п.1.11)
20. ответ 2 (ПДД знаки 4.3, 3.18.1)	20.ответ 1 (ПДД п. 12.4)	20.ответ 3 (ПДД п.6.3)
Билет 20	**Билет 23**	**Билет 26**
1. ответ 2 (ПДД п.13.5)	1. ответ 2 (ПДД п.12.4)	1. ответ 1 (ПДД п.13.6)
2. ответ 2 (ПДД п.12.4)	2. ответ 2 (ПДД знаки 1.5 - 1.33)	2. ответ 3 (ПДД п.3.4)
3. ответ 3 (ПДД п.15.3)	3. ответ 2 (ПДД знаки 2.1, 8.13)	3. ответ 2 (ПДД п.10.2)
4. ответ 2 (ПДД п.14.2)	4. ответ 2 (ПДД п.11.2)	4. ответ 2 (ПДД п.8.5)
5. ответ 2 (ПДД п.11.4)	5.ответ 1 (ПДД п.13.7)	5. ответ 2 (ЛДД знаки 3.1, 8.4.11)
6. ответ 3 (ПДД п.18.2, знак 5.14)	6. ответ 1 (ПДД знак 3.18.2)	6. ответ 3 (п.6.10)
7. ответ 2 (ПДД п.п.9.4, 9.5)	7. ответ 3 (ПДД п.п.2.5, 7.2)	7. ответ 3 (ПДД знак 2.5)
8. ответ 4 (ПДД п.п.8.11, 8.12,	8. ответ 3 (ПДД п.12.8)	8. ответ 2 (ПДД п.1.2, знаки 2.3,3, 2.1)
9. ответ 2 (гор. разм. п.1.13)	9. ответ 2 (ПДД п.7.2)	9. ответ 2 (ПДД п.23.4)
10. ответ 3 (ПДД п.6.10)	10.ответ 1 (ПДД п.20.3)	10.ответ 2 (ПДД п.1.2)
11. ответ 1 (ПДД знаки 1.2, 1.4.1)	11. ответ 3 (ПДД знак 1.11.1)	11. ответ 2 (ПДД п.12.4)
12. ответ 3 (ПДД п.8.5)	12. ответ 2 (ПДД п.15.3)	12. ответ 2 (гор. разм. п.1.23)
13. ответ 1 (ПДД знаки 2.1, 8.13)	13. ответ 2 (ПДД гор.разм. п.1.7)	13. ответ 1 (ПДД п.8.1)
14. ответ 3 (ПДД врем. знак 4.1.2)	14. ответ 2 (ПДД знаки 2.1, 8.13)	14. ответ 2 (ПДД п.14.5)
15. ответ 1 (ПДД знак 3.16)	15.ответ 2 (ПДД п.8.2)	15. ответ 2 (гор. разм., прил.2)
16. ответ 2 (ПДД гор. разм. 1.12)	16. ответ 4 (ПДД знаки 3.24, 8.1.1)	16. ответ 4 (ПДД знаки 3.3,3.4,3.6)
17. ответ 2 (ПДД п.18.2)	17. ответ 2 (ПДД п.9.11)	17. ответ 3 (ПДД знак 5.5)
18. ответ 2 (ПДД гор.разм.1.7)	18. ответ 3 (ПДД гор. разм. п.1.22)	18. ответ 2 (ПДД п.8.12)
19. ответ 2 (ПДД п.6.2, 15.3)	19. ответ 1 (ПДД п.19.3)	19.ответ 2 (п.11.4, знак 1.6)
20. ответ 1 (ПДД п.1.2)	20. ответ 3 (ПДД п. 12.2)	20. ответ 1 (ПДД п.14.6)
Билет 21	**Билет 24**	**Билет 27**
1. ответ 2 (ПДД п.1.2)	1. ответ 1 (ПДД п.1.2)	1.ответ 2 (гор. разм. п.1.9)
2. ответ 2 (ПДД знаки 2.1, 2.3.5)	2. ответ 2 (ПДД знаки 3.24, 3.28)	2.ответ 3 (ПДД знак 1.1)
3. ответ 2 (ПДД п.1.2)	3. ответ 3 (ПДД п.1.2, гор. разм.1.2.1)	3.ответ 3 (ПДД знаки 5.7.1, 5.7.2)
4. ответ 2 (ПДД п.8.4)	4. ответ 2 (ПДД п.15.3)	4.ответ 2 (ПДД п.п.6.2, 13.3)
5. ответ 2 (ПДД п.6.3)	5. ответ 3 (ПДД п.8.11)	5.ответ 3 (ПДД п.7.1)
6. ответ 2 (ПДД п.8.6, знак 5.7.2)	6. ответ 1 (ПДД знак 6.8.2)	6.ответ 1 (ПДД п.12.1)
7. ответ 2 (ПДД п.1.2)	7. ответ 2 (ПДД п.6.7, гор. разм.1.9)	7.ответ 2 (ПДД знак 6.3.1)
8. ответ 3 (ПДД п.22.8)	8. ответ 2 (ПДД п.9.9, гор. разм.1.1)	8.ответ 3 (ПДД п.1.2)
9. ответ 1 (ПДД гор.разм. п.1.15)	9. ответ 1 (ПДД знак 4.2.1)	9.ответ 1 (ПДД знаки 4.3, 2.4)
10. ответ 2 (ПДД п.20.2)	10. ответ 4 (ПДД п.12.4)	10.ответ 3 (ПДД п.23.2)
11. ответ 4 (ПДД п.1.3)	11. ответ 3 (ПДД знаки 3.29, 3.30)	11.ответ 2 (ПДД знак 2.4)
12. ответ 3 (ПДД знак 6.21.1)	12. ответ 2 (ПДД п.15.3)	12.ответ 1 (ПДД п.11.4)
13. ответ 3 (ПДД п.6.10)	13. ответ 1 (ПДД гор. разм. п.1.25)	13.ответ 2 (ПДД п.8.1)
14. ответ 3 (ПДД п.п.12.1, 16.1)	14. ответ 3 (ПДД знаки 2.1, 8.13)	14.ответ 2 (ПДД знак 5.11)
15. ответ 2 (ПДД п.20.2)	15.ответ 2 (ПДД п.18.1)	15.ответ 1 (ПДД п.12.4, знак 3.27)
16. ответ 2 (ПДД п.13.11, 13.12)	16. ответ 1 (верт. разм. п.2.1.1-2.1.3)	16.ответ 2 (ПДД знак 2.5)
17. ответ 3 (ПДД п.6.3)	17. ответ 5 (ПДД знаки 2.1, 2.3.1)	17.ответ 4 (ПДД п.9.3)
18. ответ 1 (ПДД п.6.11)	18. ответ 2 (ПДД гор. разм. п.1.3)	18.ответ 2 (ПДД п.15.1)
19. ответ 1 (ПДД п.12.1)	19. ответ 1 (ПДД знаки 3.27, 8.2.3)	19.ответ 2 (ПДД п.12.2)
20. ответ 1 (ПДД п.11.4)	20. ответ 2 (ПДД п.15.3)	20.ответ 3 (ПДД п.20.4)

Билет 28

1.ответ 1 (ПДД п.8.1)
2.ответ 2 (ПДД п.1.2)
3.ответ 2 (ПДД п.8.12)
4.ответ 2 (ПДД п.13.11)
5.ответ 1 (ПДД знак 1.1)
6.ответ 2 (ПДД п.6.2)
7.ответ 1 (ПДД знаки 2.1, 8.13)
8.ответ 2 (ПДД п.11.7)
9.ответ 3 (ПДД верт. разм. п.2.7)
10.ответ 2 (ПДД п.п. 3.2, 3.4)
11.ответ 2 (ПДД п.11.6)
12.ответ 3 (ПДД п.6.10)
13.ответ 5 (ПДД знак 1.34.3)
14.ответ 1 (ПДД п.3.5)
15.ответ 1 (ПДД п.6.15)
16.ответ 2 (ПДД п.13.11)
17.ответ 3 (ПДД п.8.6)
18.ответ 2 (ПДД п.14.1)
19.ответ 2 (ПДД п.11.4, 13.11)
20.ответ 3 (ПДД п.12.4)

Билет 29

1.ответ 1 (ПДД п.3.4)
2.ответ 2 (ПДД п.11.4, знак 1.13)
3.ответ 3 (ПДД п.10.3, знак 5.25)
4.ответ 3 (ПДД п.3.4, 13.11)
5.ответ 2 (ПДД п.3.1)
6.ответ 2(ПДД знак 1.31)
7.ответ 1 (ПДД гор. разм.1.19)
8.ответ 1 (ПДД знак 3.22)
9.ответ 2 (ПДД гор.разм. 1.17)
10.ответ 2 (ПДД п.13.4)
11.ответ 3 (ПДД п. 15.3)
12.ответ 1 (ПДД п. 8.4)
13.ответ 1 (ПДД знак 2.1)
14.ответ 2 (ПДД знак 3.17.2)
15.ответ 2 (ПДД п.10.1)
16.ответ 1 (ПДД прил. 1)
17.ответ 3 (ПДД п.14.1)
18.ответ 2 (ПДД п.9.5)
19.ответ 1 (ПДД гор. разм. п.1.8)
20.ответ 1 (ПДД знак 3.20)

Билет 30

1.ответ 4 (ПДД знаки 3.27 - 3.30)
2.ответ 3 (ПДД знак 4.1.1)
3.ответ 2 (ПДД п.13.3, 13.11)
4.ответ 3 (гор. разм. п.1.17)
5.ответ 4 (ПДД п.2.5)
6.ответ 1 (ПДД гор. разм.п.1.10)
7.ответ 2 (ПДД знак 4.1.4)
8.ответ 1 (ПДД п.13.11)
9.ответ 3 (ПДД п.11.4)
10.ответ 2 (ПДД п.6.8)
11.ответ 1 (ПДД п. 13.8)
12.ответ 5 (ПДД знаки 3.18.1, 3.19)
13.ответ 1 (ПДД п. 15.4)
14.ответ 2 (ПДД п. 6.2)
15.ответ 1 (ПДД знаки 6.4, 8.6.4)
16. ответ 1 (ПДД п.13.11)
17. ответ 1 (ПДД п.6.2)
18. ответ 2 (ПДД п.11.7)
19. ответ 2 (ПДД п.6.15)
20. ответ 2 (ПДД п.9.10)

Билет 31

1. ответ 2 (ПДД п.12.2)
2. ответ 3 (ПДД п.19.10)
3. ответ 1 (ПДД п.12.4)
4. ответ 2 (ПДД п.13.9)
5. ответ 1 (ПДД знак 4.1.1)
6.ответ 3 (ПДД знак 3.1)
7.ответ 2 (ПДД п.1.2;16.1, знак 5.1)
8.ответ 1 (ПДД п.1.2, гор. разм. п.1.3)
9.ответ 1 (ПДД п.3.2)
10.ответ 1 (ПДД п.6.15)
11.ответ 1 (гор. разм. п.1.11)
12.ответ 2 (ПДД п.12.4)
13.ответ 1 (ПДД п.13.6)
14.ответ 2 (ПДД п.8.2)
15.ответ 3 (ПДД п.8.12)
16.ответ 2 (ПДД п.13.11)
17.ответ 4 (ПДД п.8.11)
18.ответ 3 (ПДД п.6.10)
19.ответ 1 (ПДД п.8.1)
20.ответ 3 (ПДД п.6.3)

Билет 32

1.ответ 2 (ПДД п.13.11)
2.ответ 2 (ПДД п.14.4)
3.ответ 3 (ПДД п.15.3)
4.ответ 2 (ПДД п.20.4)
5.ответ 2 (ПДД п.17.1)
6.ответ 2 (ПДД п.7.3)
7.ответ 1 (ПДД п.12.1)
8.ответ 1 (ПДД п.19.2)
9.ответ 2 (ПДД п.18.3)
10.ответ 3 (ПДД п.9.5)
11.ответ 2 (ПДД п.20.3)
12.ответ 3 (ПДД п.19.1)
13.ответ 2 (ПДД знаки 5.19.1, 5.21)
14.ответ 2 (ПДД п.11.4)
15.ответ 2 (ПДД п. 23.4)
16.ответ 3 (ПДД знаки 3.2, 8.5.2)
17.ответ 2 (ПДД п.3.1)
18.ответ 2 (ПДД знаки 1.12.2, 8.2.1)
19.ответ 3 (ПДД п.19.10)
20.ответ 2 (ПДД п.19.5)

Билет 33

1.ответ 2 (ПДД п.8.4, 18.3)
2.ответ 2 (ПДД п.15.3)
3.ответ 2 (ПДД знак 2.6)
4.ответ 1 (ПДД знаки 2.1, 8.13)
5.ответ 1 (ПДД знак 6.19.1)
6.ответ 2 (ПДД гор. разм. п.1.2.1)
7.ответ 1 (ПДД знак 2.5)
8.ответ 1 (ПДД п.8.4)
9.ответ 1 (ПДД п.7.3)
10.ответ 2 (ПДД п.1.2)
11.ответ 1 (ПДД знак 5.22
12.ответ 2 (ПДД п. 8.11)
13.ответ 3 (ПДД гор. разм.1.1, п. 11.4)
14.ответ 2 (ПДД гор. разм. 1.1, п. 11.4
15.ответ 3 (ПДД знак 1.2)
16.ответ 1 (ПДД знаки 3.28, 5.24.2)
17.ответ 2 (ПДД п. 6.7)
18.ответ 1 (ПДД п.13.2)
19.ответ 1 (ПДД п.1.4, 8.6)
20.ответ 3 (ПДД п.1.2)

Билет 34

1.ответ 2 (ПДД п.1.2)
2.ответ 2 (ПДД гор. разм. п.1.11)
3.ответ 3 (ПДД п.13.1)
4.ответ 3 (ПДД п.23.4)
5.ответ 2 (ПДД знак 8.16)
6.ответ 2 (ПДД знак 3.18.2)
7.ответ 3 (ПДД п.12.2)
8.ответ 3 (ПДД п.13.1, 13.3, 13.4)
9.ответ 2 (ПДД знак 2.5)
10.ответ 2 (ПДД п.3.3)
11.ответ 2 (ПДД знак 3.28)
12.ответ 2 (ПДД знак 5.10)
13.ответ 3 (ПДД гор. разм.п.1.18)
14.ответ 1 (ПДД п.13.5)
15.ответ 2 (ПДД знак 8.1.2)
16.ответ 3 (ПДД п.13.3. 13.10)
17.ответ 3 (ПДД п.15.5)
18.ответ 3 (ПДД п.1.2. знак 5.33)
19.ответ 2 (ПДД п.16.2, 7.2)
20.ответ 1 (ПДД п.11.7. знак 1.14)

Билет 35

1. ответ 1 (ПДД п.1.2)
2. ответ 2 (ПДД п.13.11)
3. ответ 2 (ПДД п.15.4)
4. ответ 3 (ПДД прил.2 р.2 п.2.5)
5. ответ 2 (ПДД п.8.5)
6. ответ 3 (ПДД п.9.1)
7. ответ 2 (ПДД п.8.4)
8. ответ 3 (ПДД знак 1.3.2)
9. ответ 2 (ПДД п.8.8)
10. ответ 3(ПДД гор. разм. 1.24.2)
11. ответ 2 (ПДД п.13.5)
12. ответ 2 (ПДД п.12.4)
13. ответ 3 (ПДД п.15.3)
14. ответ 2 (ПДД п.14.2)
15. ответ 2 (ПДД п.11.4)
16. ответ 2 (ПДД п.1.2)
17. ответ 2 (ПДД знаки 2.1, 2.3.5)
18. ответ 2 (ПДД п.1.2)
19. ответ 2 (ПДД п.8.4)
20. ответ 2 (ПДД п.6.3)

Билет 36

1. ответ 1 (ПДД п.10.4)
2. ответ 2 (ПДД п.10.5)
3. ответ 1 (ПДД знак 5.20)
4. ответ 1 (ПДД п.13.9, 13.12)
5. ответ 5 (ПДД п.16.1)
6. ответ 2 (ПДД п.12.4)
7. ответ 2 (ПДД знаки 1.5 - 1.33)
8. ответ 2 (ПДД знаки 2.1, 8.13)
9. ответ 2 (ПДД п.11.2)
10.ответ 1 (ПДД п.13.7)
11. ответ 1 (ПДД п.1.2)
12. ответ 2 (ПДД знаки 3.24, 3.28)
13. ответ 3 (ПДД п.1.2, гор. разм.1.2.1)
14. ответ 2 (ПДД п.15.3)
15. ответ 3 (ПДД п.8.11)
16. ответ 2 (ПДД гор. разм.1.20)
17. ответ 2 (гор. разм. 1.4)
18. ответ 4 (гор. разм.1.5)
19. ответ 2 (ПДД знаки 5.23.1, 5.23.2)
20. ответ 2 (ПДД знак 4.3)

Билет 37	Билет 40	Билет 43
1. ответ 1 (ПДД п.13.6)	1. ответ 2 (ПДД п.8.6, знак 5.7.2)	1.ответ 2 (ПДД гориз.разм. п.1.2.1)
2. ответ 3 (ПДД п.3.4)	2. ответ 2 (ПДД п.1.2)	2.ответ 1 (ПДД знак 2.5)
3. ответ 2 (ПДД п.10.2)	3. ответ 3 (ПДД п.22.8)	3.ответ 1 (ПДД п.8.4)
4. ответ 2 (ПДД п.8.5)	4. ответ 1 (ПДД гор. разм. п.1.15)	4.ответ 1 (ПДД п.7.3)
5.ответ 2 (ЛДД знаки 3.1, 8.4.11)	5. ответ 2 (ПДД п.20.2)	5.ответ 2 (ПДД п.1.2)
6.ответ 2 (гор. разм. п.1.9)	6. ответ 1 (ПДД знаки 6.4, 8.17)	6.ответ 2 (ПДД знак 3.18.2)
7.ответ 3 (ПДД знак 1.1)	7. ответ 1 (ПДД п.14.1)	7.ответ 3 (ПДД п.12.2)
8.ответ 1 (ПДД знаки 5.7.1, 5.7.2)	8. ответ 2 (ПДД п.18.2)	8.ответ 3 (ПДД п.13.1, 13.3, 13.4)
9.ответ 2 (ПДД п.6.2, 13.3)	9.ответ 1 (ПДД п.8.3, знак 1.26)	9.ответ 2 (ПДД знак 2.5)
10.ответ 3 (ПДД п.7.1)	10. ответ 1 (ПДД п.6.10)	10.ответ 2 (ПДД п.3.3)
11.ответ 1 (ПДД п.8.1)	11. ответ 1 (ПДД знак 3.18.2)	11. ответ 4 (ПДД п.1.2)
12.ответ 2 (ПДД п.1.2)	12. ответ 3 (ПДД п.п.2.5, 7.2)	12. ответ 2 (ПДД п.12.4)
13.ответ 2 (ПДД п.8.12)	13. ответ 3 (ПДД п.12.8)	13. ответ 3 (знак 3.6)
14.ответ 2 (ПДД п.13.11)	14. ответ 2 (ПДД п.7.2)	14. ответ 2 (ПДД п.7.2)
15.ответ 1 (ПДД знак 1.1)	15.ответ 1 (ПДД п.20.3)	15. ответ 1 (ПДД п.6.9)
16.ответ 1 (ПДД п.3.4)	16. ответ 1 (ПДД знак 6.8.2)	16. ответ 2 (ПДД п.6.15)
17.ответ 2 (ПДД п.11.4, знак 1.13)	17. ответ 2 (ПДД п.6.7, гор. разм.1.9)	17. ответ 2 (ПДД п.14.7)
18.ответ 3 (ПДД п. 10.3, знак 5.25)	18. ответ 2 (ПДД п.9.9, гор. разм.1.1)	18. ответ 2 (ПДД п.12.4)
19.ответ 3 (ПДД п.3.4, 13.11)	19. ответ 1 (ПДД знак 4.2.1)	19. ответ 2 (ПДД п.17.2)
20.ответ 2 (ПДД п.3.1)	20. ответ 4 (ПДД п.12.4)	20. ответ 3 (ПДД п. 6.14)
Билет 38	**Билет 41**	**Билет 44**
1.ответ 4 (ПДД знаки 3.27 - 3.30)	1. ответ 2 (ПДД п.6.15)	1. ответ 1 (ПДД знаки 1.2, 1.4.1)
2.ответ 3 (ПДД знак 4.1.1)	2. ответ 2 (ПДД гор. разм.п.1.17)	2. ответ 3 (ПДД п.8.5)
3.ответ 2 (ПДД п.13.3, 13.11)	3. ответ 2 (ПДД знаки 2.1, 8.13)	3. ответ 1 (ПДД знаки 2.1, 8.13)
4.ответ 3 (гор. разм. п.1.17)	4. ответ 3 (ПДД знаки 3.14, 8.1.1)	4. ответ 3 (ПДД врем. знак 4.1.2)
5.ответ 4 (ПДД п.2.5)	5.ответ 1 (ПДД п.12.7)	5. ответ 1 (ПДД знак 3.16)
6. ответ 2 (ПДД п.12.2)	6.ответ 1 (знаки 3.24, 8.14)	6. ответ 4 (ПДД п.1.3)
7. ответ 3 (ПДД п.19.10)	7. ответ 3 (ПДД знак 2.5)	7. ответ 3 (ПДД знак 6.21.1)
8. ответ 3 (ПДД п.12.4)	8. ответ 2 (ПДД п.1.2, знаки 2.3,3, 2.1)	8. ответ 3 (ПДД п.6.10)
9. ответ 2 (ПДД п.13.9)	9. ответ 2 (ПДД п.23.4)	9. ответ 3 (ПДД п.12.1, 16.1)
10.ответ 1 (ПДД знак 4.1.1)	10.ответ 2 (ПДД п.1.2)	10. ответ 2 (ПДД п.20.2)
11.ответ 2 (ПДД п.13.11)	11.ответ 1 (ПДД п.12.1)	11. ответ 2 (ПДД п.15.3)
12.ответ 2 (ПДД п.14.4)	12.ответ 2 (ПДД знак 6.3.1)	12. ответ 1 (ПДД п.13.13)
13.ответ 3 (ПДД п.15.3)	13.ответ 3 (ПДД п.1.2)	13. ответ 2 (ПДД п.13.11)
14.ответ 2 (ПДД п.20.4)	14.ответ 1 (ПДД знаки 4.3, 2.4)	14. ответ 1 (ПДД знак 4.2.2)
15.ответ 2 (ПДД п.17.1)	15.ответ 3 (ПДД п.23.2)	15. ответ 2 (ПДД п.1.2, 23.1)
16.ответ 2 (ПДД п.8.4, 18.3)	16.ответ 2 (ПДД п.6.2)	16. ответ 3 (ПДД знак 1.11.1)
17.ответ 2 (ПДД п.15.3)	17.ответ 1 (ПДД знаки 2.1, 8.13)	17. ответ 2 (ПДД п.15.3)
18.ответ 2 (ПДД 2.6)	18.ответ 2 (ПДД п.11.7)	18. ответ 2 (ПДД гор. разм. п.1.7)
19.ответ 1 (ПДД знаки 2.1, 8.13)	19.ответ 3 (ПДД верт. разм. п.2.7)	19. ответ 2 (ПДД знаки 2.1, 8.13)
20.ответ 1 (ПДД знак 6.19.1)	20.ответ 2 (ПДД п.п. 3.2, 3.4)	20.ответ 2 (ПДД п.8.2)
Билет 39	**Билет 42**	**Билет 45**
1.ответ 2 (ПДД п.1.2)	1.ответ 2(ПДД знак 1.31)	1. ответ 3 (ПДД знаки 3.29, 3.30)
2.ответ 2 (ПДД гор. разм. п.1.11)	2.ответ 1 (ПДД гор. разм.1.19)	2. ответ 2 (ПДД п.15.3)
3.ответ 3 (ПДД п.13.1)	3.ответ 1 (ПДД знак 3.22)	3. ответ 1 (ПДД гор. разм. п.1.25)
4.ответ 3 (ПДД п.23.4)	4.ответ 2 (ПДД гор. разм. 1.17)	4. ответ 4 (ПДД знак 2.7)
5.ответ 2 (ПДД знак 8.16)	5.ответ 2 (ПДД п.13.4)	5.ответ 2 (ПДД п.18.1)
6. ответ 4 (ПДД п.13.3)	6.ответ 1 (ПДД гор. разм.п.1.10)	6. ответ 3 (ПДД п.п.8.5, 8.7)
7. ответ 2 (ПДД п.3.4)	7.ответ 2 (ПДД знак 4.1.4)	7. ответ 1 (ПДД знак 5.25)
8. ответ 1 (ПДДп. 6.10)	8.ответ 1 (ПДД п.13.11)	8. ответ 1 (ПДД гор. разм. п.1.1. 1.5)
9. ответ 1 (ПДД п.13.1)	9.ответ 3 (ПДД п.11.4)	9. ответ 2 (ПДД п.6.2)
10. ответ 3 (ПДД знак 5.5)	10.ответ 4 (ПДД знаки 1.13, 1.,14)	10.ответ 2 (ПДД п.6.8)
11. ответ 2 (ПДД п.2.7)	11.ответ 3 (ПДД знак 3.1)	11. ответ 2 (ПДД п.12.4)
12 ответ 3 (ПДД знак 3.7)	12.ответ 2 (ПДД п.1.2;16.1, знак 5.1)	12. ответ 2 (гор. разм. п.1.23)
13. ответ 1 (ПДД п.11.4, знак 2.1)	13.ответ 1 (гор. разм. п.1.3)	13. ответ 1 (ПДД п.8.1)
14. ответ 4 (ПДД п.п.13.9, 13.11)	14.ответ 1 (ПДД п.3.2)	14. ответ 2 (ПДД п.14.5)
15. ответ 1 (ПДД знаки 1.2, 8.23)	15.ответ 1 (ПДД п.6.15)	15. ответ 2 (гор. разм., прил.2)
16. ответ 3 (ПДД п.18.2, знак 5.14)	16.ответ 2 (ПДД п.7.3)	16.ответ 2 (ПДД знак 2.4)
17. ответ 2 (ПДД п.9.4, 9.5)	17.ответ 1 (ПДД п.12.1)	17.ответ 1 (ПДД п.11.4)
18. ответ 4 (ПДД п.8.11, 8.12,	18.ответ 1 (ПДД п.19.2)	18.ответ 2 (ПДД п.8.1)
19. ответ 2 (гор. разм. п.1.13)	19.ответ 2 (ПДД п.18.3)	19.ответ 2 (ПДД знак 5.11)
20. ответ 3 (ПДД п. 6.10)	20.ответ 3 (ПДД п.9.5)	20.ответ 1 (ПДД п.12.4, знак 3.27)

Билет 46

1.ответ 2 (ПДД п.11.6)
2.ответ 3 (ПДД п.6.10)
3.ответ 5 (ПДД знак 1.34.3)
4.ответ 1 (ПДД п.3.5)
5.ответ 1 (ПДД п.6.15)
6.ответ 3 (ПДД п. 15.3)
7.ответ 1 (ПДД п. 8.4)
8.ответ 1 (ПДД знак 2.1)
9.ответ 2 (ПДД знак 3.17.2)
10.ответ 2 (ПДД п.10.1)
11.ответ 1 (ПДД п. 13.8)
12.ответ 2 (ПДД п.8.2)
13.ответ 1 (ПДД п. 15.4)
14.ответ 2 (ПДД п. 6.2)
15.ответ 1 (ПДД знаки 6.4, 8.6.4)
16.ответ 1 (гор. разм. п.1.11)
17.ответ 2 (ПДД п.12.4)
18.ответ 1 (ПДД п.13.6)
19.ответ 5 (ПДД знаки 3.18.1, 3.19)
20.ответ 3 (ПДД п.8.12)

Билет 47

1.ответ 2 (ПДД п.20.3)
2.ответ 3 (ПДД п.19.1)
3.ответ 3 (ПДД гор. разм. 1.12)
4.ответ 2 (ПДД п.11.4)
5.ответ 2 (ПДД п. 23.4)
6.ответ 1 (ПДД знак 5.22
7.ответ 2 (ПДД п. 8.11)
8.ответ 2 (ПДД знаки 5.19.1, 5.21)
9.ответ 2 (ПДД гор. разм.1.1, п. 11.4)
10.ответ 3 (ПДД знак 1.2)
11.ответ 2 (ПДД знак 3.28)
12.ответ 2 (ПДД знак 5.10)
13.ответ 3 (ПДД гор. разм.п.1.18)
14.ответ 1 (ПДД п.13.5)
15.ответ 2 (ПДД знак 8.1.2)
16. ответ 2 (ПДД знак 6.3.2)
17. ответ 1 (ПДД п.15.4)
18. ответ 2 (верт. разм. п.2.2)
19. ответ 1 (ПДД п.13.11)
20. ответ 3 (ПДД п.3.5)

Билет 48

1. ответ 5 (ПДД знаки 2.1, 2.3.1)
2. ответ 2 (ПДД п.11.4)
3. ответ 2 (ПДД п.15.3)
4. ответ 2 (ПДД п.п.8.5, 9.3)
5. ответ 2 (ПДД знаки 4.3, 3.18.1)
6. ответ 2 (ПДД гор. разм. 1.12)
7. ответ 2 (ПДД п.18.2)
8. ответ 2 (ПДД гор. разм.1.7)
9. ответ 2 (ПДД п.6.2, 15.3)
10. ответ 1 (ПДД п.1.2)
11. ответ 2 (ПДД п.13.11, 13.12)
12. ответ 3 (ПДД п.6.3)
13. ответ 3 (ПДД знаки 5.33)
14. ответ 1 (ПДД п.12.1)
15. ответ 1 (ПДД п.11.4)
16. ответ 2 (ПДД знак 5.27)
17. ответ 1 (ПДД знак 2.4)
18. ответ 4 (ПДД знак 3.29)
19. ответ 2 (ПДД п.15.3)
20.ответ 1 (ПДД п. 12.4)

Билет 49

1. ответ 4 (ПДД знаки 3.24, 8.1.1)
2. ответ 2 (ПДД п.9.11)
3. ответ 3 (ПДД гор. разм. п.1.22)
4. ответ 1 (ПДД п.19.3)
5. ответ 3 (ПДД п.12.2)
6. ответ 1 (верт. разм. п.2.1.1-2.1.3)
7. ответ 2 (ПДД п. 8.4)
8. ответ 2 (ПДД гор.разм. п.1.3)
9. ответ 1 (ПДД знаки 3.27, 8.2.3)
10. ответ 2 (ПДД п.15.3)
11. ответ 1 (ПДД п.6.11)
12. ответ 2 (ПДД п.8.2, 18.3)
13. ответ 3 (ПДД п.15.2, знак 1.3.2)
14. ответ 1 (ПДД гор. разм. п.1.11)
15.ответ 3 (ПДД п.6.3)
16. ответ 4 (ПДД знаки 3.3, 3.4, 3.6)
17. ответ 3 (ПДД знак 5.5)
18. ответ 2 (ПДД п.8.12)
19.ответ 2 (п.11.4, знак 1.6)
20. ответ1 (ПДД п.14.6)

Билет 50

1.ответ 2 (ПДД знак 2.5)
2.ответ 4 (ПДД п.9.3)
3.ответ 2 (ПДД п.15.1)
4.ответ 2 (ПДД п.12.2)
5.ответ 3 (ПДД п.20.4)
6.ответ 2 (ПДД п.13.11)
7.ответ 3 (ПДД п.8.6)
8.ответ 2 (ПДД п.14.1)
9.ответ 1 (ПДД п.11.4, 13.11)
10.ответ 3 (ПДД п.12.4)
11.ответ 1 (ПДД прил.1)
12.ответ 3 (ПДД п.14.1)
13.ответ 2 (ПДД п.9.5)
14.ответ 1 (ПДД гор. разм. п.1.8)
15.ответ 1 (ПДД знак 3.20)
16. ответ 1 (ПДД п.13.11)
17. ответ 1 (ПДД п.6.2)
18. ответ 2 (ПДД п.11.7)
19. ответ 2 (ПДД п.6.15)
20. ответ 2 (ПДД п.15.5 примечание)